教材おきば の

これだけ、安心

算数ドリル

1－03

Light

小学１年生

もくじ

①	コップの みずは どれが おおい	１ページ
②	かずの ならびかた かん字で	１ページ
③	□ばんめを ぬりましょう	１ページ
④	ふやしてみよう	１ページ
⑤	ちがいは いくつ	１ページ
⑥	かずしらべ	１ページ
⑦	３つのかずのたしざん	１ページ
⑧	３つのかずのけいさん(1)	ページ
⑨	３つのかずのけいさん(2)	１ページ
⑩	３つのかずのたしざん さいころをつかって	１ページ
⑪	さくらんぼ けいさん	１ページ
⑫	たしざんをつかって あんごうを とこう	２ページ
⑬	てんを つないで	１ページ
	合計	１４ページ

© 2022 kyozai-okiba.com

どれが おおい

ねん　　くみ

なまえ

/ 4

■ みずが いちばんおおい コップ(こっぷ)に まる(○)を つけましょう。

①

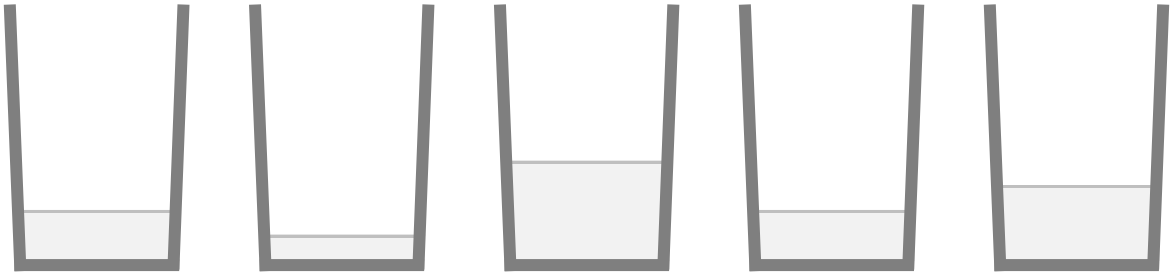

(　　)　(　　)　(　　)　(　　)　(　　)

②

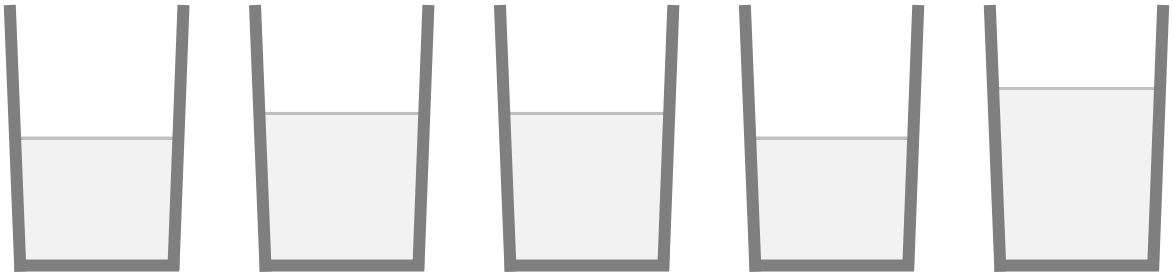

(　　)　(　　)　(　　)　(　　)　(　　)

③



(　　)　(　　)　(　　)　(　　)　(　　)

④

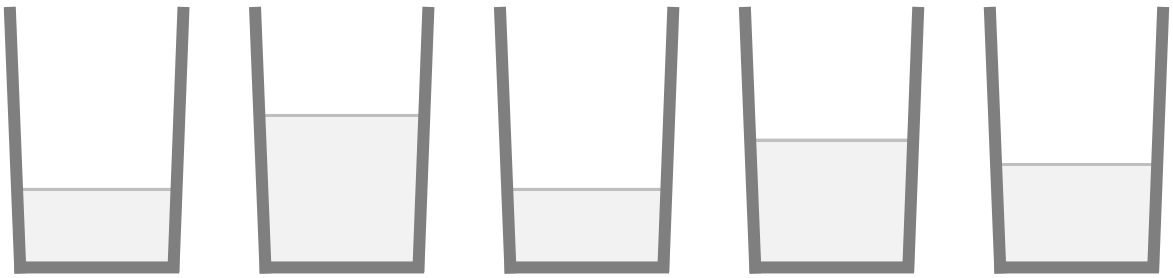

(　　)　(　　)　(　　)　(　　)　(　　)

かずの ならびかた

ねん　　くみ

なまえ

/ 8

■ □ に はいる かずを かん字で かきましょう。

① あ－七－六－い－四

あ　　い

② 五－う－七－え－九

う　　え

③ 六－お－四－三－か

お　　か

④ き－四－五－六－く

き　　く

なんばんめ

ねん　　くみ

なまえ

/ 5

① うしろから 6ばんめ の まる(〇) を ぬりましょう。

← 〇 〇 〇 〇 〇 〇 〇 〇 〇 →

まえ　　うしろ

② まえから 5ばんめ の まる(〇) を ぬりましょう。

← 〇 〇 〇 〇 〇 〇 〇 〇 〇 →

まえ　　うしろ

③ うしろから 7ばんめ の まる(〇) を ぬりましょう。

← 〇 〇 〇 〇 〇 〇 〇 〇 〇 →

まえ　　うしろ

④ うしろから 3ばんめ の まる(〇) を ぬりましょう。

← 〇 〇 〇 〇 〇 〇 〇 〇 〇 →

まえ　　うしろ

⑤ まえから 6ばんめ の まる(〇) を ぬりましょう。

← 〇 〇 〇 〇 〇 〇 〇 〇 〇 →

まえ　　うしろ

ふやしてみよう

ねん　　くみ

なまえ

/ 6

■ まる (○) が 4つ あります。

① まる (○) を 3つ ふやしましょう。

○	○	○	○					

② まる (○) は ぜんぶで なんこ に なりましたか。

こ

■ さんかく (△) が 2つ あります。

③ さんかく (△) を 3つ ふやしましょう。

△	△							

④ さんかく (△) は ぜんぶで なんこ に なりましたか。

こ

■ しかく (□) が 6つ あります。

⑤ しかく (□) を 3つ ふやしましょう。

□	□	□	□	□	□			

⑥ しかく (□) は ぜんぶで なんこ に なりましたか。

こ

ちがいは いくつ

ねん　　くみ

なまえ

/ 6

① おおいほうの かたち を こたえましょう。

② ①でこたえた かたち のほうが なんこ おおいですか。

こ

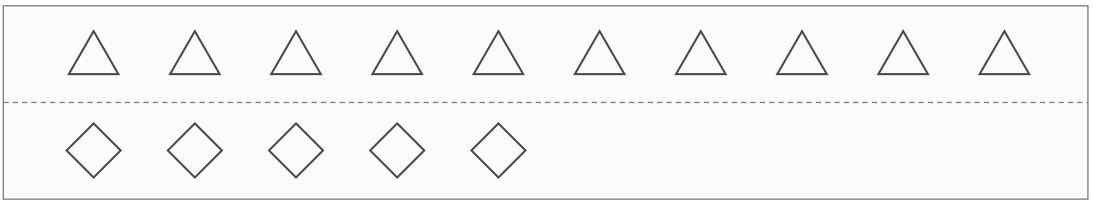

③ おおいほうの かたち を こたえましょう。

④ ③でこたえた かたち のほうが なんこ おおいですか。

こ

⑤ おおいほうの かたち を こたえましょう。

⑥ ⑤でこたえた かたち のほうが なんこ おおいですか。

こ

かずしらべ

ねん　　くみ

なまえ

/ 5

■ かず を せいりして しらべます。



① うえの ず と おなじ かずだけ ひだりから いろを ぬりましょう。

ほし	☆	☆	☆	☆	☆	☆	☆	☆	☆	☆
はあと	♡	♡	♡	♡	♡	♡	♡	♡	♡	♡
まる	○	○	○	○	○	○	○	○	○	○

② いちばん おおいのは どれですか。

③ いちばん すくないのは どれですか。

3つのかずのたしざん

ねん　　くみ

なまえ

/10

■ つぎのたしざんをしましょう。

① 2 ＋ 8 ＋ 6 ＝

② 9 ＋ 1 ＋ 9 ＝

③ 1 ＋ 3 ＋ 1 ＝

④ 1 ＋ 7 ＋ 1 ＝

⑤ 5 ＋ 2 ＋ 2 ＝

⑥ 2 ＋ 1 ＋ 1 ＝

⑦ 1 ＋ 9 ＋ 2 ＝

⑧ 8 ＋ 2 ＋ 4 ＝

⑨ 3 ＋ 5 ＋ 2 ＝

⑩ 6 ＋ 2 ＋ 1 ＝

3つのかずのけいさん(1)

ねん　　くみ

なまえ

/10

■ つぎのけいさんをしましょう。

① 10 − 4 − 4 ＝

② 8 − 4 − 1 ＝

③ 10 − 5 − 2 ＝

④ 3 − 1 − 1 ＝

⑤ 9 − 2 − 6 ＝

⑥ 14 − 4 − 1 ＝

⑦ 9 − 4 − 1 ＝

⑧ 19 − 9 − 2 ＝

⑨ 18 − 8 − 3 ＝

⑩ 10 − 1 − 6 ＝

3つのかずのけいさん(2)

ねん　　くみ

なまえ

/10

■ つぎのけいさんをしましょう。

① 9 − 2 ＋ 1 ＝

② 3 − 1 ＋ 1 ＝

③ 8 − 3 ＋ 2 ＝

④ 5 − 1 ＋ 6 ＝

⑤ 13 − 3 ＋ 7 ＝

⑥ 18 − 8 ＋ 4 ＝

⑦ 5 − 2 ＋ 5 ＝

⑧ 9 − 7 ＋ 4 ＝

⑨ 9 − 1 ＋ 2 ＝

⑩ 15 − 5 ＋ 9 ＝

3つのかずの たしざん

ねん　　くみ

なまえ

/ 5

■ 3つのさいころをなげます。3つのさいころの でためのかず をたしましょう。

①

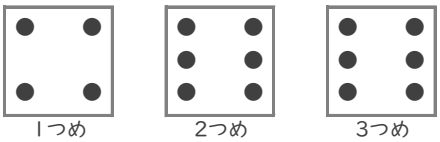

1つめ　2つめ　3つめ

(しき)

たしたこたえ

②



1つめ　2つめ　3つめ

(しき)

たしたこたえ

③



1つめ　2つめ　3つめ

(しき)

たしたこたえ

④



1つめ　2つめ　3つめ

(しき)

たしたこたえ

⑤



1つめ　2つめ　3つめ

(しき)

たしたこたえ

さくらんぼ けいさん

ねん　　くみ

なまえ

/ 12

■ うしろの かずを わけて、10をこえる たしざんを しましょう。

① 6 ＋ 8 ＝ □

たして10　4　4

② 7 ＋ 6 ＝ □

③ 5 ＋ 8 ＝ □

④ 6 ＋ 6 ＝ □

⑤ 6 ＋ 9 ＝ □

⑥ 6 ＋ 5 ＝ □

⑦ 9 ＋ 3 ＝ □

⑧ 7 ＋ 9 ＝ □

⑨ 9 ＋ 2 ＝ □

⑩ 9 ＋ 9 ＝ □

⑪ 8 ＋ 9 ＝ □

⑫ 4 ＋ 9 ＝ □

たしざんを つかって

ねん　　くみ

なまえ

/ 6

■ たしざんをつかって あんごうを ときましょう。

①

6＋6	9＋9	9＋8	8＋8

7＋7	5＋6	8＋5	6＋9

11．じ	12．む	13．び	14．く	15．き
16．き	17．さ	18．ら	19．い	20．さ

②

7＋7	9＋2	8＋8	9＋6

8＋10	8＋5	9＋10	10＋10

11．ず	12．お	13．し	14．す	15．し
16．む	17．す	18．け	19．ご	20．む

③

9＋2	7＋9	10＋10	10＋8

6＋8	7＋5	10＋9	9＋8

11．む	12．う	13．な	14．こ	15．た
16．し	17．り	18．ご	19．も	20．か

たしざんを つかって

ねん　　くみ

なまえ

/ 6

■ たしざんをつかって あんごうを ときましょう。

①

8＋10	6＋8	10＋9	9＋3

10＋10	5＋8	9＋7	8＋7

11．あ　12．ん　13．ん　14．う　15．つ
16．ぴ　17．ひ　18．こ　19．え　20．え

②

10＋8	3＋9	9＋10	8＋8

8＋9	8＋3	7＋6	7＋8

11．く　12．こ　13．が　14．ふ　15．き
16．げ　17．ら　18．た　19．あ　20．や

③

3＋8	9＋10	4＋9	3＋9

10＋10	8＋10	7＋9	6＋8

11．や　12．く　13．に　14．り　15．あ
16．わ　17．た　18．ま　19．き　20．ひ

かたちづくり

ねん　　くみ

なまえ

/ 4

■ てんを せんで つないで おてほんの かたちを つくりましょう。

①

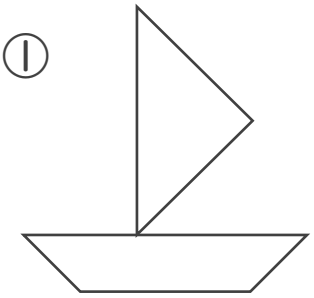

②

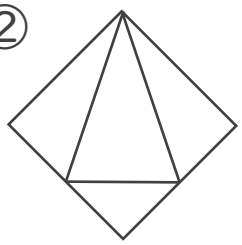

③

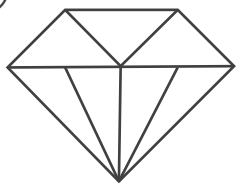

④

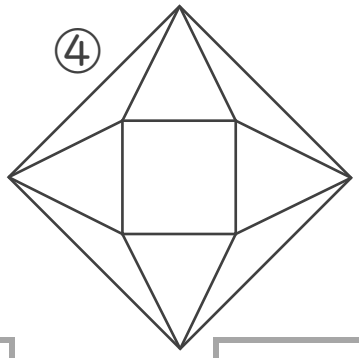

どれが おおい

ねん　　くみ

なまえ

/ 4

■ みずが いちばんおおい コップ(こっぷ)に まる(○)を つけましょう。

①

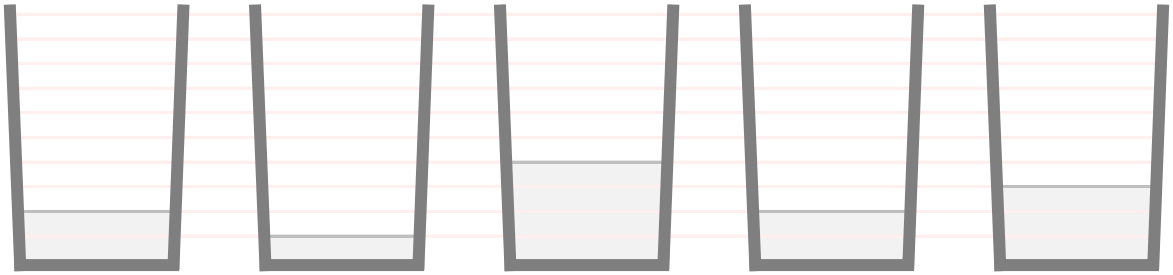

(　　)　(　　)　(　○　)　(　　)　(　　)

②

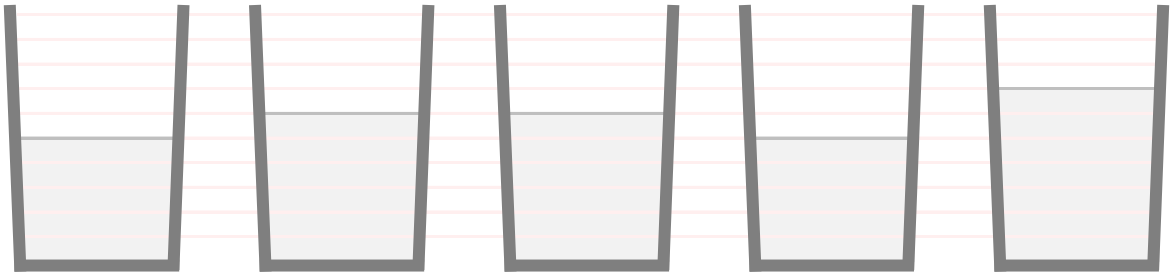

(　　)　(　　)　(　　)　(　　)　(　○　)

③

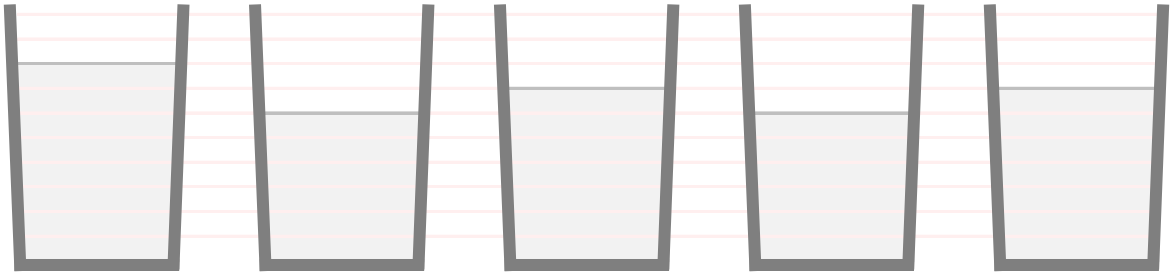

(　○　)　(　　)　(　　)　(　　)　(　　)

④

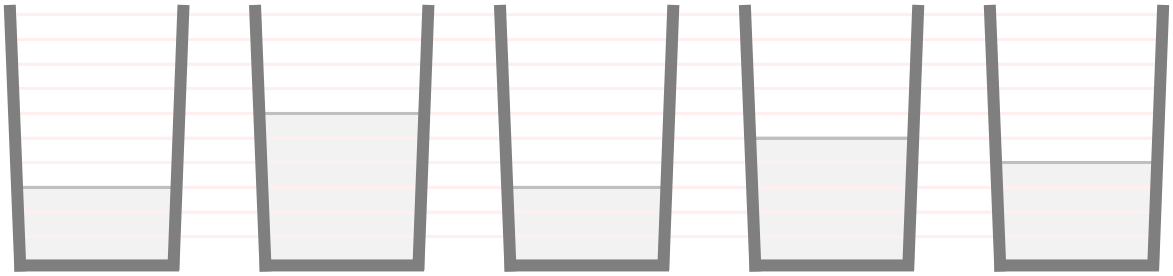

(　　)　(　○　)　(　　)　(　　)　(　　)

かずの ならびかた

ねん　　くみ

なまえ

/ 8

■ □ に はいる かずを かん字で かきましょう。

① あ - 七 - 六 - い - 四

あ 八　　い 五

② 五 - う - 七 - え - 九

う 六　　え 八

③ 六 - お - 四 - 三 - か

お 五　　か 二

④ き - 四 - 五 - 六 - く

き 三　　く 七

なんばんめ

ねん　　くみ

なまえ

/ 5

① うしろから 6ばんめ の まる(〇) を ぬりましょう。

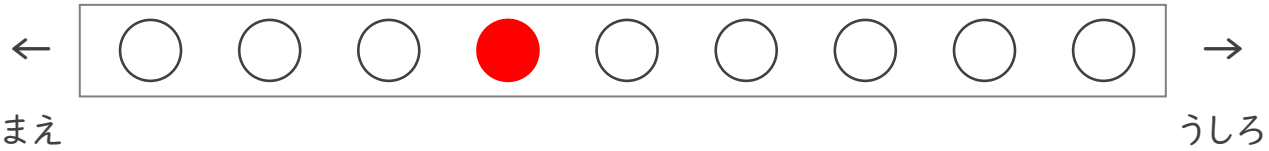

② まえから 5ばんめ の まる(〇) を ぬりましょう。



③ うしろから 7ばんめ の まる(〇) を ぬりましょう。

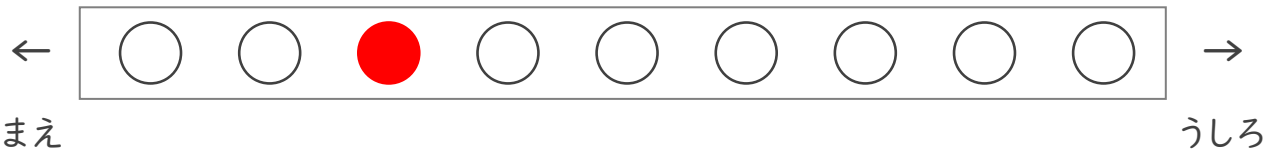

④ うしろから 3ばんめ の まる(〇) を ぬりましょう。

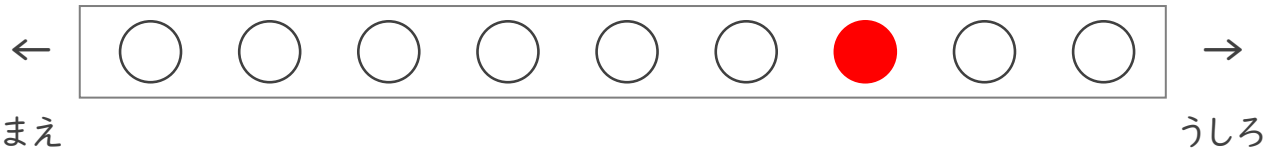

⑤ まえから 6ばんめ の まる(〇) を ぬりましょう。

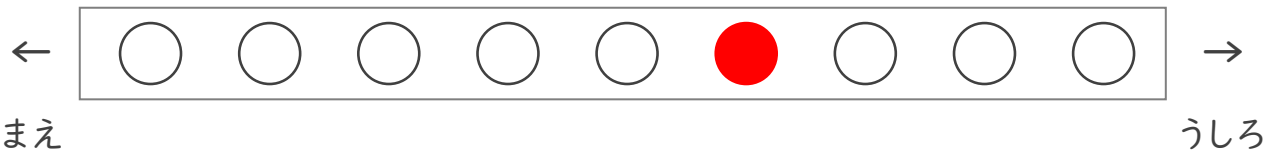

ふやしてみよう

ねん　　くみ

なまえ

/ 6

■ まる (○) が 4つ あります。

① まる (○) を 3つ ふやしましょう。

○	○	○	○	○	○	○		

② まる (○) は ぜんぶで なんこ に なりましたか。

7 こ

■ さんかく (△) が 2つ あります。

③ さんかく (△) を 3つ ふやしましょう。

△	△	△	△	△				

④ さんかく (△) は ぜんぶで なんこ に なりましたか。

5 こ

■ しかく (□) が 6つ あります。

⑤ しかく (□) を 3つ ふやしましょう。

□	□	□	□	□	□	□	□	□

⑥ しかく (□) は ぜんぶで なんこ に なりましたか。

9 こ

ちがいは いくつ

ねん　　くみ

なまえ

/ 6

① おおいほうの かたち を こたえましょう。



② ①でこたえた かたち のほうが なんこ おおいですか。

2 こ

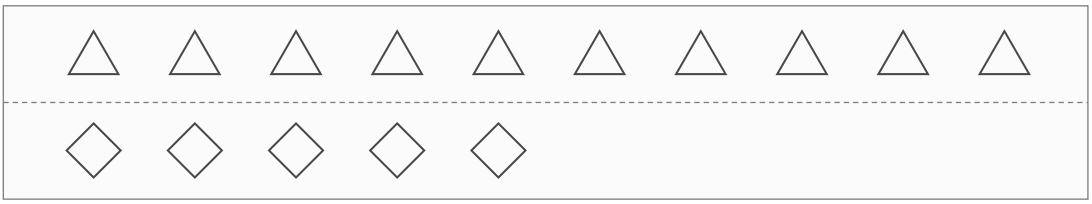

③ おおいほうの かたち を こたえましょう。



④ ③でこたえた かたち のほうが なんこ おおいですか。

5 こ

⑤ おおいほうの かたち を こたえましょう。

⑥ ⑤でこたえた かたち のほうが なんこ おおいですか。

7 こ

かずしらべ

ねん　　くみ

なまえ

/ 5

■ かず を せいりして しらべます。



① うえの ず と おなじ かずだけ ひだりから いろを ぬりましょう。



② いちばん おおいのは どれですか。

まる

③ いちばん すくないのは どれですか。

はあと

3つのかずのたしざん

ねん　　くみ

なまえ

/10

■ つぎのたしざんをしましょう。

① 2 ＋ 8 ＋ 6 ＝ 16

② 9 ＋ 1 ＋ 9 ＝ 19

③ 1 ＋ 3 ＋ 1 ＝ 5

④ 1 ＋ 7 ＋ 1 ＝ 9

⑤ 5 ＋ 2 ＋ 2 ＝ 9

⑥ 2 ＋ 1 ＋ 1 ＝ 4

⑦ 1 ＋ 9 ＋ 2 ＝ 12

⑧ 8 ＋ 2 ＋ 4 ＝ 14

⑨ 3 ＋ 5 ＋ 2 ＝ 10

⑩ 6 ＋ 2 ＋ 1 ＝ 9

3つのかずのけいさん(1)

ねん　　くみ

なまえ

/10

■ つぎのけいさんをしましょう。

① 10 − 4 − 4 ＝ 2

② 8 − 4 − 1 ＝ 3

③ 10 − 5 − 2 ＝ 3

④ 3 − 1 − 1 ＝ 1

⑤ 9 − 2 − 6 ＝ 1

⑥ 14 − 4 − 1 ＝ 9

⑦ 9 − 4 − 1 ＝ 4

⑧ 19 − 9 − 2 ＝ 8

⑨ 18 − 8 − 3 ＝ 7

⑩ 10 − 1 − 6 ＝ 3

3つのかずのけいさん(2)

ねん　　くみ

なまえ

/10

■ つぎのけいさんをしましょう。

① 9 − 2 ＋ 1 ＝ 8

② 3 − 1 ＋ 1 ＝ 3

③ 8 − 3 ＋ 2 ＝ 7

④ 5 − 1 ＋ 6 ＝ 10

⑤ 13 − 3 ＋ 7 ＝ 17

⑥ 18 − 8 ＋ 4 ＝ 14

⑦ 5 − 2 ＋ 5 ＝ 8

⑧ 9 − 7 ＋ 4 ＝ 6

⑨ 9 − 1 ＋ 2 ＝ 10

⑩ 15 − 5 ＋ 9 ＝ 19

3つのかずの たしざん

ねん　　くみ

なまえ

/ 5

■ 3つのさいころをなげます。3つのさいころの でためのかず をたしましょう。

①

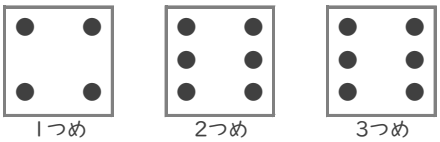

1つめ　2つめ　3つめ

(しき)

4 ＋ 6 ＋ 6 ＝ 16

たしたこたえ

16

②



1つめ　2つめ　3つめ

(しき)

3 ＋ 5 ＋ 2 ＝ 10

たしたこたえ

10

③



1つめ　2つめ　3つめ

(しき)

3 ＋ 5 ＋ 3 ＝ 11

たしたこたえ

11

④



1つめ　2つめ　3つめ

(しき)

1 ＋ 5 ＋ 3 ＝ 9

たしたこたえ

9

⑤



1つめ　2つめ　3つめ

(しき)

5 ＋ 5 ＋ 6 ＝ 16

たしたこたえ

16

さくらんぼ けいさん

ねん　　くみ

なまえ

/ 12

■ うしろの かずを わけて、10をこえる たしざんを しましょう。

① 6 ＋ 8 ＝ 14

たして10

4　4

② 7 ＋ 6 ＝ 13

3　3

③ 5 ＋ 8 ＝ 13

5　3

④ 6 ＋ 6 ＝ 12

4　2

⑤ 6 ＋ 9 ＝ 15

4　5

⑥ 6 ＋ 5 ＝ 11

4　1

⑦ 9 ＋ 3 ＝ 12

1　2

⑧ 7 ＋ 9 ＝ 16

3　6

⑨ 9 ＋ 2 ＝ 11

1　1

⑩ 9 ＋ 9 ＝ 18

1　8

⑪ 8 ＋ 9 ＝ 17

2　7

⑫ 4 ＋ 9 ＝ 13

6　3

たしざんを つかって

ねん　　くみ

なまえ

/ 6

■ たしざんをつかって あんごうを ときましょう。

①

6＋6	9＋9	9＋8	8＋8	7＋7	5＋6	8＋5	6＋9
む	ら	さ	き	く	じ	び	き

11．じ	12．む	13．び	14．く	15．き
16．き	17．さ	18．ら	19．い	20．さ

②

7＋7	9＋2	8＋8	9＋6	8＋10	8＋5	9＋10	10＋10
す	ず	む	し	け	し	ご	む

11．ず	12．お	13．し	14．す	15．し
16．む	17．す	18．け	19．ご	20．む

③

9＋2	7＋9	10＋10	10＋8	6＋8	7＋5	10＋9	9＋8
む	し	か	ご	こ	う	も	り

11．む	12．う	13．な	14．こ	15．た
16．し	17．り	18．ご	19．も	20．か

たしざんを つかって

ねん　　くみ

なまえ

/ 6

■ たしざんをつかって あんごうを ときましょう。

①

8＋10	6＋8	10＋9	9＋3
こ	う	え	ん

10＋10	5＋8	9＋7	8＋7
え	ん	ぴ	つ

11．あ　12．ん　13．ん　14．う　15．つ
16．ぴ　17．ひ　18．こ　19．え　20．え

②

10＋8	3＋9	9＋10	8＋8
た	こ	あ	げ

8＋9	8＋3	7＋6	7＋8
ら	く	が	き

11．く　12．こ　13．が　14．ふ　15．き
16．げ　17．ら　18．た　19．あ　20．や

③

3＋8	9＋10	4＋9	3＋9
や	き	に	く

10＋10	8＋10	7＋9	6＋8
ひ	ま	わ	り

11．や　12．く　13．に　14．り　15．あ
16．わ　17．た　18．ま　19．き　20．ひ

かたちづくり

ねん　　くみ

なまえ

/ 4

■ てんを せんで つないで おてほんの かたちを つくりましょう。

①

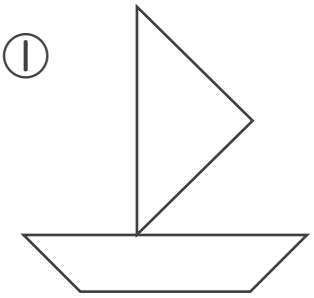

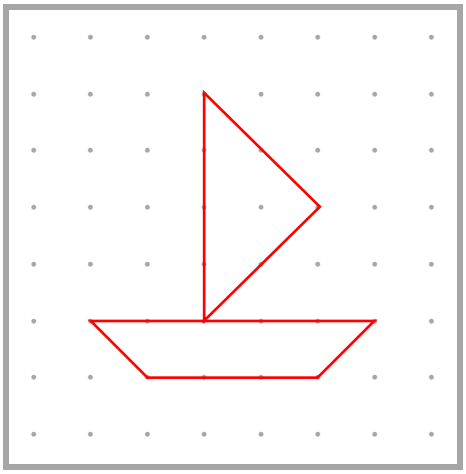

②

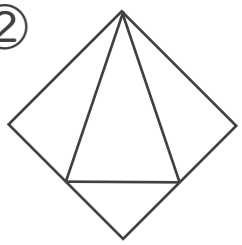

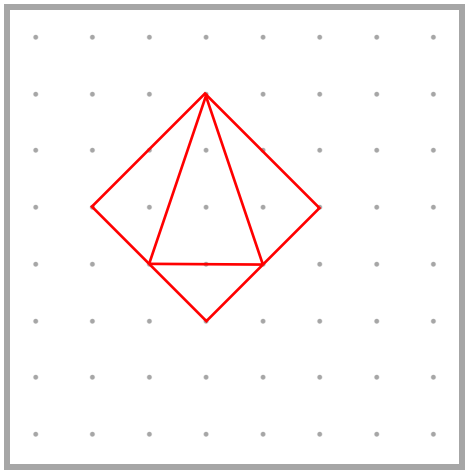

③

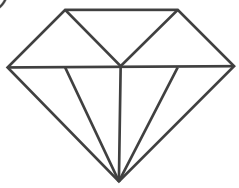

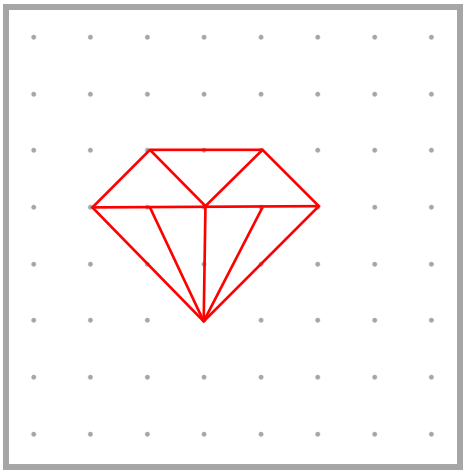
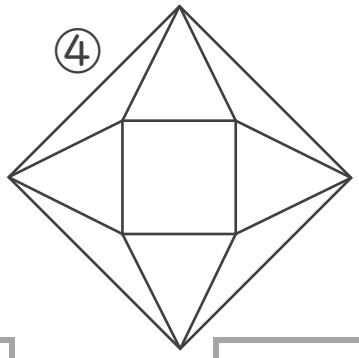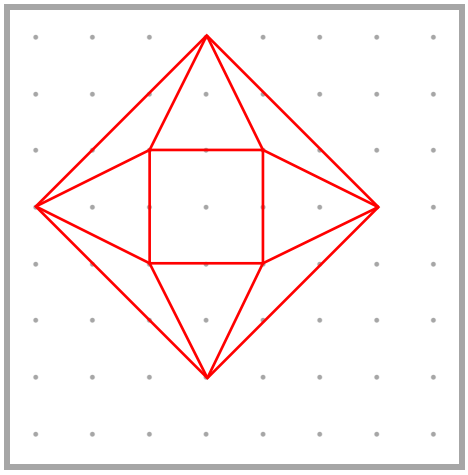
④