教材おきば の

これだけ、安心

算数ドリル

1－11

Light

小学１年生

もくじ

①	コップの みずは どちらが おおい	１ページ
②	なんばんめ	１ページ
③	いくつといくつ	１ページ
④	かぞえよう 10 より おおきい かず	１ページ
⑤	おなじものを みつけよう	１ページ
⑥	なんじ なんじはん	１ページ
⑦	たしざん(2)	１ページ
⑧	つみきは なんこ	１ページ
⑨	ひきざん(2)	１ページ
⑩	ひきざんのしきをたてて(2) 文章問題	１ページ
⑪	うえから ひだりから	２ページ
⑫	ものの いち	２ページ
	合計	１４ページ

© 2022 kyozai-okiba.com

どちらが おおい

ねん　　くみ

なまえ

/ 8

■ コップ(こっぷ)の みずが おおいほうに まる(○)を つけましょう。

①

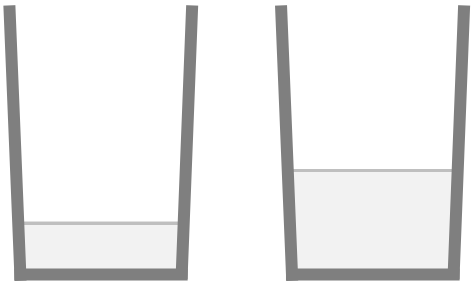

(　　)　(　　)

②

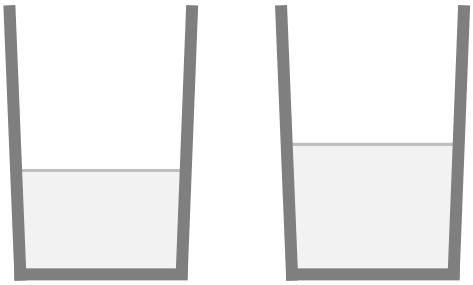

(　　)　(　　)

③

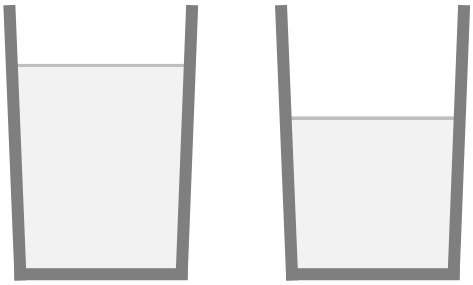

(　　)　(　　)

④

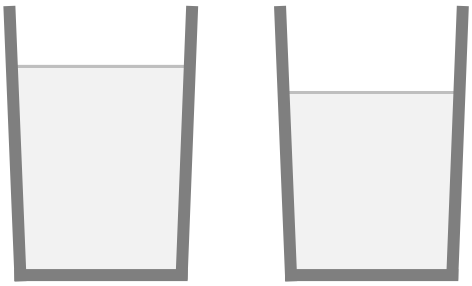

(　　)　(　　)

⑤

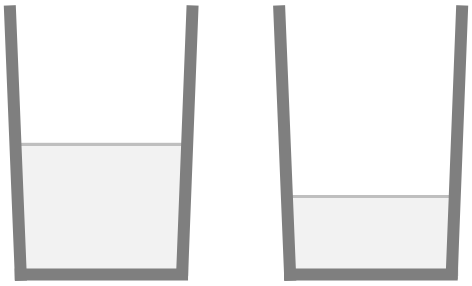

(　　)　(　　)

⑥

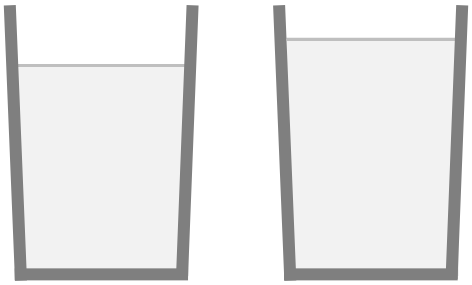

(　　)　(　　)

⑦

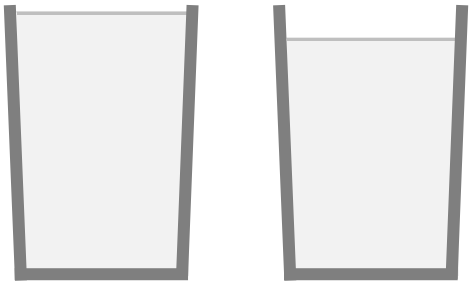

(　　)　(　　)

⑧

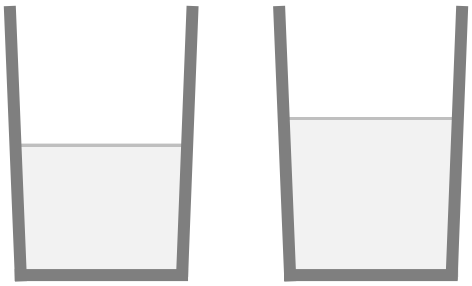

(　　)　(　　)

なんばんめ

ねん　　くみ

なまえ

/ 4

① くろいまる(●) は うしろから なんばんめですか。

← ○ ○ ○ ○ ○ ○ ○ ● ○ →

まえ　　うしろ

↑

ばんめ

② くろいまる(●) は まえから なんばんめですか。

← ○ ● ○ ○ ○ ○ ○ ○ ○ →

まえ　　うしろ

↑

ばんめ

③ くろいまる(●) は うしろから なんばんめですか。

← ○ ○ ● ○ ○ ○ ○ ○ ○ →

まえ　　うしろ

↑

ばんめ

④ くろいまる(●) は まえから なんばんめですか。

← ○ ○ ○ ○ ● ○ ○ ○ ○ →

まえ　　うしろ

↑

ばんめ

いくつといくつ

ねん　　くみ

なまえ

/14

■ □ に はいる かずを かきましょう。

① 8 は 4 と □

② 8 は 5 と □

③ 10 は 3 と □

④ 6 は 3 と □

⑤ 6 は 1 と □

⑥ 3 は 2 と □

⑦ 10 は 7 と □

⑧ 9 は 3 と □

⑨ 9 は 4 と □

⑩ 10 は 8 と □

⑪ 3 は 1 と □

⑫ 7 は 5 と □

⑬ 4 は 3 と □

⑭ 8 は 7 と □

かぞえよう

ねん　　くみ

なまえ

/ 3

まる(●) の かず を かぞえましょう。

①



こ

②



こ

③



こ

おなじものをみつけよう

ねん　　くみ

なまえ

/ 3

■ おなじものに まる(○)を つけましょう。

①

(　　)　(　　)　(　　)　(　　)

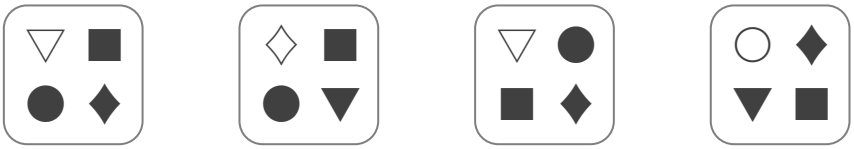

(　　)　(　　)　(　　)　(　　)

②



(　　)　(　　)　(　　)　(　　)

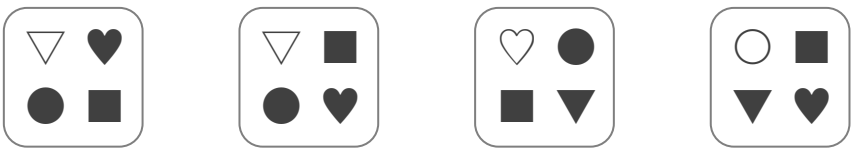

(　　)　(　　)　(　　)　(　　)

③



(　　)　(　　)　(　　)　(　　)

(　　)　(　　)　(　　)　(　　)

なんじ なんじはん

ねん　　くみ

なまえ

/ 8

■ とけいを よみましょう。

①



②



③



④



⑤



⑥



⑦



⑧



たしざん

ねん　　くみ

なまえ

/14

■ つぎのたしざんをしましょう。

① 5 ＋ 9 ＝ □

② 7 ＋ 4 ＝ □

③ 9 ＋ 4 ＝ □

④ 3 ＋ 8 ＝ □

⑤ 7 ＋ 7 ＝ □

⑥ 6 ＋ 6 ＝ □

⑦ 4 ＋ 8 ＝ □

⑧ 9 ＋ 3 ＝ □

⑨ 7 ＋ 6 ＝ □

⑩ 7 ＋ 5 ＝ □

⑪ 8 ＋ 6 ＝ □

⑫ 7 ＋ 8 ＝ □

⑬ 2 ＋ 9 ＝ □

⑭ 8 ＋ 9 ＝ □

つみきは なんこ

ねん　　くみ

なまえ

/ 8

■ つみきは なんこ ありますか。

①

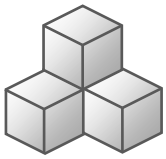

こ

②

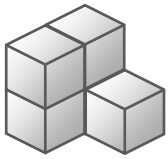

こ

③

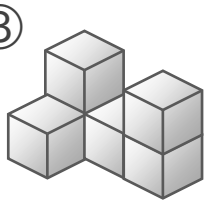

こ

④

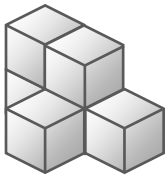

こ

⑤

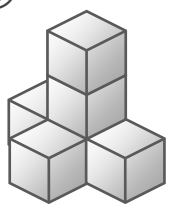

こ

⑥

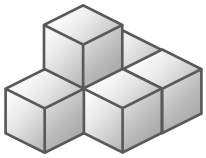

こ

⑦

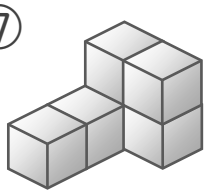

こ

⑧



こ

ひきざん

ねん　　くみ

なまえ

/14

■ つぎのひきざんをしましょう。

① 13 − 8 ＝ □

② 15 − 7 ＝ □

③ 14 − 9 ＝ □

④ 17 − 9 ＝ □

⑤ 11 − 3 ＝ □

⑥ 14 − 8 ＝ □

⑦ 14 − 7 ＝ □

⑧ 12 − 6 ＝ □

⑨ 13 − 9 ＝ □

⑩ 11 − 7 ＝ □

⑪ 16 − 8 ＝ □

⑫ 11 − 9 ＝ □

⑬ 15 − 9 ＝ □

⑭ 16 − 7 ＝ □

ひきざん(2)

ねん　　くみ

なまえ

/ 7

① 12わの とりが きに とまっています。

7わが とんでいくと、のこりは なんわ ですか。

(しき)

② くりを 18こ もっています。

ともだちに 5こ あげると、なんこ のこりますか。

(しき)

③ ふうせんが 16 こ あります。

7こ われると、のこりは なんこ ですか。

(しき)

④ がようしが 14 まい あります。

6 まい つかうと、のこりは なんまい ですか。

(しき)

⑤ バスに 12にんの ひとが のっています。

1にん おりると、のこりは なんにん ですか。

(しき)

⑥ 12ぺえじの えほんが あります。

9ぺえじ よむと、のこりは なんぺえじ ですか。

(しき)

⑦ あんぱんが 11こ あります。

4こ たべると、のこりは なんこ ですか。

(しき)

うえから ひだりから

ねん　　くみ

なまえ

/ 3

■ 25にんが つかう げたばこが あります。

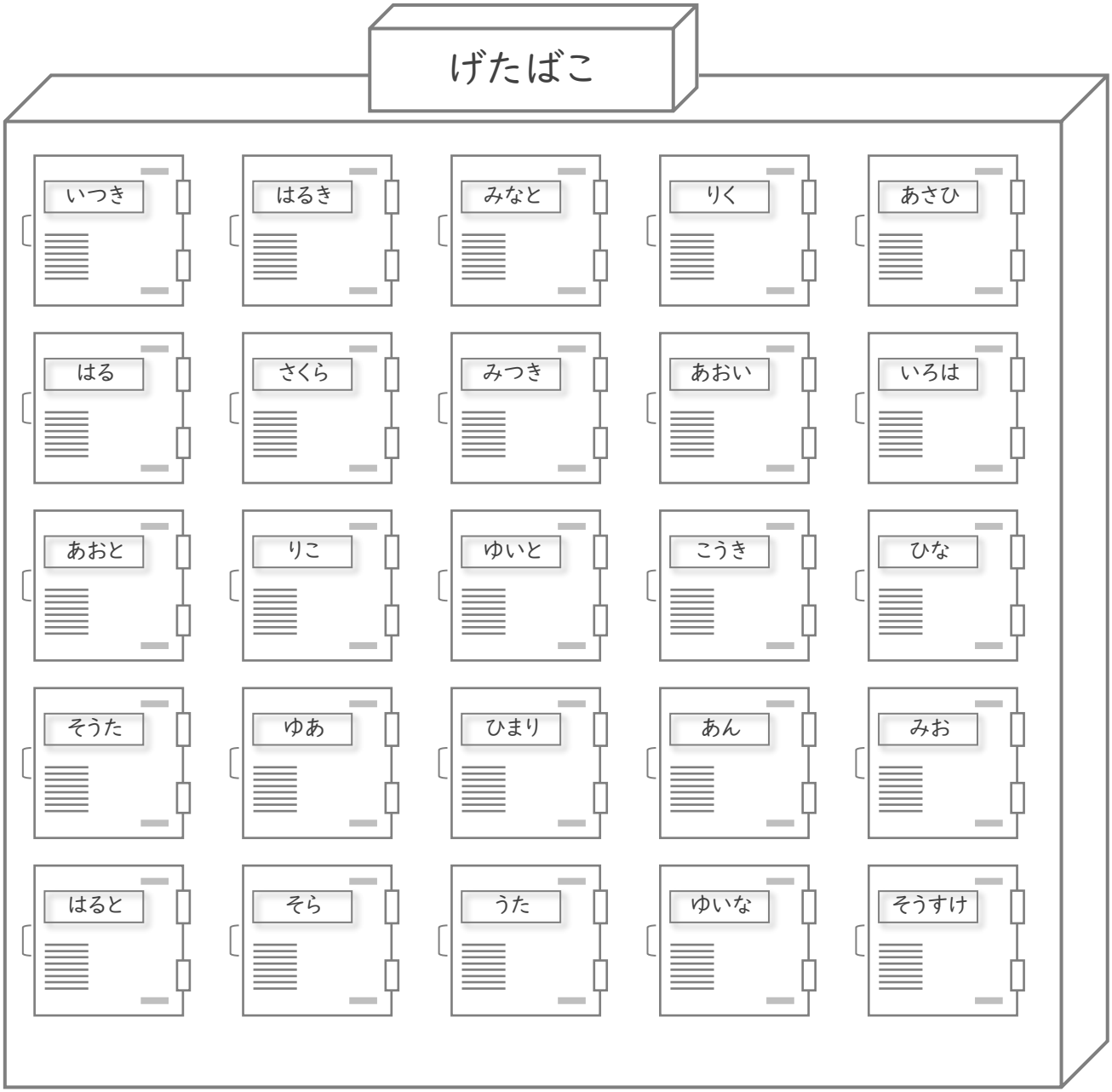

① うえから 1ばんめ、ひだりから 5ばんめは だれの げたばこ ですか。　　さん

② うえから 5ばんめ、ひだりから 3ばんめは だれの げたばこ ですか。　　さん

③ うえから 3ばんめ、ひだりから 1ばんめは だれの げたばこ ですか。　　さん

うえから ひだりから

ねん　　くみ

なまえ

/ 3

■ 25にんが つかう げたばこが あります。

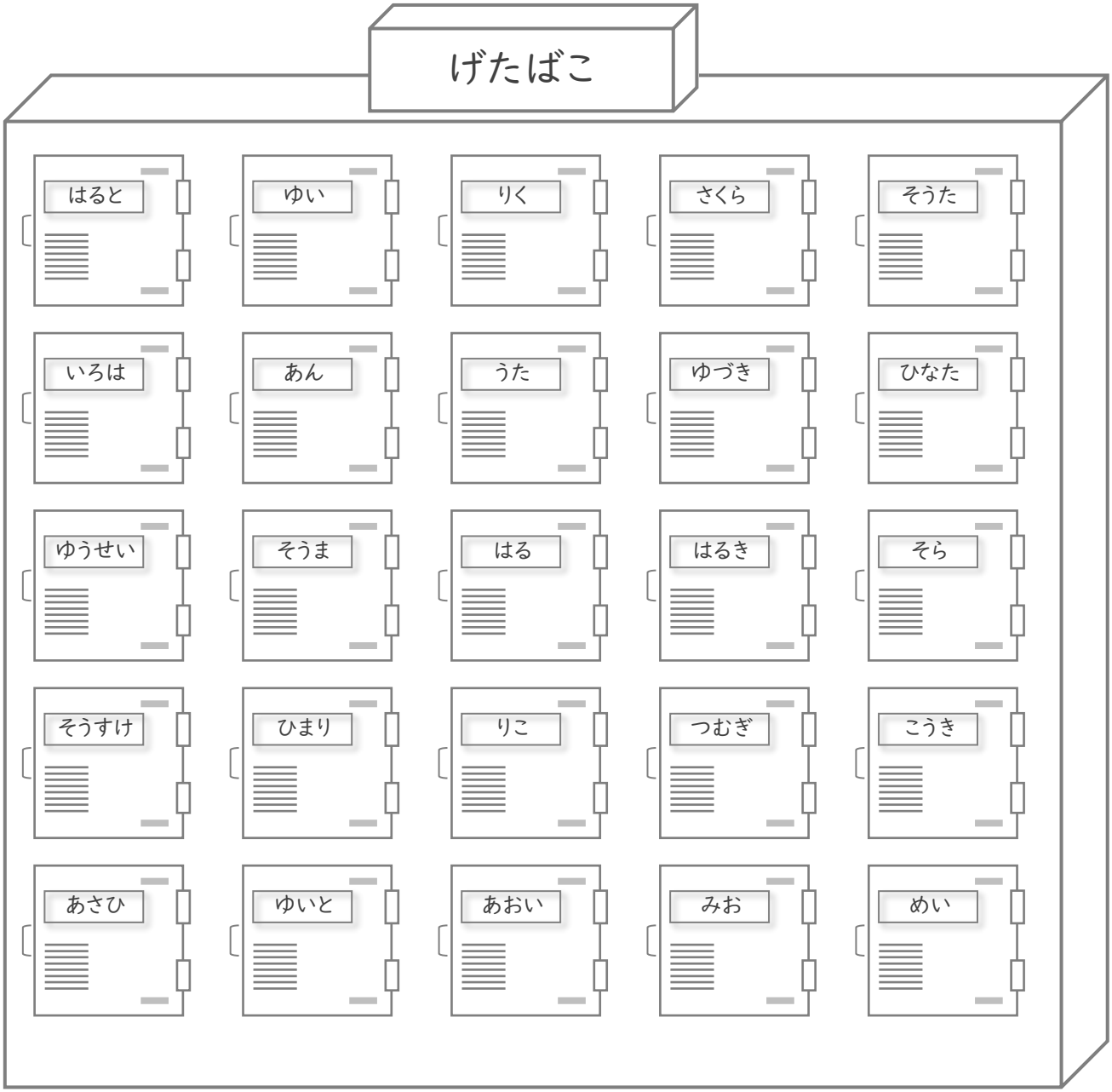

① うえから 1ばんめ、ひだりから 4ばんめは だれの げたばこ ですか。　　さん

② うえから 2ばんめ、ひだりから 3ばんめは だれの げたばこ ですか。　　さん

③ うえから 4ばんめ、ひだりから 5ばんめは だれの げたばこ ですか。　　さん

ものの いち

ねん　　くみ

なまえ

/ 3

■ ただしい かたちの したに まる(○)を つけましょう。



①  から したに 2つ、ひだりに 3つ すすんだ ところに ある かたち

( )　( )　( )　( )　( )

② から したに 3つ すすんだ ところに ある かたち

( )　( )　( )　( )　( )

③ から うえに 3つ、みぎに 1つ すすんだ ところに ある かたち

( )　( )　( )　( )　( )

ものの いち

ねん　　くみ

なまえ

/ 3

■ ただしい かたちの したに まる(○)を つけましょう。



① から うえに 3つ、ひだりに 1つ すすんだ ところに ある かたち

( ) ( ) ( ) ( ) ( )

② から したに 1つ すすんだ ところに ある かたち

( ) ( ) ( ) ( ) ( )

③ から うえに 3つ すすんだ ところに ある かたち



( ) ( ) ( ) ( ) ( )

どちらが おおい

ねん　　くみ

なまえ

/ 8

■ コップ(こっぷ)の みずが おおいほうに まる(○)を つけましょう。

①

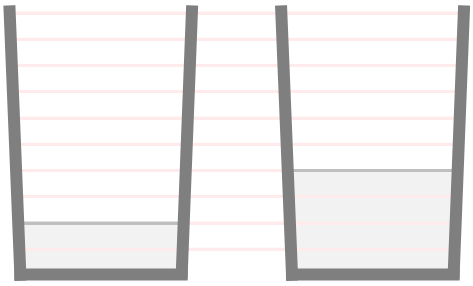

(　　)　(○)

②

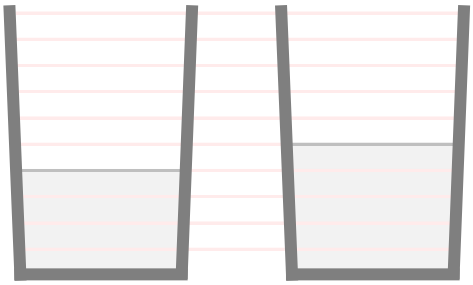

(　　)　(○)

③

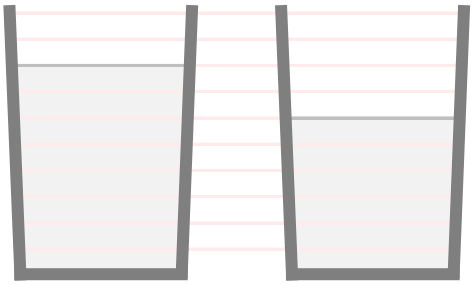

(○)　(　　)

④

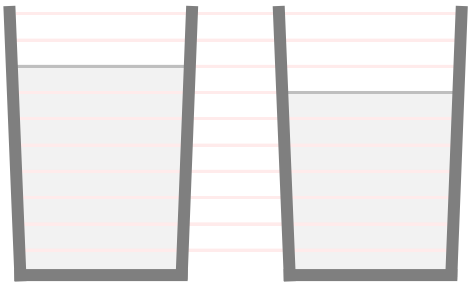

(○)　(　　)

⑤

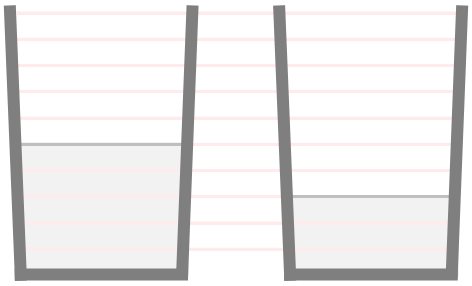

(○)　(　　)

⑥

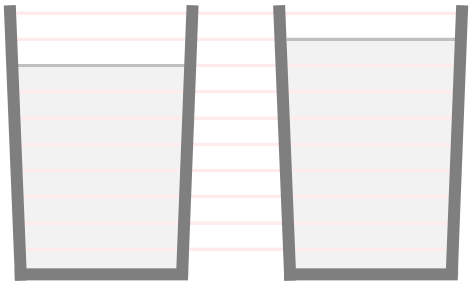

(　　)　(○)

⑦

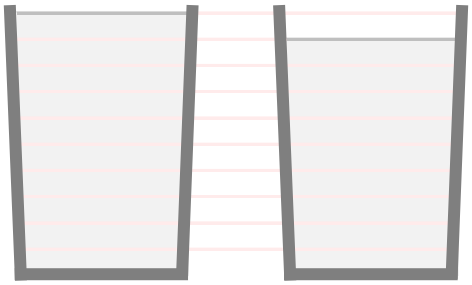

(○)　(　　)

⑧

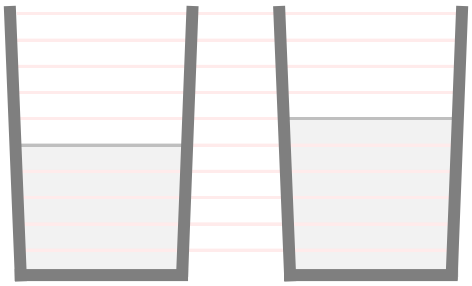

(　　)　(○)

なんばんめ

ねん　　くみ

なまえ

/ 4

① くろいまる(●) は うしろから なんばんめですか。

← ○ ○ ○ ○ ○ ○ ○ ● ○ →

まえ　　うしろ

↑

2 ばんめ

② くろいまる(●) は まえから なんばんめですか。

← ○ ● ○ ○ ○ ○ ○ ○ ○ →

まえ　　うしろ

↑

2 ばんめ

③ くろいまる(●) は うしろから なんばんめですか。

← ○ ○ ● ○ ○ ○ ○ ○ ○ →

まえ　　うしろ

↑

7 ばんめ

④ くろいまる(●) は まえから なんばんめですか。

← ○ ○ ○ ○ ● ○ ○ ○ ○ →

まえ　　うしろ

↑

5 ばんめ

いくつといくつ

ねん　　くみ

なまえ

/14

■ □ に はいる かずを かきましょう。

① 8 は 4 と 4

② 8 は 5 と 3

③ 10 は 3 と 7

④ 6 は 3 と 3

⑤ 6 は 1 と 5

⑥ 3 は 2 と 1

⑦ 10 は 7 と 3

⑧ 9 は 3 と 6

⑨ 9 は 4 と 5

⑩ 10 は 8 と 2

⑪ 3 は 1 と 2

⑫ 7 は 5 と 2

⑬ 4 は 3 と 1

⑭ 8 は 7 と 1

かぞえよう

ねん　　くみ

なまえ

/ 3

まる(●) の かず を かぞえましょう。

①



11 こ

②



14 こ

③



19 こ

おなじものをみつけよう

ねん　　くみ

なまえ

/ 3

■ おなじものに まる(○)を つけましょう。

①

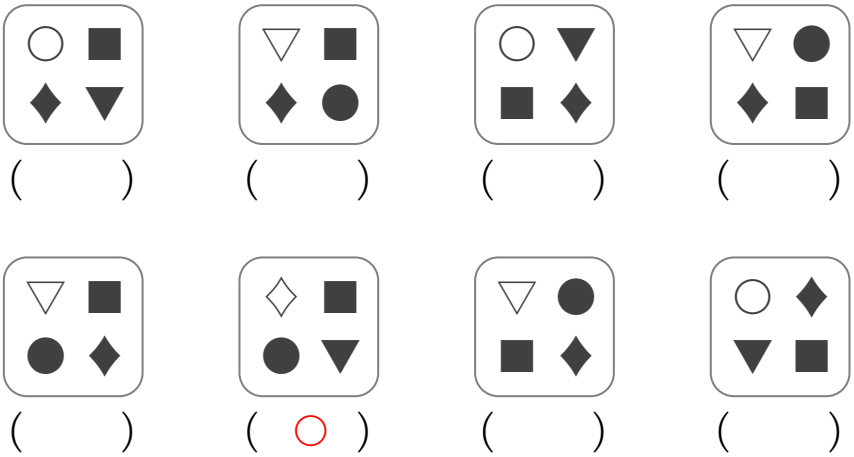

②

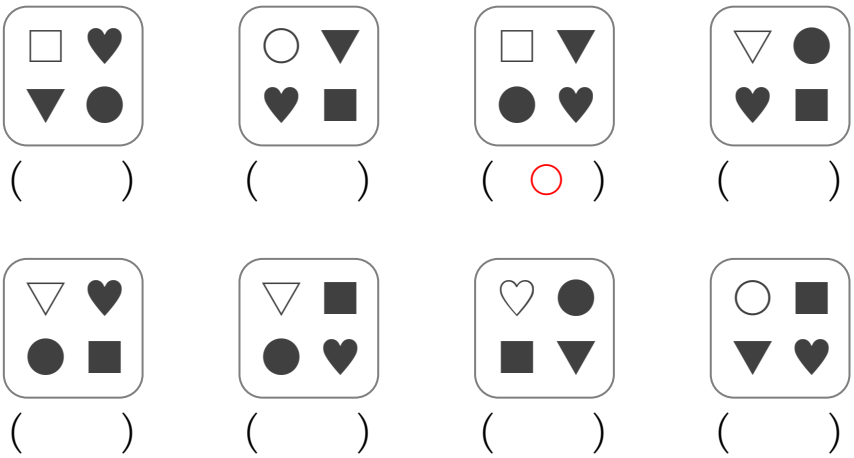

③

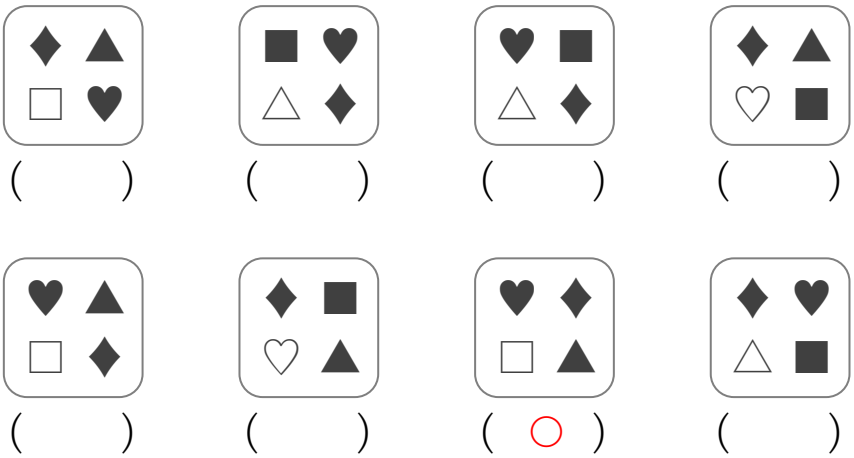

なんじ なんじはん

ねん　　くみ

なまえ

/ 8

■ とけいを よみましょう。

①



4じ

⑤



9じ

②



8じ はん

⑥



3じ

③



11じ はん

⑦



10じ

④



6じ はん

⑧



5じ はん

たしざん

ねん　　くみ

なまえ

/14

■ つぎのたしざんをしましょう。

① 5 ＋ 9 ＝ 14

② 7 ＋ 4 ＝ 11

③ 9 ＋ 4 ＝ 13

④ 3 ＋ 8 ＝ 11

⑤ 7 ＋ 7 ＝ 14

⑥ 6 ＋ 6 ＝ 12

⑦ 4 ＋ 8 ＝ 12

⑧ 9 ＋ 3 ＝ 12

⑨ 7 ＋ 6 ＝ 13

⑩ 7 ＋ 5 ＝ 12

⑪ 8 ＋ 6 ＝ 14

⑫ 7 ＋ 8 ＝ 15

⑬ 2 ＋ 9 ＝ 11

⑭ 8 ＋ 9 ＝ 17

つみきは なんこ

ねん　　くみ

なまえ

/ 8

■ つみきは なんこ ありますか。

①

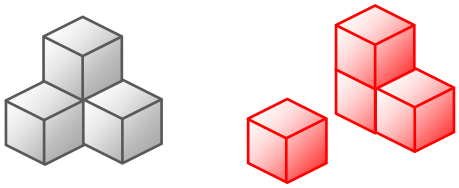

4 こ

②

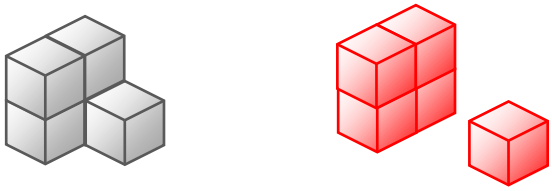

5 こ

③

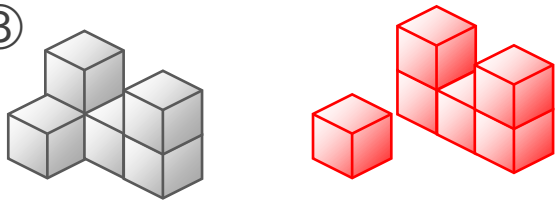

6 こ

④

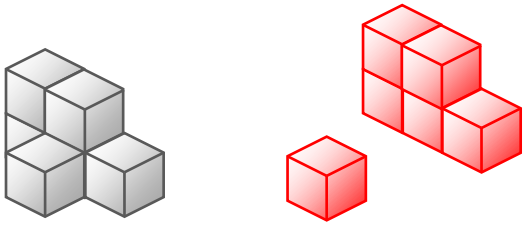

6 こ

⑤

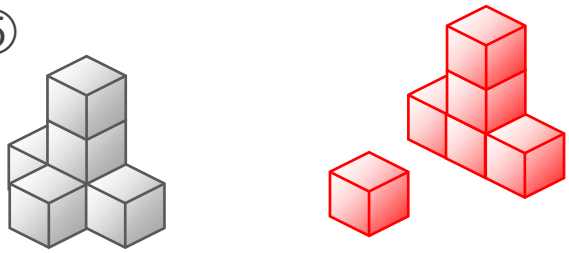

6 こ

⑥

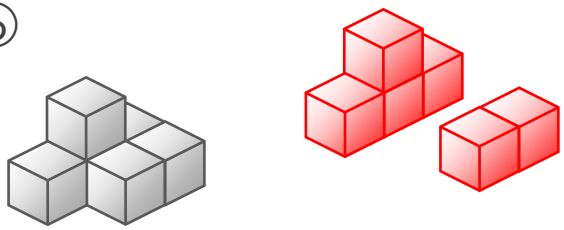

6 こ

⑦

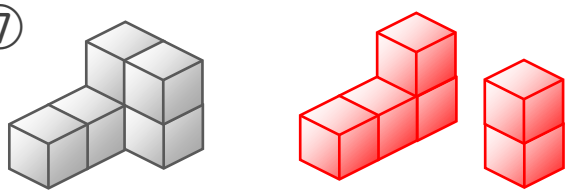

6 こ

⑧

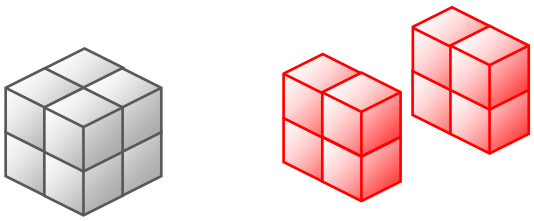

8 こ

ひきざん

ねん　　くみ

なまえ

/14

■ つぎのひきざんをしましょう。

① 13 − 8 ＝ 5

② 15 − 7 ＝ 8

③ 14 − 9 ＝ 5

④ 17 − 9 ＝ 8

⑤ 11 − 3 ＝ 8

⑥ 14 − 8 ＝ 6

⑦ 14 − 7 ＝ 7

⑧ 12 − 6 ＝ 6

⑨ 13 − 9 ＝ 4

⑩ 11 − 7 ＝ 4

⑪ 16 − 8 ＝ 8

⑫ 11 − 9 ＝ 2

⑬ 15 − 9 ＝ 6

⑭ 16 − 7 ＝ 9

ひきざん(2)

ねん　　くみ

なまえ

/ 7

① 12わの とりが きに とまっています。

7わが とんでいくと、のこりは なんわ ですか。

(しき) 12 − 7 = 5

5わ

② くりを 18こ もっています。

ともだちに 5こ あげると、なんこ のこりますか。

(しき) 18 − 5 = 13

13こ

③ ふうせんが 16 こ あります。

7こ われると、のこりは なんこ ですか。

(しき) 16 − 7 = 9

9こ

④ がようしが 14 まい あります。

6 まい つかうと、のこりは なんまい ですか。

(しき) 14 − 6 = 8

8まい

⑤ バスに 12にんの ひとが のっています。

1にん おりると、のこりは なんにん ですか。

(しき) 12 − 1 = 11

11にん

⑥ 12ページの えほんが あります。

9ページ よむと、のこりは なんページ ですか。

(しき) 12 − 9 = 3

3ページ

⑦ あんぱんが 11こ あります。

4こ たべると、のこりは なんこ ですか。

(しき) 11 − 4 = 7

7こ

うえから ひだりから

ねん　　くみ

なまえ

/ 3

■ 25にんが つかう げたばこが あります。

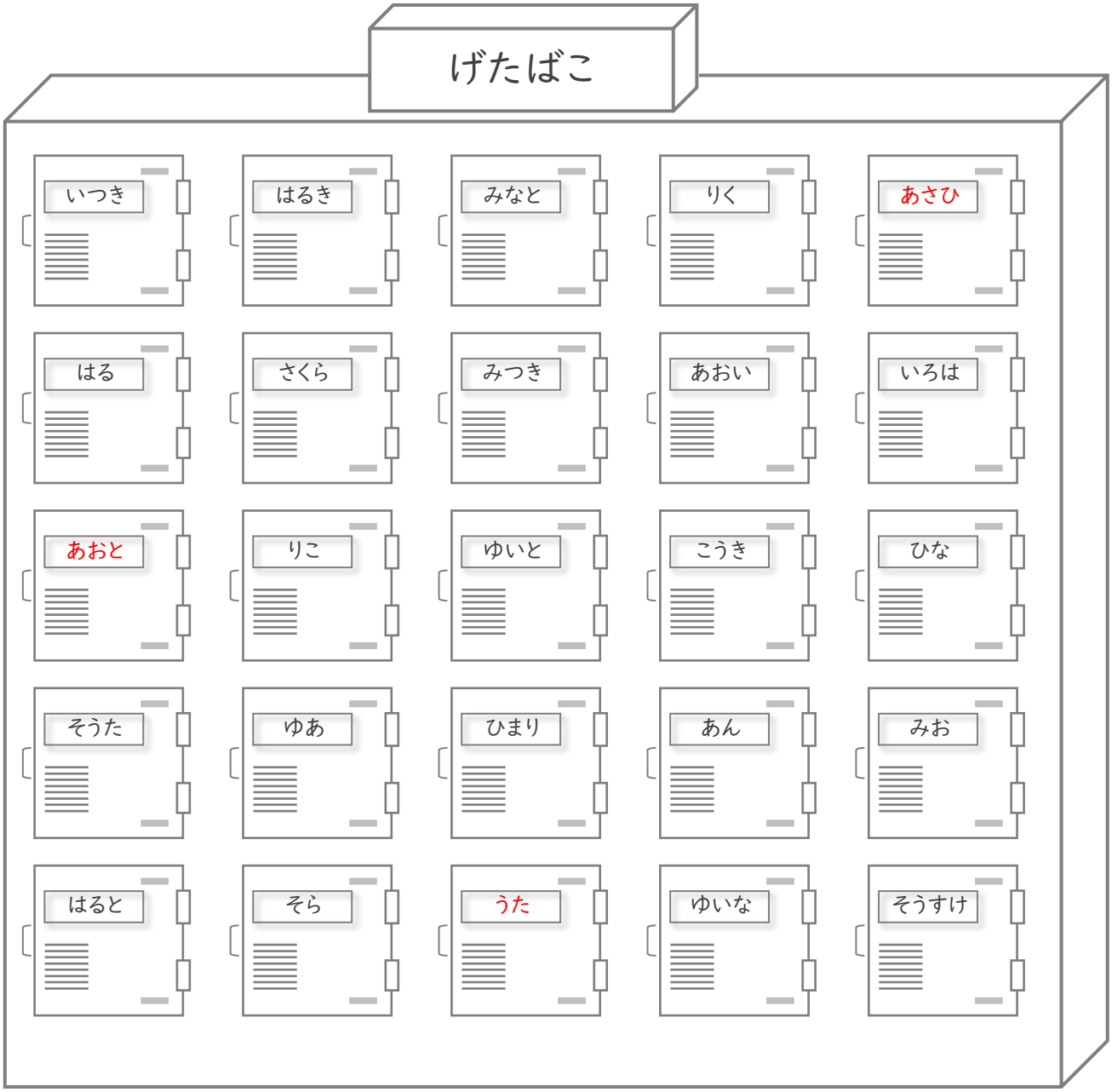

① うえから 1ばんめ、ひだりから 5ばんめは だれの げたばこ ですか。　あさひ　さん

② うえから 5ばんめ、ひだりから 3ばんめは だれの げたばこ ですか。　うた　さん

③ うえから 3ばんめ、ひだりから 1ばんめは だれの げたばこ ですか。　あおと　さん

うえから ひだりから

ねん　　くみ

なまえ

/ 3

■ 25にんが つかう げたばこが あります。

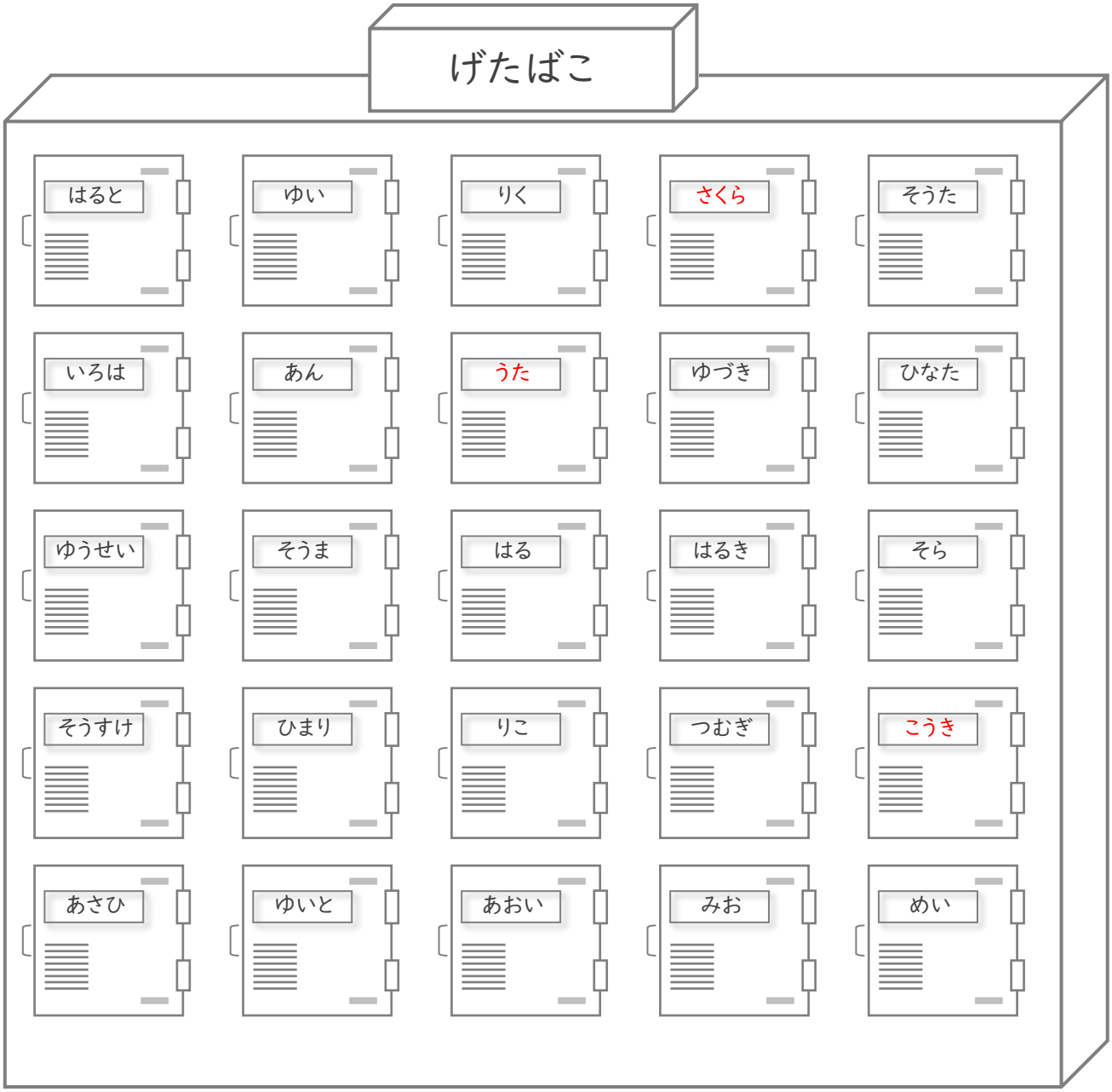

① うえから 1ばんめ、ひだりから 4ばんめは だれの げたばこ ですか。　さくら　さん

② うえから 2ばんめ、ひだりから 3ばんめは だれの げたばこ ですか。　うた　さん

③ うえから 4ばんめ、ひだりから 5ばんめは だれの げたばこ ですか。　こうき　さん

ものの いち

ねん　　くみ

なまえ

/ 3

■ ただしい かたちの したに まる(○)を つけましょう。



①  から したに 2つ、ひだりに 3つ すすんだ ところに ある かたち

( )　(○)　( )　( )　( )

② から したに 3つ すすんだ ところに ある かたち

( )　( )　( )　(○)　( )

③ から うえに 3つ、みぎに 1つ すすんだ ところに ある かたち

( )　( )　( )　( )　(○)

ものの いち

ねん　　くみ

なまえ

/ 3

■ ただしい かたちの したに まる(○)を つけましょう。



① から うえに 3つ、ひだりに 1つ すすんだ ところに ある かたち

( ) ( ) ( ) (○) ( )

② から したに 1つ すすんだ ところに ある かたち

(○) ( ) ( ) ( ) ( )

③ から うえに 3つ すすんだ ところに ある かたち



( ) ( ) ( ) (○) ( )