教材おきば の

これだけ、安心

算数ドリル

1－11

小学１年生

もくじ

①	かずの ならびかた 漢字で	２ページ
②	□ばんめを ぬりましょう	２ページ
③	ちがいはいくつ	２ページ
④	かずの ならびかた 0〜20	２ページ
⑤	なんじ なんじはん	２ページ
⑥	ながさをくらべる	２ページ
⑦	コップの みずは どれが おおい	２ページ
⑧	たしざん(2)	２ページ
⑨	ひきざん(2)	２ページ
⑩	ひきざんのしきをたてて(2) 文章問題	２ページ
⑪	おなじかず や 0を ひく ひきざん	２ページ
⑫	うえから ひだりから	３ページ
⑬	ものの いち	３ページ
	合計	２８ページ

© 2022 kyozai-okiba.com

かずの ならびかた

ねん　　くみ

なまえ

/ 8

■ □ に はいる かずを かん字で かきましょう。

① あ - 四 - 三 - い - 一

あ　　い

② う - 三 - え - 五 - 六

う　　え

③ 七 - お - 五 - 四 - か

お　　か

④ 五 - 六 - き - 八 - く

き　　く

かずの ならびかた

ねん　　くみ

なまえ

/ 8

■ □ に はいる かずを かん字で かきましょう。

① 四 - あ - 六 - 七 - い

あ　　い

② 七 - 六 - う - 四 - え

う　　え

③ お - 三 - 四 - 五 - か

お　　か

④ き - 八 - 七 - く - 五

き　　く

なんばんめ

ねん　　くみ

なまえ

/ 5

① まえから 5ばんめ の まる(〇) を ぬりましょう。

← 〇 〇 〇 〇 〇 〇 〇 〇 〇 →

まえ　　うしろ

② うしろから 3ばんめ の まる(〇) を ぬりましょう。

← 〇 〇 〇 〇 〇 〇 〇 〇 〇 →

まえ　　うしろ

③ まえから 6ばんめ の まる(〇) を ぬりましょう。

← 〇 〇 〇 〇 〇 〇 〇 〇 〇 →

まえ　　うしろ

④ うしろから 8ばんめ の まる(〇) を ぬりましょう。

← 〇 〇 〇 〇 〇 〇 〇 〇 〇 →

まえ　　うしろ

⑤ まえから 8ばんめ の まる(〇) を ぬりましょう。

← 〇 〇 〇 〇 〇 〇 〇 〇 〇 →

まえ　　うしろ

なんばんめ

ねん　　くみ

なまえ

/ 5

① まえから 4ばんめ の まる(〇) を ぬりましょう。

← ○ ○ ○ ○ ○ ○ ○ ○ ○ →

まえ　　うしろ

② うしろから 8ばんめ の まる(〇) を ぬりましょう。

← ○ ○ ○ ○ ○ ○ ○ ○ ○ →

まえ　　うしろ

③ まえから 3ばんめ の まる(〇) を ぬりましょう。

← ○ ○ ○ ○ ○ ○ ○ ○ ○ →

まえ　　うしろ

④ うしろから 3ばんめ の まる(〇) を ぬりましょう。

← ○ ○ ○ ○ ○ ○ ○ ○ ○ →

まえ　　うしろ

⑤ うしろから 5ばんめ の まる(〇) を ぬりましょう。

← ○ ○ ○ ○ ○ ○ ○ ○ ○ →

まえ　　うしろ

ちがいは いくつ

ねん　　くみ

なまえ

/ 6

☆ ☆ ☆ ☆ ☆ ☆ ☆ ☆

◇ ◇ ◇ ◇ ◇ ◇ ◇

① おおいほうの かたち を こたえましょう。

② ①でこたえた かたち のほうが なんこ おおいですか。

こ

□ □ □ □ □ □

○ ○ ○ ○ ○ ○ ○ ○ ○ ○

③ おおいほうの かたち を こたえましょう。

④ ③でこたえた かたち のほうが なんこ おおいですか。

こ

△ △ △ △ △

♡ ♡

⑤ おおいほうの かたち を こたえましょう。

⑥ ⑤でこたえた かたち のほうが なんこ おおいですか。

こ

ちがいは いくつ

ねん　　くみ

なまえ

/ 6

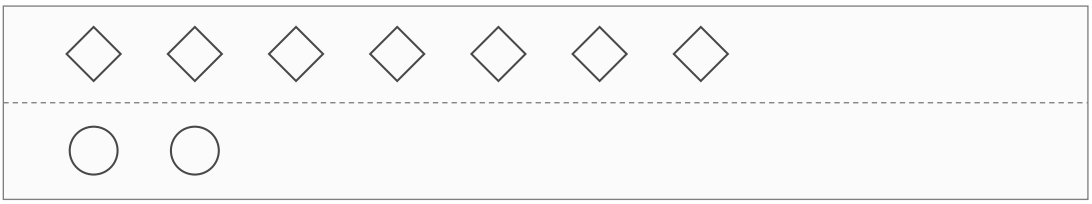

① おおいほうの かたち を こたえましょう。

② ①でこたえた かたち のほうが なんこ おおいですか。

こ

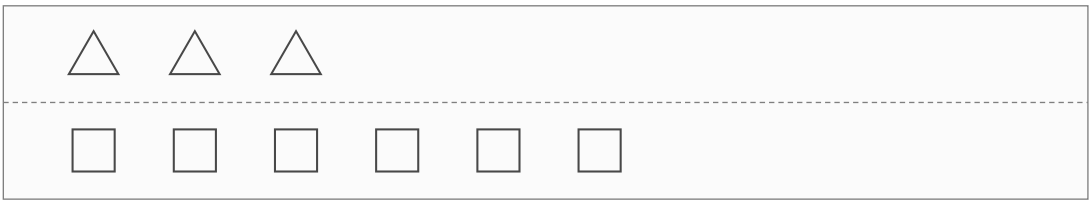

③ おおいほうの かたち を こたえましょう。

④ ③でこたえた かたち のほうが なんこ おおいですか。

こ

⑤ おおいほうの かたち を こたえましょう。

⑥ ⑤でこたえた かたち のほうが なんこ おおいですか。

こ

かずの ならびかた

ねん　　くみ

なまえ

/ 15

■ □ に はいる かずを かきましょう。

① あ - 13 - い - 11 - う - 9 - 8

あ □　い □　う □

② 2 - え - 4 - お - 6 - 7 - か

え □　お □　か □

③ き - 10 - く - 8 - 7 - け - 5

き □　く □　け □

④ こ - 11 - さ - 13 - 14 - 15 - し

こ □　さ □　し □

⑤ 20 - す - 18 - せ - 16 - そ - 14

す □　せ □　そ □

かずの ならびかた

ねん　　くみ

なまえ

/ 15

■ □ に はいる かずを かきましょう。

① 4 - 5 - あ - 7 - い - 9 - う

あ □　い □　う □

② 6 - え - 4 - お - 2 - か - 0

え □　お □　か □

③ き - 15 - く - 13 - け - 11 - 10

き □　く □　け □

④ 8 - こ - 10 - さ - 12 - 13 - し

こ □　さ □　し □

⑤ す - 15 - せ - 17 - 18 - 19 - そ

す □　せ □　そ □

なんじ なんじはん

ねん　　くみ

なまえ

/ 8

■ とけいを よみましょう。

①



②



③



④



⑤



⑥

⑦



⑧



なんじ なんじはん

ねん　　くみ

なまえ

/ 8

■ とけいを よみましょう。

①



②



③



④



⑤



⑥



⑦



⑧



おおきさくらべ

ねん　　くみ

なまえ

/ 7

■ あ と い の りぼんは どちらが ながいですか。

①

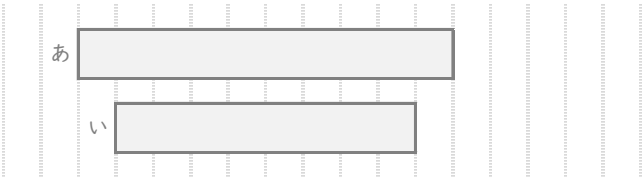

ながいほう

②

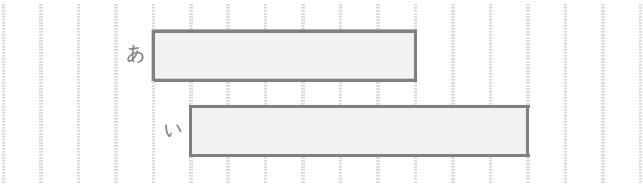

ながいほう

③

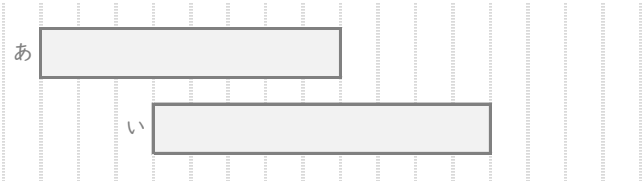

ながいほう

④

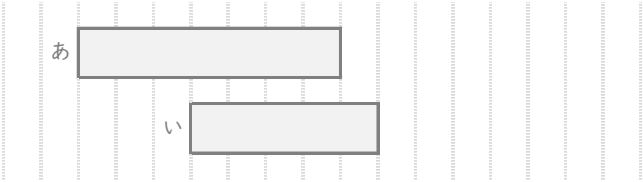

ながいほう

⑤

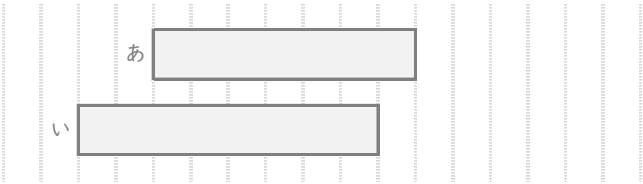

ながいほう

⑥

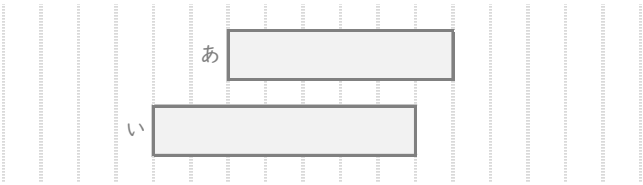

ながいほう

⑦

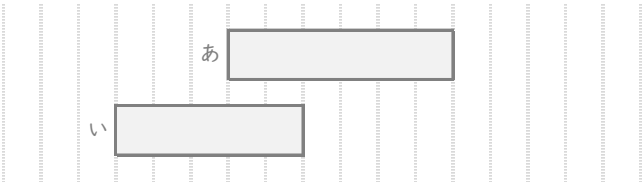

ながいほう

おおきさくらべ

ねん　　くみ

なまえ

/ 7

■ あ と い の りぼんは どちらが ながいですか。

①

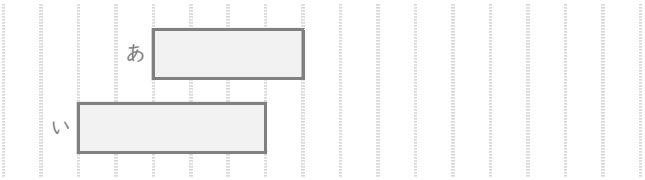

ながいほう

②

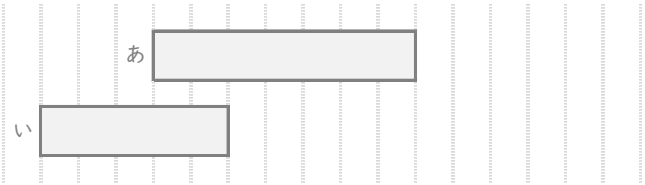

ながいほう

③

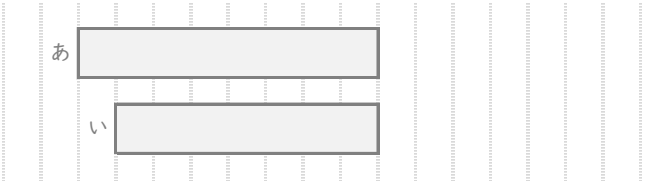

ながいほう

④

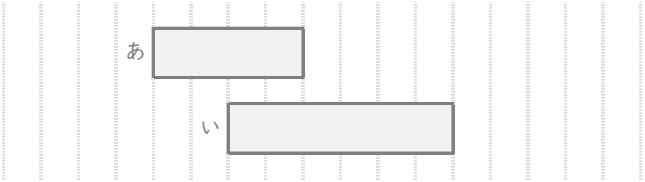

ながいほう

⑤

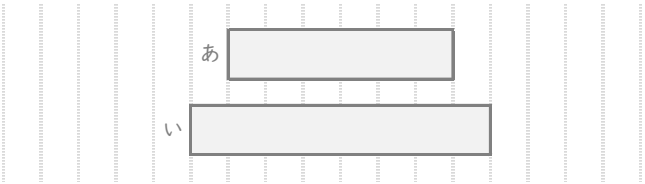

ながいほう

⑥

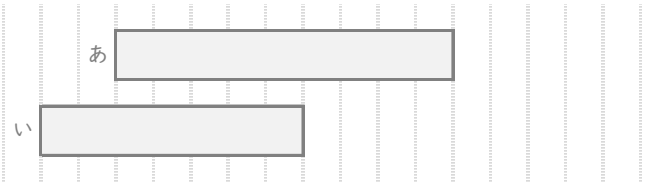

ながいほう

⑦

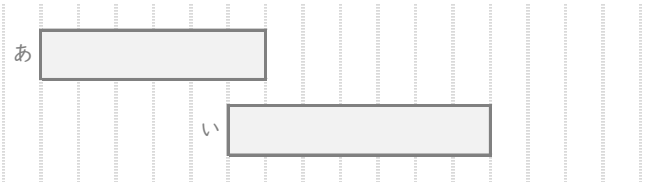

ながいほう

どれが おおい

ねん　　くみ

なまえ

/ 4

■ みずが いちばんおおい コップ(こっぷ)に まる(○)を つけましょう。

①



(　　)　(　　)　(　　)　(　　)　(　　)

②

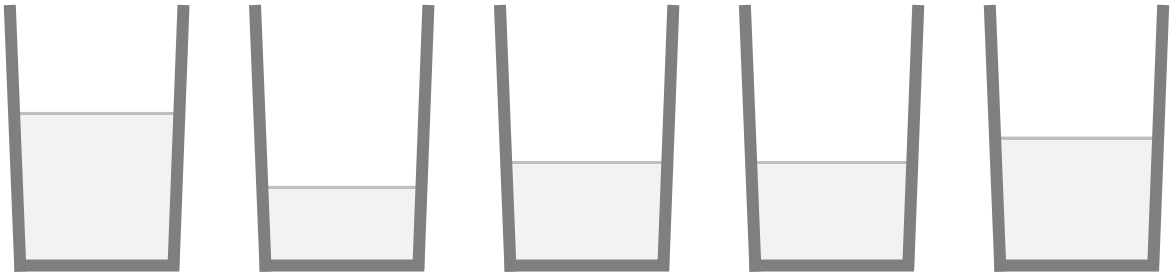

(　　)　(　　)　(　　)　(　　)　(　　)

③

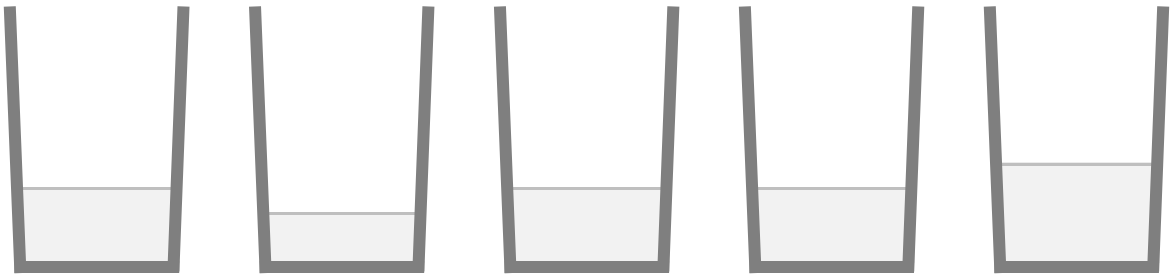

(　　)　(　　)　(　　)　(　　)　(　　)

④

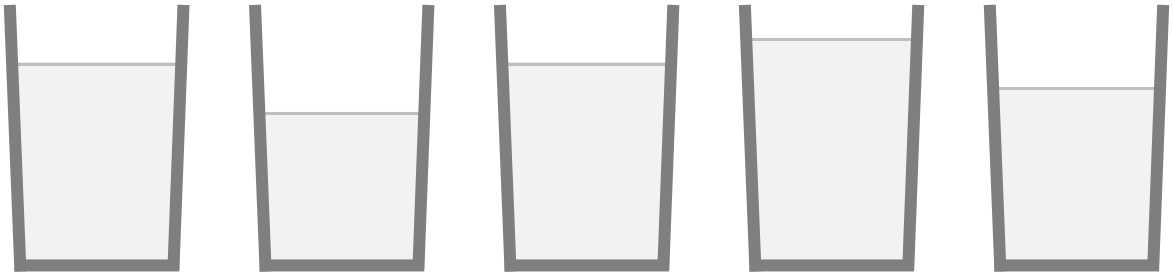

(　　)　(　　)　(　　)　(　　)　(　　)

どれが おおい

ねん　　くみ

なまえ

/ 4

■ みずが いちばんおおい コップ(こっぷ)に まる(○)を つけましょう。

①

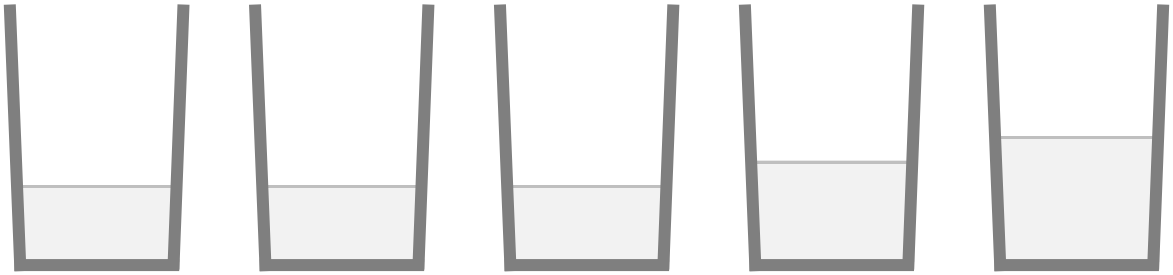

(　　)　(　　)　(　　)　(　　)　(　　)

②

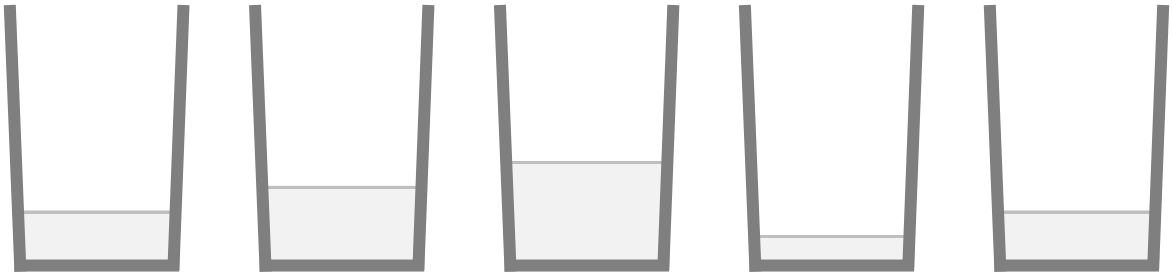

(　　)　(　　)　(　　)　(　　)　(　　)

③



(　　)　(　　)　(　　)　(　　)　(　　)

④



(　　)　(　　)　(　　)　(　　)　(　　)

たしざん

ねん　　くみ

なまえ

/14

■ つぎのたしざんをしましょう。

① 9 ＋ 2 ＝ □

② 9 ＋ 4 ＝ □

③ 9 ＋ 9 ＝ □

④ 5 ＋ 7 ＝ □

⑤ 5 ＋ 9 ＝ □

⑥ 8 ＋ 7 ＝ □

⑦ 7 ＋ 6 ＝ □

⑧ 8 ＋ 3 ＝ □

⑨ 4 ＋ 7 ＝ □

⑩ 6 ＋ 9 ＝ □

⑪ 8 ＋ 5 ＝ □

⑫ 4 ＋ 8 ＝ □

⑬ 8 ＋ 8 ＝ □

⑭ 9 ＋ 3 ＝ □

たしざん

ねん　　くみ

なまえ

/14

■ つぎのたしざんをしましょう。

① 6 ＋ 6 ＝ □

② 6 ＋ 9 ＝ □

③ 8 ＋ 8 ＝ □

④ 8 ＋ 3 ＝ □

⑤ 9 ＋ 4 ＝ □

⑥ 7 ＋ 4 ＝ □

⑦ 6 ＋ 7 ＝ □

⑧ 8 ＋ 5 ＝ □

⑨ 8 ＋ 7 ＝ □

⑩ 8 ＋ 6 ＝ □

⑪ 9 ＋ 3 ＝ □

⑫ 8 ＋ 9 ＝ □

⑬ 5 ＋ 7 ＝ □

⑭ 7 ＋ 7 ＝ □

ひきざん

ねん　　くみ

なまえ

/14

■ つぎのひきざんをしましょう。

① 13 − 5 ＝ □

② 14 − 7 ＝ □

③ 11 − 4 ＝ □

④ 13 − 6 ＝ □

⑤ 12 − 4 ＝ □

⑥ 12 − 3 ＝ □

⑦ 16 − 8 ＝ □

⑧ 18 − 9 ＝ □

⑨ 14 − 5 ＝ □

⑩ 11 − 8 ＝ □

⑪ 17 − 9 ＝ □

⑫ 13 − 4 ＝ □

⑬ 15 − 6 ＝ □

⑭ 15 − 7 ＝ □

ひきざん

ねん　　くみ

なまえ

/14

■ つぎのひきざんをしましょう。

① 13 − 4 ＝ □

② 15 − 8 ＝ □

③ 11 − 6 ＝ □

④ 12 − 3 ＝ □

⑤ 14 − 6 ＝ □

⑥ 12 − 6 ＝ □

⑦ 13 − 5 ＝ □

⑧ 18 − 9 ＝ □

⑨ 16 − 8 ＝ □

⑩ 12 − 5 ＝ □

⑪ 14 − 7 ＝ □

⑫ 11 − 4 ＝ □

⑬ 13 − 6 ＝ □

⑭ 14 − 9 ＝ □

ひきざん(2)

ねん　　くみ

なまえ

/ 7

① ふうせんが 15 こ あります。

8こ われると、のこりは なんこ ですか。

(しき)

② らむねが 11こ あります。

6こ たべると、のこりは なんこ ですか。

(しき)

③ 15わの とりが きに とまっています。

9わが とんでいくと、のこりは なんわ ですか。

(しき)

④ がようしが 16 まい あります。

3 まい つかうと、のこりは なんまい ですか。

(しき)

⑤ 13ぺえじの えほんが あります。

6ぺえじ よむと、のこりは なんぺえじ ですか。

(しき)

⑥ 13とうの ぞうが います。

おすは 9 とうです。めすは なんとう ですか。

(しき)

⑦ 16まいの かあどが あります。

8まいが おもてを むいています。なんまいが うらむき ですか。

(しき)

ひきざん(2)

ねん　　くみ

なまえ

/ 7

① みかんが 19こ あります。

3こ たべると、のこりは なんこ ですか。

(しき)

② くりを 13こ もっています。

ともだちに 5こ あげると、なんこ のこりますか。

(しき)

③ 11わの とりが きに とまっています。

3わが とんでいくと、のこりは なんわ ですか。

(しき)

④ ふうせんが 11 こ あります。

8こ われると、のこりは なんこ ですか。

(しき)

⑤ 15まいの かあどが あります。

8まいが おもてを むいています。なんまいが うらむき ですか。

(しき)

⑥ 12ぺえじの えほんが あります。

6ぺえじ よむと、のこりは なんぺえじ ですか。

(しき)

⑦ 12とうの ぞうが います。

おすは 2 とうです。めすは なんとう ですか。

(しき)

ひきざん

ねん　　くみ

なまえ

/14

■ つぎのひきざんをしましょう。

① 9 − 9 ＝ □

② 10 − 10 ＝ □

③ 6 − 0 ＝ □

④ 3 − 3 ＝ □

⑤ 4 − 4 ＝ □

⑥ 10 − 0 ＝ □

⑦ 8 − 0 ＝ □

⑧ 5 − 0 ＝ □

⑨ 1 − 0 ＝ □

⑩ 3 − 0 ＝ □

⑪ 5 − 5 ＝ □

⑫ 6 − 6 ＝ □

⑬ 2 − 2 ＝ □

⑭ 2 − 0 ＝ □

ひきざん

ねん　　くみ

なまえ

/14

■ つぎのひきざんをしましょう。

① 8 − 0 ＝ □

② 5 − 5 ＝ □

③ 3 − 0 ＝ □

④ 9 − 0 ＝ □

⑤ 10 − 0 ＝ □

⑥ 8 − 8 ＝ □

⑦ 3 − 3 ＝ □

⑧ 6 − 0 ＝ □

⑨ 2 − 2 ＝ □

⑩ 1 − 1 ＝ □

⑪ 1 − 0 ＝ □

⑫ 4 − 4 ＝ □

⑬ 9 − 9 ＝ □

⑭ 5 − 0 ＝ □

うえから ひだりから

ねん　　くみ

なまえ

/ 3

■ 25にんが つかう げたばこが あります。

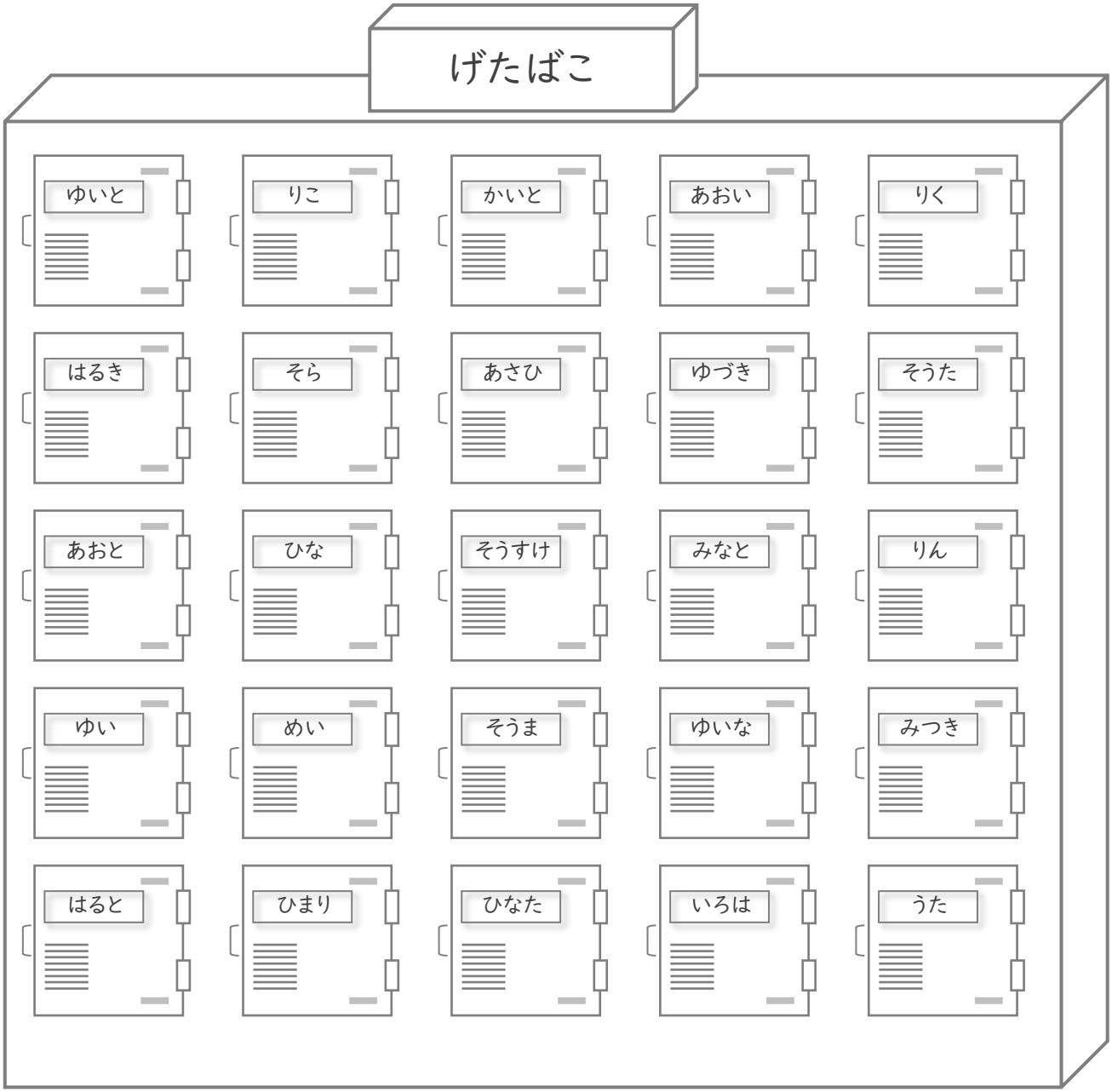

① うえから 3ばんめ、ひだりから 5ばんめは だれの げたばこ ですか。　　さん

② うえから 2ばんめ、ひだりから 2ばんめは だれの げたばこ ですか。　　さん

③ うえから 4ばんめ、ひだりから 1ばんめは だれの げたばこ ですか。　　さん

うえから ひだりから

ねん　　くみ

なまえ

/ 3

■ 25にんが つかう げたばこが あります。

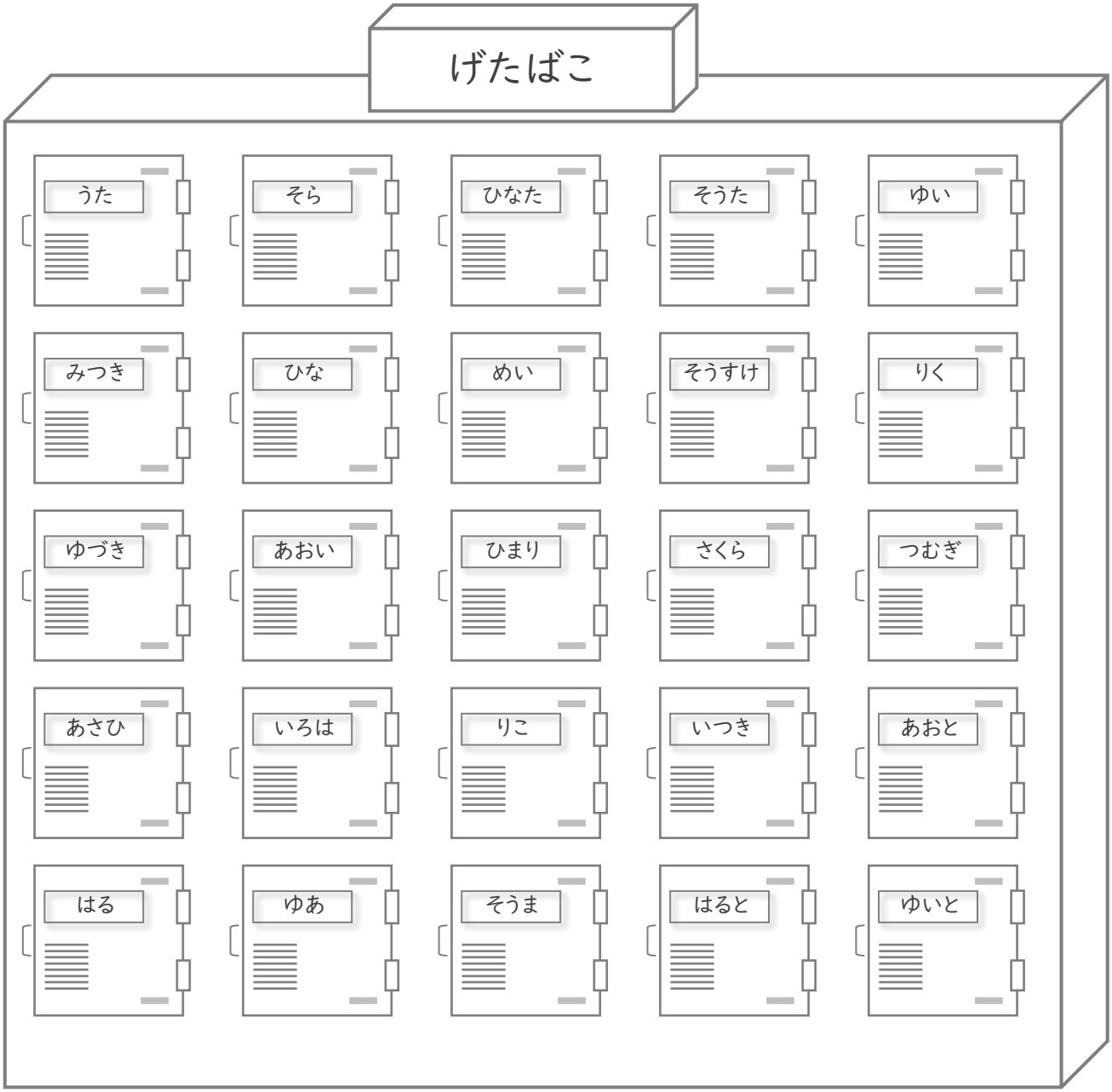

① うえから 1ばんめ、ひだりから 2ばんめは だれの げたばこ ですか。　　さん

② うえから 5ばんめ、ひだりから 5ばんめは だれの げたばこ ですか。　　さん

③ うえから 4ばんめ、ひだりから 3ばんめは だれの げたばこ ですか。　　さん

うえから ひだりから

ねん　　くみ

なまえ

/ 3

■ 25にんが つかう げたばこが あります。

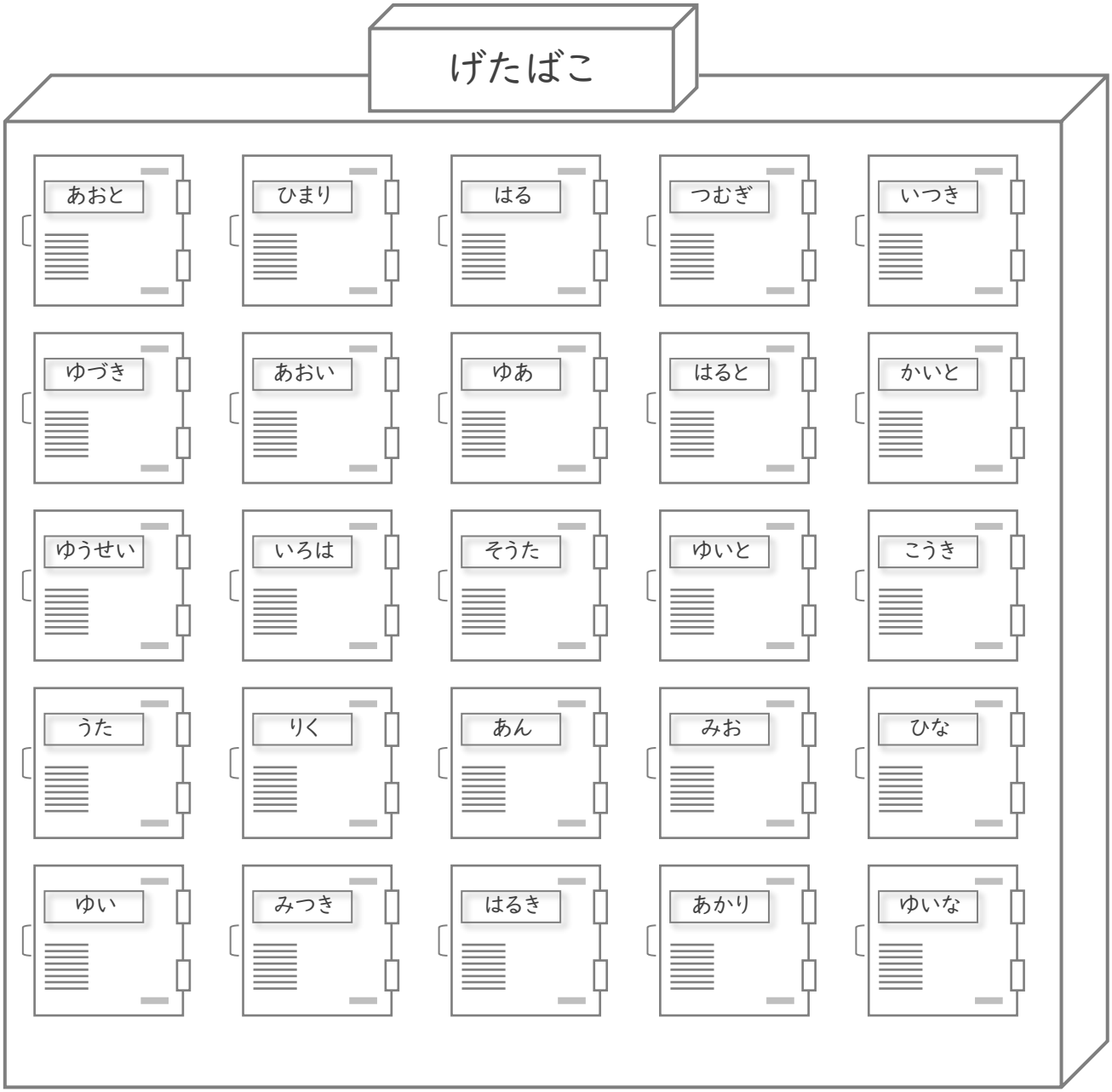

① うえから 5ばんめ、ひだりから 3ばんめは だれの げたばこ ですか。　　さん

② うえから 1ばんめ、ひだりから 2ばんめは だれの げたばこ ですか。　　さん

③ うえから 2ばんめ、ひだりから 4ばんめは だれの げたばこ ですか。　　さん

ものの いち

ねん　　くみ

なまえ

/ 3

■ ただしい かたちの したに まる(○)を つけましょう。

① から うえに 2つ、ひだりに 1つ すすんだ ところに ある かたち

( ) ( ) ( ) ( ) ( )

② から うえに 1つ、ひだりに 2つ すすんだ ところに ある かたち

( ) ( ) ( ) ( ) ( )

③ から うえに 3つ すすんだ ところに ある かたち

( ) ( ) ( ) ( ) ( )

ものの いち

ねん　　くみ

なまえ

/ 3

■ ただしい かたちの したに まる(○)を つけましょう。

① から うえに 1つ、ひだりに 1つ すすんだ ところに ある かたち

( ) ( ) ( ) ( ) ( )

② から うえに 2つ、みぎに 2つ すすんだ ところに ある かたち

( ) ( ) ( ) ( ) ( )

③ から したに 2つ、ひだりに 3つ すすんだ ところに ある かたち

( ) ( ) ( ) ( ) ( )

ものの いち

ねん　　くみ

なまえ

/ 3

■ ただしい かたちの したに まる(○)を つけましょう。



① から うえに 2つ、みぎに 3つ すすんだ ところに ある かたち

( ) ( ) ( ) ( ) ( )

② から うえに 2つ、ひだりに 2つ すすんだ ところに ある かたち

( ) ( ) ( ) ( ) ( )

③ から うえに 3つ、みぎに 2つ すすんだ ところに ある かたち

( ) ( ) ( ) ( ) ( )

かずの ならびかた

ねん　　くみ

なまえ

/ 8

■ □ に はいる かずを かん字で かきましょう。

① あ - 四 - 三 - い - 一

あ 五　　い 二

② う - 三 - え - 五 - 六

う 二　　え 四

③ 七 - お - 五 - 四 - か

お 六　　か 三

④ 五 - 六 - き - 八 - く

き 七　　く 九

かずの ならびかた

ねん　　くみ

なまえ

/ 8

■ □ に はいる かずを かん字で かきましょう。

① 四 - あ - 六 - 七 - い

あ 五　い 八

② 七 - 六 - う - 四 - え

う 五　え 三

③ お - 三 - 四 - 五 - か

お 二　か 六

④ き - 八 - 七 - く - 五

き 九　く 六

なんばんめ

ねん　　くみ

なまえ

/ 5

① まえから 5ばんめ の まる(○) を ぬりましょう。



② うしろから 3ばんめ の まる(○) を ぬりましょう。

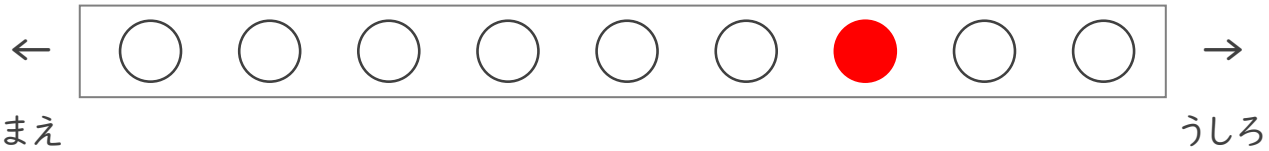

③ まえから 6ばんめ の まる(○) を ぬりましょう。

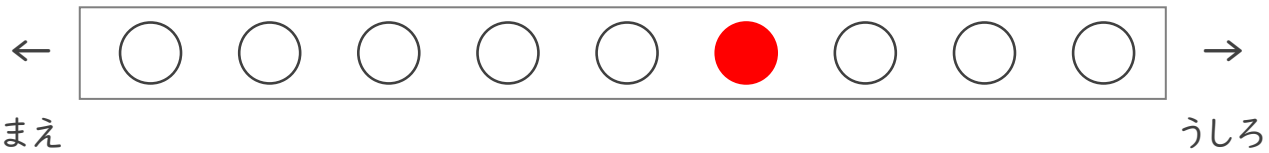

④ うしろから 8ばんめ の まる(○) を ぬりましょう。

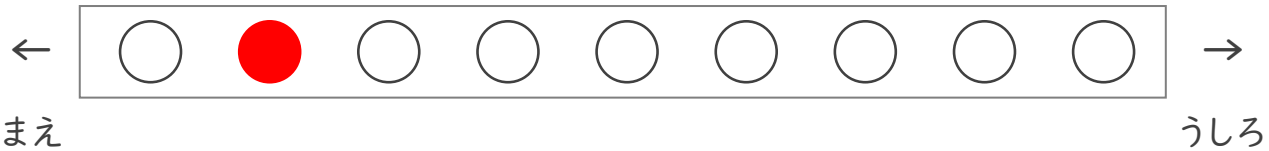

⑤ まえから 8ばんめ の まる(○) を ぬりましょう。

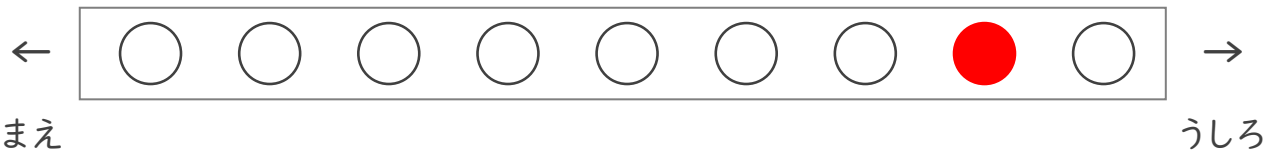

なんばんめ

ねん　　くみ

なまえ

/ 5

① まえから 4ばんめ の まる(〇) を ぬりましょう。

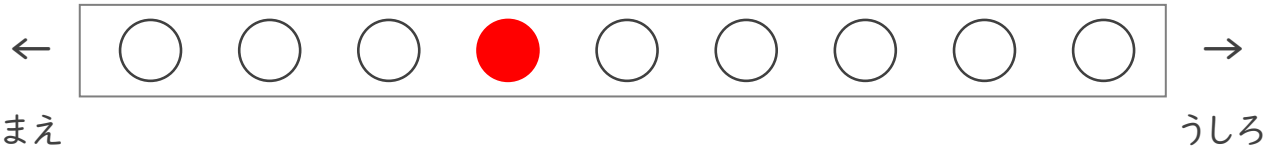

② うしろから 8ばんめ の まる(〇) を ぬりましょう。

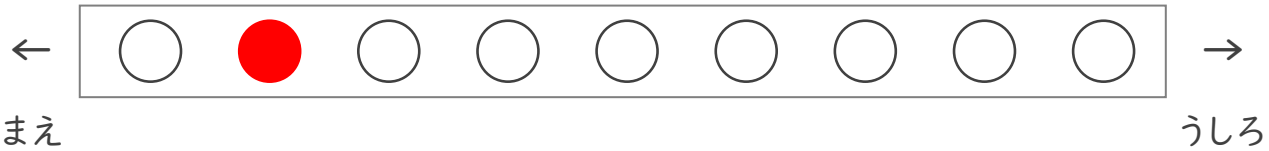

③ まえから 3ばんめ の まる(〇) を ぬりましょう。

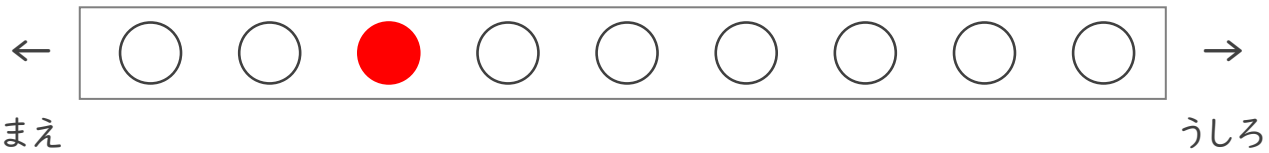

④ うしろから 3ばんめ の まる(〇) を ぬりましょう。

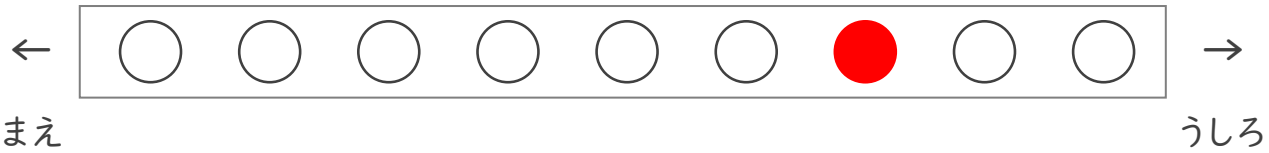

⑤ うしろから 5ばんめ の まる(〇) を ぬりましょう。



ちがいは いくつ

ねん　　くみ

なまえ

/ 6

☆ ☆ ☆ ☆ ☆ ☆ ☆ ☆

◇ ◇ ◇ ◇ ◇ ◇ ◇

① おおいほうの かたち を こたえましょう。

☆

② ①でこたえた かたち のほうが なんこ おおいですか。

1 こ

□ □ □ □ □ □

○ ○ ○ ○ ○ ○ ○ ○ ○ ○

③ おおいほうの かたち を こたえましょう。

○

④ ③でこたえた かたち のほうが なんこ おおいですか。

4 こ

△ △ △ △ △

♡ ♡

⑤ おおいほうの かたち を こたえましょう。

△

⑥ ⑤でこたえた かたち のほうが なんこ おおいですか。

3 こ

ちがいは いくつ

ねん　　くみ

なまえ

/ 6

◇ ◇ ◇ ◇ ◇ ◇ ◇

○ ○

① おおいほうの かたち を こたえましょう。

◇

② ①でこたえた かたち のほうが なんこ おおいですか。

5 こ

△ △ △

□ □ □ □ □ □

③ おおいほうの かたち を こたえましょう。

□

④ ③でこたえた かたち のほうが なんこ おおいですか。

3 こ

♡

☆ ☆ ☆ ☆ ☆ ☆ ☆ ☆ ☆ ☆

⑤ おおいほうの かたち を こたえましょう。

☆

⑥ ⑤でこたえた かたち のほうが なんこ おおいですか。

9 こ

かずの ならびかた

ねん　　くみ

なまえ

/ 15

■ □ に はいる かずを かきましょう。

① あ - 13 - い - 11 - う - 9 - 8

あ 14　い 12　う 10

② 2 - え - 4 - お - 6 - 7 - か

え 3　お 5　か 8

③ き - 10 - く - 8 - 7 - け - 5

き 11　く 9　け 6

④ こ - 11 - さ - 13 - 14 - 15 - し

こ 10　さ 12　し 16

⑤ 20 - す - 18 - せ - 16 - そ - 14

す 19　せ 17　そ 15

かずの ならびかた

ねん　　くみ

なまえ

/ 15

■ □ に はいる かずを かきましょう。

① 4 - 5 - あ - 7 - い - 9 - う

あ 6　い 8　う 10

② 6 - え - 4 - お - 2 - か - 0

え 5　お 3　か 1

③ き - 15 - く - 13 - け - 11 - 10

き 16　く 14　け 12

④ 8 - こ - 10 - さ - 12 - 13 - し

こ 9　さ 11　し 14

⑤ す - 15 - せ - 17 - 18 - 19 - そ

す 14　せ 16　そ 20

なんじ なんじはん

ねん　　くみ

なまえ

/ 8

■ とけいを よみましょう。

①



6じ

②



9じ はん

③



2じ はん

④



5じ

⑤



1じ はん

⑥

11じ

⑦



7じ はん

⑧



3じ

なんじ なんじはん

ねん　　くみ

なまえ

/ 8

■ とけいを よみましょう。

①



6じ

②



7じ はん

③



4じ

④



10じ

⑤



2じ はん

⑥



8じ

⑦



9じ はん

⑧



1じ はん

おおきさくらべ

ねん　　くみ

なまえ

/ 7

■ あ と い の りぼんは どちらが ながいですか。

①

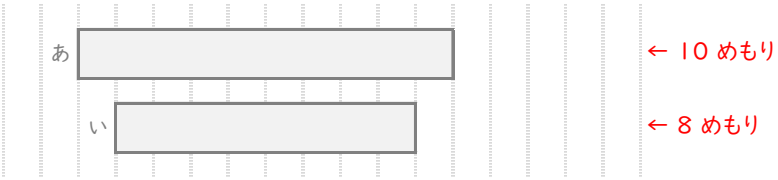

ながいほう　あ

②

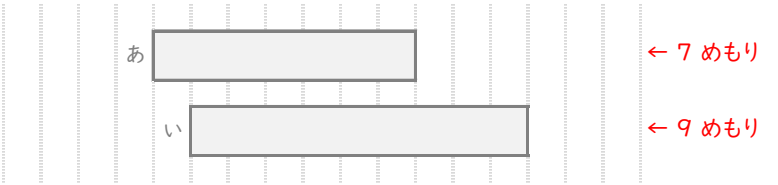

ながいほう　い

③

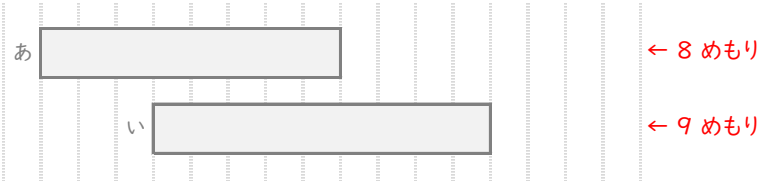

ながいほう　い

④

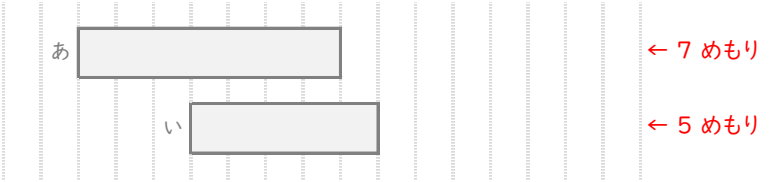

ながいほう　あ

⑤

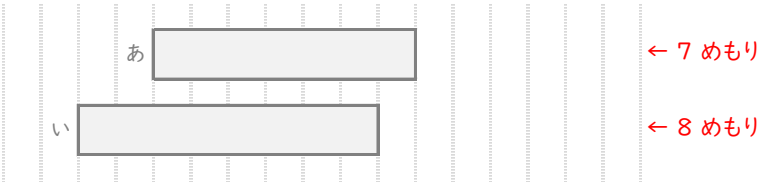

ながいほう　い

⑥

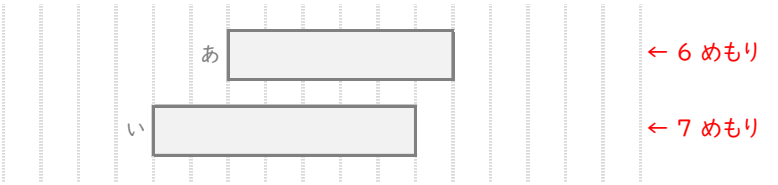

ながいほう　い

⑦

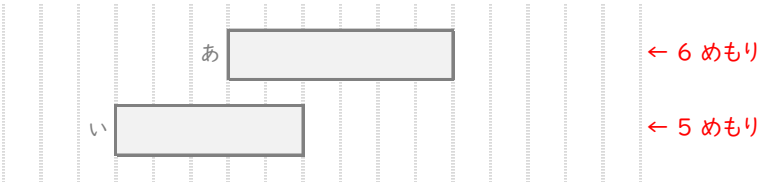

ながいほう　あ

おおきさくらべ

ねん　　くみ

なまえ

/ 7

■ あ と い の りぼんは どちらが ながいですか。

①

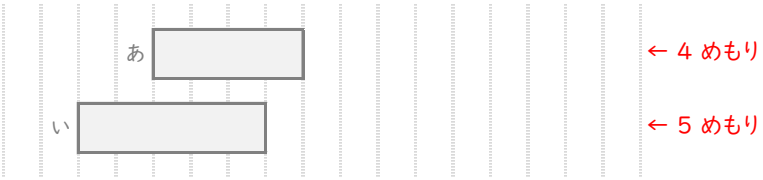

ながいほう　い

②

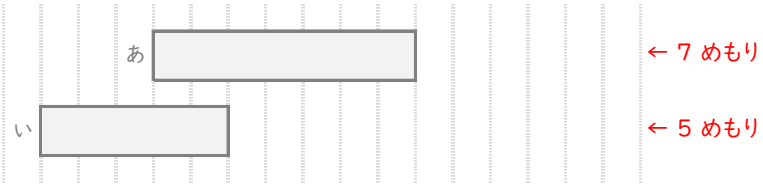

ながいほう　あ

③

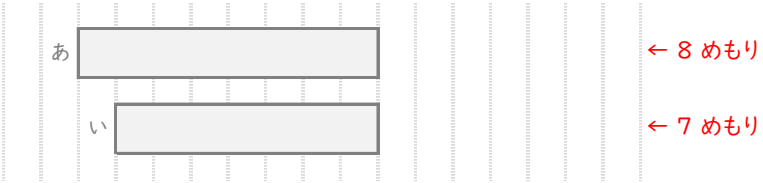

ながいほう　あ

④

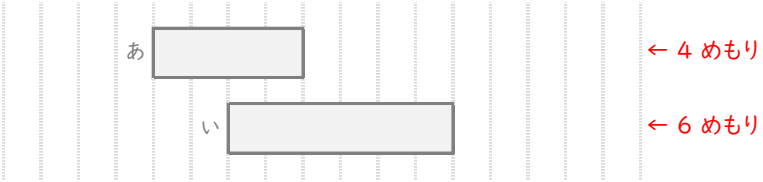

ながいほう　い

⑤

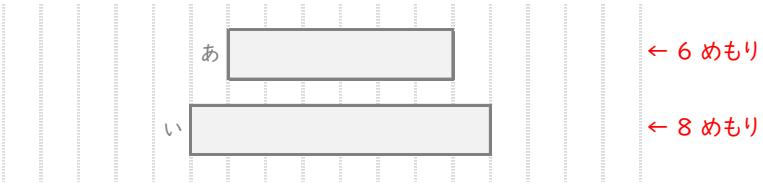

ながいほう　い

⑥

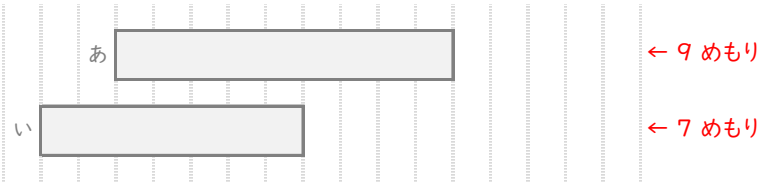

ながいほう　あ

⑦

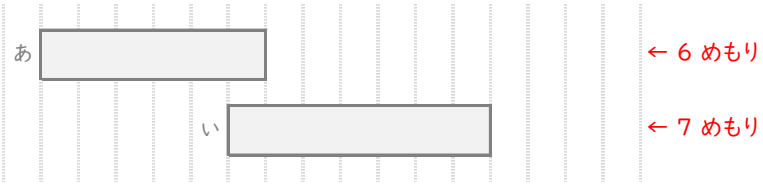

ながいほう　い

どれが おおい

ねん　　くみ

なまえ

/ 4

■ みずが いちばんおおい コップ(こっぷ)に まる(○)を つけましょう。

①

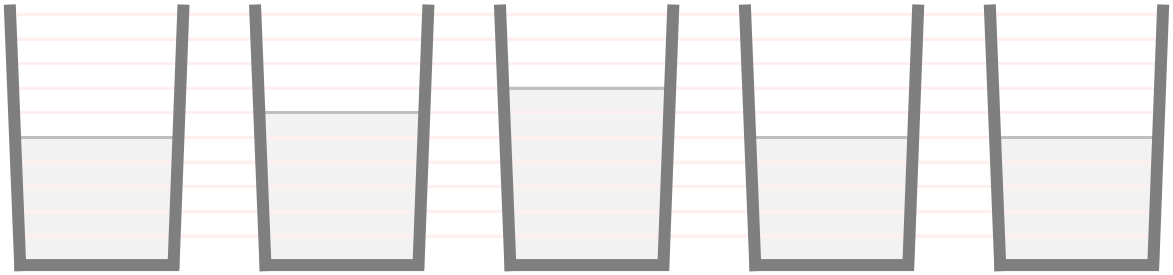

(　　)　(　　)　(　○　)　(　　)　(　　)

②

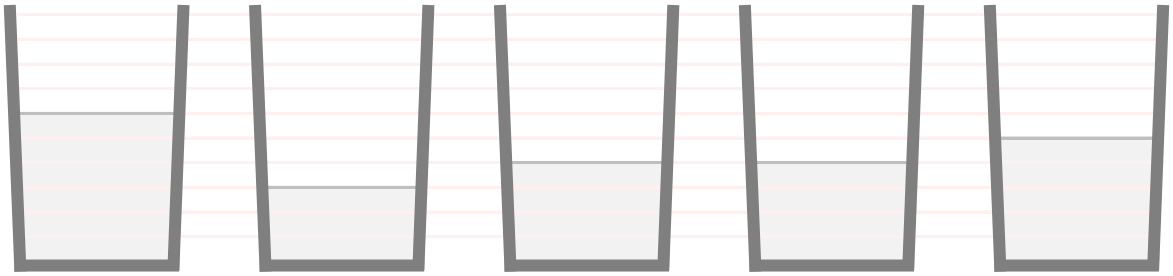

(　○　)　(　　)　(　　)　(　　)　(　　)

③



(　　)　(　　)　(　　)　(　　)　(　○　)

④

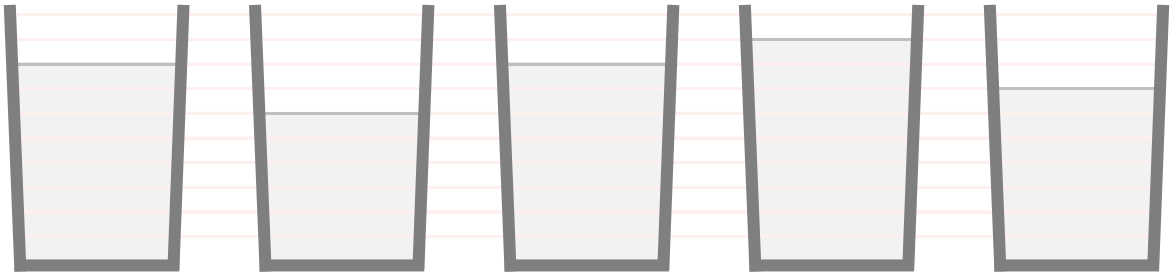

(　　)　(　　)　(　　)　(　○　)　(　　)

どれが おおい

ねん　　くみ

なまえ

/ 4

■ みずが いちばんおおい コップ(こっぷ)に まる(○)を つけましょう。

①



(　　)　(　　)　(　　)　(　　)　(　○　)

②

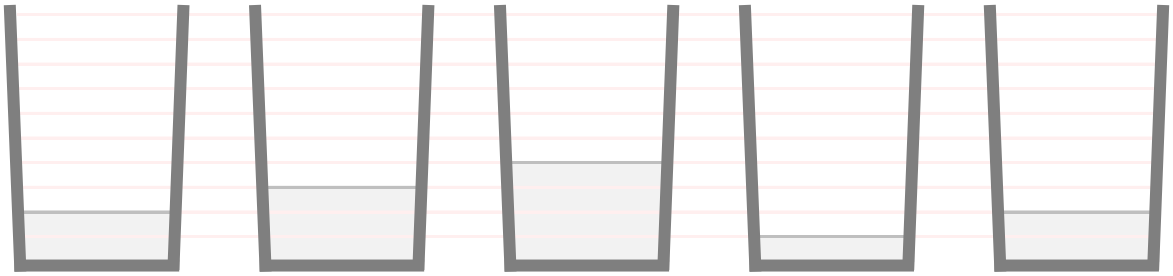

(　　)　(　　)　(　○　)　(　　)　(　　)

③

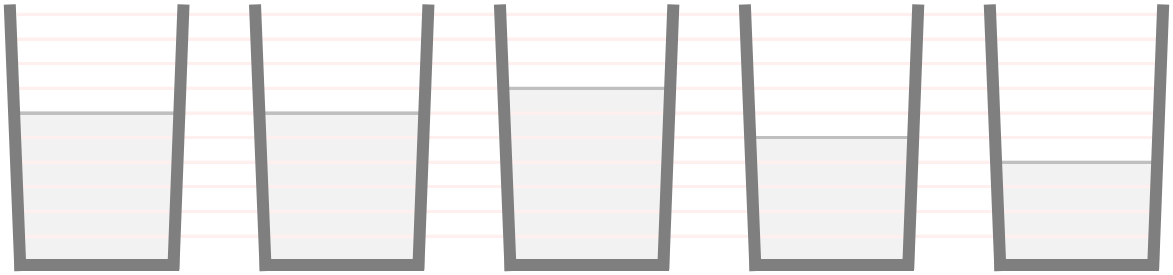

(　　)　(　　)　(　○　)　(　　)　(　　)

④

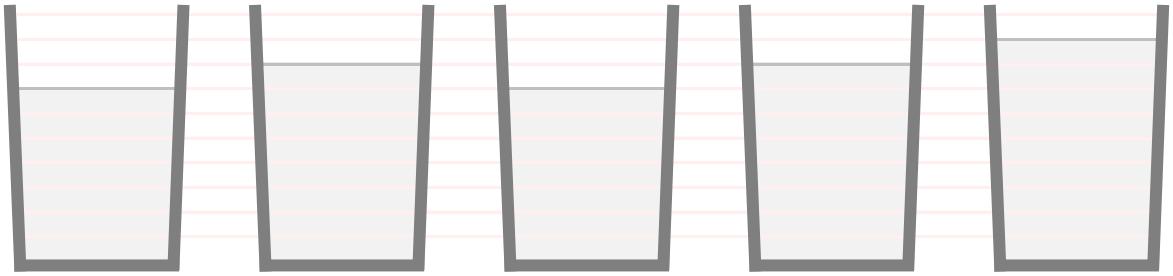

(　　)　(　　)　(　　)　(　　)　(　○　)

たしざん

ねん　　くみ

なまえ

/14

■ つぎのたしざんをしましょう。

① 9 ＋ 2 ＝ 11

② 9 ＋ 4 ＝ 13

③ 9 ＋ 9 ＝ 18

④ 5 ＋ 7 ＝ 12

⑤ 5 ＋ 9 ＝ 14

⑥ 8 ＋ 7 ＝ 15

⑦ 7 ＋ 6 ＝ 13

⑧ 8 ＋ 3 ＝ 11

⑨ 4 ＋ 7 ＝ 11

⑩ 6 ＋ 9 ＝ 15

⑪ 8 ＋ 5 ＝ 13

⑫ 4 ＋ 8 ＝ 12

⑬ 8 ＋ 8 ＝ 16

⑭ 9 ＋ 3 ＝ 12

たしざん

ねん　　くみ

なまえ

/14

■ つぎのたしざんをしましょう。

① 6 ＋ 6 ＝ 12

② 6 ＋ 9 ＝ 15

③ 8 ＋ 8 ＝ 16

④ 8 ＋ 3 ＝ 11

⑤ 9 ＋ 4 ＝ 13

⑥ 7 ＋ 4 ＝ 11

⑦ 6 ＋ 7 ＝ 13

⑧ 8 ＋ 5 ＝ 13

⑨ 8 ＋ 7 ＝ 15

⑩ 8 ＋ 6 ＝ 14

⑪ 9 ＋ 3 ＝ 12

⑫ 8 ＋ 9 ＝ 17

⑬ 5 ＋ 7 ＝ 12

⑭ 7 ＋ 7 ＝ 14

ひきざん

ねん　　くみ

なまえ

/14

■ つぎのひきざんをしましょう。

① 13 − 5 ＝ 8

② 14 − 7 ＝ 7

③ 11 − 4 ＝ 7

④ 13 − 6 ＝ 7

⑤ 12 − 4 ＝ 8

⑥ 12 − 3 ＝ 9

⑦ 16 − 8 ＝ 8

⑧ 18 − 9 ＝ 9

⑨ 14 − 5 ＝ 9

⑩ 11 − 8 ＝ 3

⑪ 17 − 9 ＝ 8

⑫ 13 − 4 ＝ 9

⑬ 15 − 6 ＝ 9

⑭ 15 − 7 ＝ 8

ひきざん

ねん　　くみ

なまえ

/14

■ つぎのひきざんをしましょう。

① 13 − 4 ＝ 9

② 15 − 8 ＝ 7

③ 11 − 6 ＝ 5

④ 12 − 3 ＝ 9

⑤ 14 − 6 ＝ 8

⑥ 12 − 6 ＝ 6

⑦ 13 − 5 ＝ 8

⑧ 18 − 9 ＝ 9

⑨ 16 − 8 ＝ 8

⑩ 12 − 5 ＝ 7

⑪ 14 − 7 ＝ 7

⑫ 11 − 4 ＝ 7

⑬ 13 − 6 ＝ 7

⑭ 14 − 9 ＝ 5

ひきざん(2)

ねん　　くみ

なまえ

/ 7

① ふうせんが 15 こ あります。

8こ われると、のこりは なんこ ですか。

(しき) 15 − 8 = 7

7こ

② らむねが 11こ あります。

6こ たべると、のこりは なんこ ですか。

(しき) 11 − 6 = 5

5こ

③ 15わの とりが きに とまっています。

9わが とんでいくと、のこりは なんわ ですか。

(しき) 15 − 9 = 6

6わ

④ がようしが 16 まい あります。

3 まい つかうと、のこりは なんまい ですか。

(しき) 16 − 3 = 13

13まい

⑤ 13ぺえじの えほんが あります。

6ぺえじ よむと、のこりは なんぺえじ ですか。

(しき) 13 − 6 = 7

7ぺえじ

⑥ 13とうの ぞうが います。

おすは 9 とうです。めすは なんとう ですか。

(しき) 13 − 9 = 4

4とう

⑦ 16まいの かあどが あります。

8まいが おもてを むいています。なんまいが うらむき ですか。

(しき) 16 − 8 = 8

8まい

ひきざん(2)

ねん　　くみ

なまえ

/ 7

① みかんが 19こ あります。

3こ たべると、のこりは なんこ ですか。

(しき) 19 − 3 = 16

16こ

② くりを 13こ もっています。

ともだちに 5こ あげると、なんこ のこりますか。

(しき) 13 − 5 = 8

8こ

③ 11わの とりが きに とまっています。

3わが とんでいくと、のこりは なんわ ですか。

(しき) 11 − 3 = 8

8わ

④ ふうせんが 11 こ あります。

8こ われると、のこりは なんこ ですか。

(しき) 11 − 8 = 3

3こ

⑤ 15まいの かあどが あります。

8まいが おもてを むいています。なんまいが うらむき ですか。

(しき) 15 − 8 = 7

7まい

⑥ 12ぺえじの えほんが あります。

6ぺえじ よむと、のこりは なんぺえじ ですか。

(しき) 12 − 6 = 6

6ぺえじ

⑦ 12とうの ぞうが います。

おすは 2 とうです。めすは なんとう ですか。

(しき) 12 − 2 = 10

10とう

ひきざん

ねん　　くみ

なまえ

/14

■ つぎのひきざんをしましょう。

① 9 − 9 ＝ 0

② 10 − 10 ＝ 0

③ 6 − 0 ＝ 6

④ 3 − 3 ＝ 0

⑤ 4 − 4 ＝ 0

⑥ 10 − 0 ＝ 10

⑦ 8 − 0 ＝ 8

⑧ 5 − 0 ＝ 5

⑨ 1 − 0 ＝ 1

⑩ 3 − 0 ＝ 3

⑪ 5 − 5 ＝ 0

⑫ 6 − 6 ＝ 0

⑬ 2 − 2 ＝ 0

⑭ 2 − 0 ＝ 2

ひきざん

ねん　　くみ

なまえ

/14

■ つぎのひきざんをしましょう。

① 8 − 0 = 8

② 5 − 5 = 0

③ 3 − 0 = 3

④ 9 − 0 = 9

⑤ 10 − 0 = 10

⑥ 8 − 8 = 0

⑦ 3 − 3 = 0

⑧ 6 − 0 = 6

⑨ 2 − 2 = 0

⑩ 1 − 1 = 0

⑪ 1 − 0 = 1

⑫ 4 − 4 = 0

⑬ 9 − 9 = 0

⑭ 5 − 0 = 5

うえから ひだりから

ねん　　くみ

なまえ

/ 3

■ 25にんが つかう げたばこが あります。

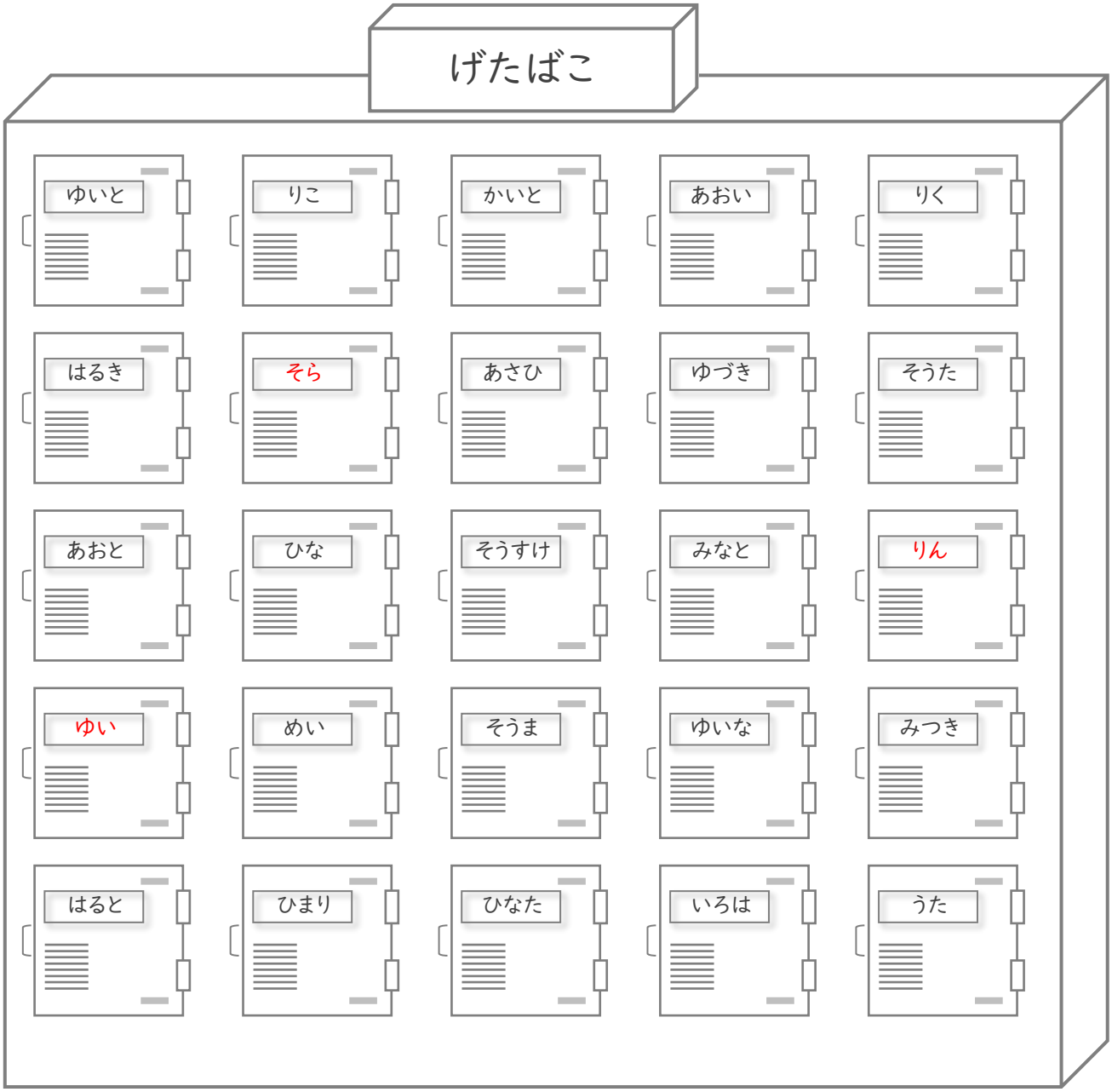

① うえから 3ばんめ、ひだりから 5ばんめは だれの げたばこ ですか。　りん　さん

② うえから 2ばんめ、ひだりから 2ばんめは だれの げたばこ ですか。　そら　さん

③ うえから 4ばんめ、ひだりから 1ばんめは だれの げたばこ ですか。　ゆい　さん

うえから ひだりから

ねん　　くみ

なまえ

/ 3

■ 25にんが つかう げたばこが あります。

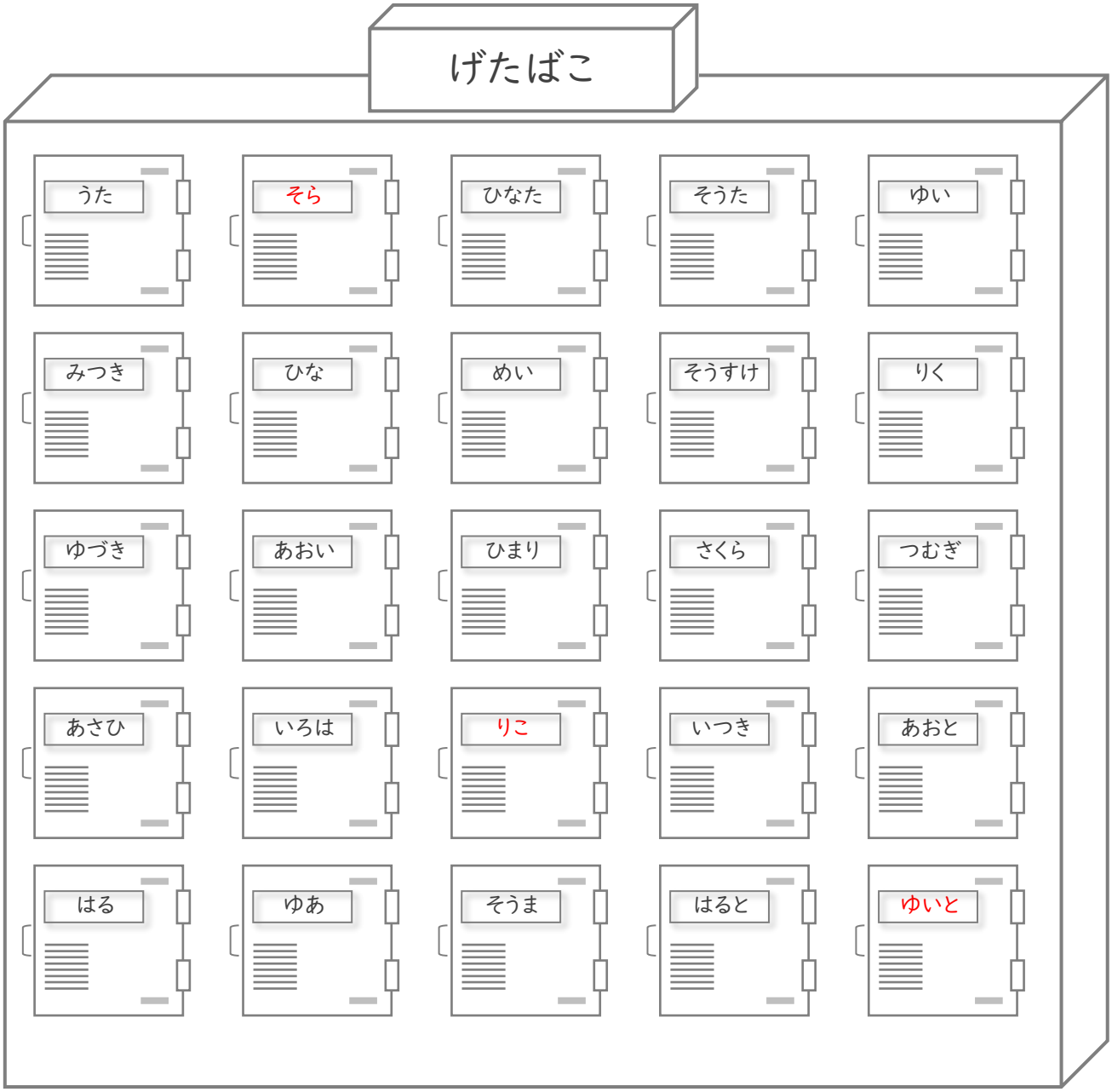

① うえから 1ばんめ、ひだりから 2ばんめは だれの げたばこ ですか。　そら　さん

② うえから 5ばんめ、ひだりから 5ばんめは だれの げたばこ ですか。　ゆいと　さん

③ うえから 4ばんめ、ひだりから 3ばんめは だれの げたばこ ですか。　りこ　さん

うえから ひだりから

ねん　　くみ

なまえ

/ 3

■ 25にんが つかう げたばこが あります。

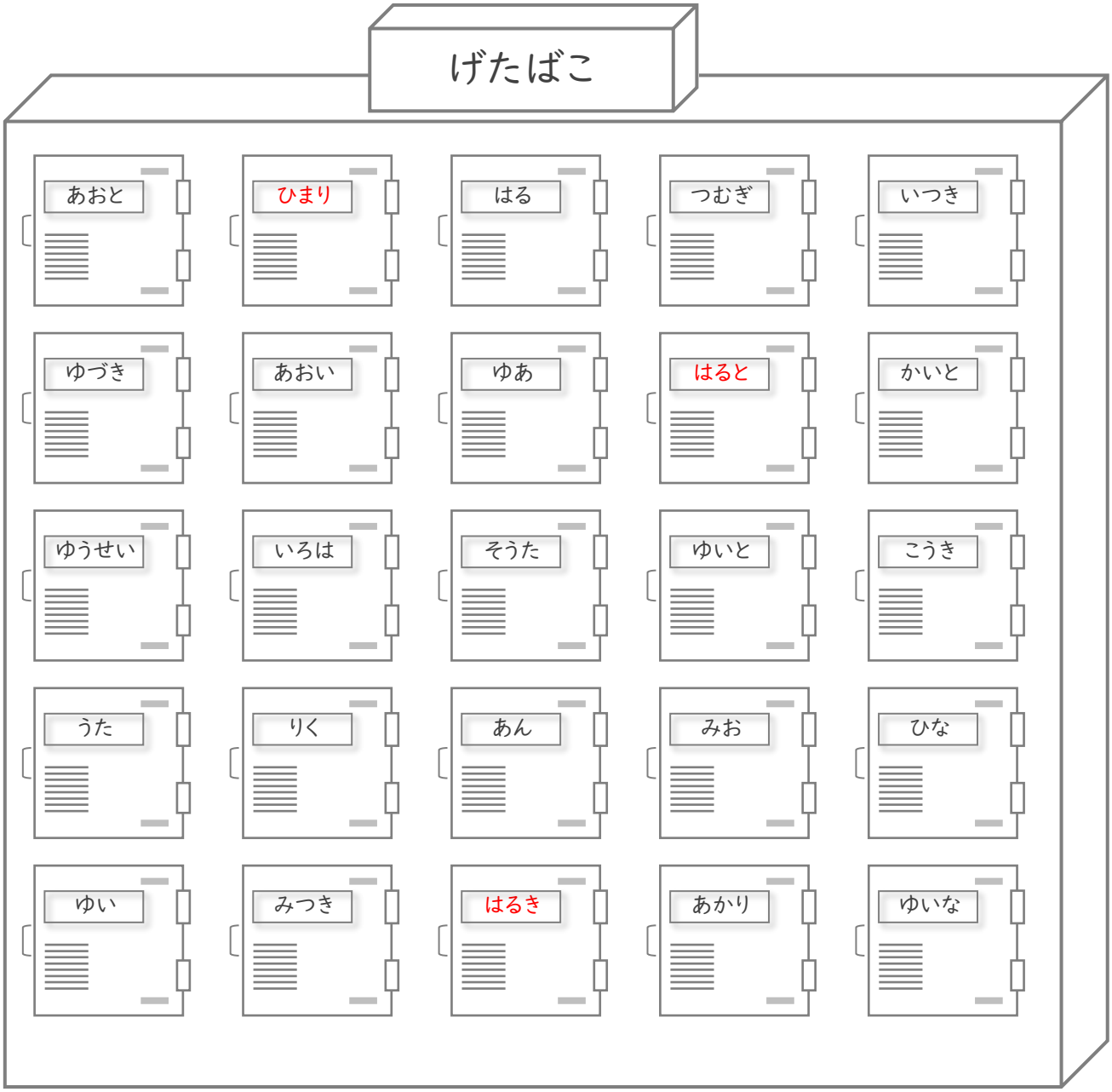

① うえから 5ばんめ、ひだりから 3ばんめは だれの げたばこ ですか。　はるき　さん

② うえから 1ばんめ、ひだりから 2ばんめは だれの げたばこ ですか。　ひまり　さん

③ うえから 2ばんめ、ひだりから 4ばんめは だれの げたばこ ですか。　はると　さん

ものの いち

ねん　　くみ

なまえ

/ 3

■ ただしい かたちの したに まる(○)を つけましょう。

① から うえに 2つ、ひだりに 1つ すすんだ ところに ある かたち

( )　( )　(○)　( )　( )

② から うえに 1つ、ひだりに 2つ すすんだ ところに ある かたち

( )　(○)　( )　( )　( )

③ から うえに 3つ すすんだ ところに ある かたち

(○)　( )　( )　( )　( )

ものの いち

ねん　　くみ

なまえ

/ 3

■ ただしい かたちの したに まる(○)を つけましょう。

① から うえに 1つ、ひだりに 1つ すすんだ ところに ある かたち

( ) ( ) ( ) (○) ( )

② から うえに 2つ、みぎに 2つ すすんだ ところに ある かたち

( ) ( ) ( ) ( ) (○)

③ から したに 2つ、ひだりに 3つ すすんだ ところに ある かたち

( ) ( ) ( ) ( ) (○)

ものの いち

ねん　　くみ

なまえ

/ 3

■ ただしい かたちの したに まる(○)を つけましょう。



① から うえに 2つ、みぎに 3つ すすんだ ところに ある かたち

( ) ( ) (○) ( ) ( )

② から うえに 2つ、ひだりに 2つ すすんだ ところに ある かたち

( ) (○) ( ) ( ) ( )

③ から うえに 3つ、みぎに 2つ すすんだ ところに ある かたち

( ) ( ) (○) ( ) ( )