教材おきば の

これだけ、安心

算数ドリル

1－12

小学１年生

もくじ

①	いくつといくつ	２ページ
②	ふやしてみよう	２ページ
③	たしざんのしくみ 式を求める	２ページ
④	かぞえよう 10より おおきい かず	２ページ
⑤	なんじ なんじはん	２ページ
⑥	3つのかずのけいさん(1)	２ページ
⑦	コップの みずは どれが おおい	２ページ
⑧	たしざんを つかって あんごうを とこう(2)	３ページ
⑨	てんを つないで	１ページ
⑩	ひきざんのしきをたてて(2) 文章問題	２ページ
⑪	「＋」や「－」をあてはめて	２ページ
⑫	うえから ひだりから	３ページ
⑬	ものの いち	３ページ
	合計	２８ページ

© 2022 kyozai-okiba.com

いくつといくつ

ねん　　くみ

なまえ

/14

■ □ に はいる かずを かきましょう。

① 9 は 2 と □

② 8 は 6 と □

③ 4 は 2 と □

④ 10 は 9 と □

⑤ 10 は 2 と □

⑥ 10 は 6 と □

⑦ 8 は 1 と □

⑧ 7 は 4 と □

⑨ 4 は 3 と □

⑩ 5 は 3 と □

⑪ 8 は 2 と □

⑫ 8 は 5 と □

⑬ 6 は 3 と □

⑭ 9 は 7 と □

いくつといくつ

ねん　　くみ

なまえ

/14

■ □ に はいる かずを かきましょう。

① 10 は 5 と □

② 10 は 3 と □

③ 10 は 4 と □

④ 9 は 4 と □

⑤ 6 は 4 と □

⑥ 6 は 2 と □

⑦ 4 は 1 と □

⑧ 7 は 5 と □

⑨ 6 は 1 と □

⑩ 5 は 2 と □

⑪ 9 は 5 と □

⑫ 10 は 7 と □

⑬ 5 は 4 と □

⑭ 6 は 5 と □

ふやしてみよう

ねん　　くみ

なまえ

/ 6

■ まる (○) が 3つ あります。

① まる (○) を 2つ ふやしましょう。

○	○	○						

② まる (○) は ぜんぶで なんこ に なりましたか。

こ

■ さんかく (△) が 5つ あります。

③ さんかく (△) を 4つ ふやしましょう。

△	△	△	△	△				

④ さんかく (△) は ぜんぶで なんこ に なりましたか。

こ

■ しかく (□) が 5つ あります。

⑤ しかく (□) を 2つ ふやしましょう。

□	□	□	□	□				

⑥ しかく (□) は ぜんぶで なんこ に なりましたか。

こ

ふやしてみよう

ねん　　くみ

なまえ

/ 6

■ まる (○) が 3つ あります。

① まる (○) を 2つ ふやしましょう。

○	○	○						

② まる (○) は ぜんぶで なんこ に なりましたか。

こ

■ さんかく (△) が 2つ あります。

③ さんかく (△) を 2つ ふやしましょう。

△	△							

④ さんかく (△) は ぜんぶで なんこ に なりましたか。

こ

■ しかく (□) が 2つ あります。

⑤ しかく (□) を 5つ ふやしましょう。

□	□							

⑥ しかく (□) は ぜんぶで なんこ に なりましたか。

こ

たしざんのしくみ

ねん　　くみ

なまえ

/14

■ つぎの □ に あてはまる かずを こたえましょう。

① 5 ＋ □ ＝ 8

② 3 ＋ □ ＝ 6

③ 1 ＋ □ ＝ 2

④ 5 ＋ □ ＝ 9

⑤ 1 ＋ □ ＝ 3

⑥ 4 ＋ □ ＝ 6

⑦ 9 ＋ □ ＝ 10

⑧ 1 ＋ □ ＝ 4

⑨ 5 ＋ □ ＝ 10

⑩ 5 ＋ □ ＝ 6

⑪ 6 ＋ □ ＝ 9

⑫ 8 ＋ □ ＝ 10

⑬ 1 ＋ □ ＝ 9

⑭ 4 ＋ □ ＝ 8

たしざんのしくみ

ねん　　くみ

なまえ

/14

■ つぎの □ に あてはまる かずを こたえましょう。

① 5 ＋ □ ＝ 9

② 1 ＋ □ ＝ 6

③ 1 ＋ □ ＝ 8

④ 3 ＋ □ ＝ 4

⑤ 1 ＋ □ ＝ 7

⑥ 4 ＋ □ ＝ 6

⑦ 5 ＋ □ ＝ 10

⑧ 3 ＋ □ ＝ 10

⑨ 8 ＋ □ ＝ 10

⑩ 5 ＋ □ ＝ 8

⑪ 4 ＋ □ ＝ 5

⑫ 2 ＋ □ ＝ 4

⑬ 6 ＋ □ ＝ 8

⑭ 4 ＋ □ ＝ 7

かぞえよう

ねん　　くみ

なまえ

/ 3

まる(●) の かず を かぞえましょう。

①



こ

②



こ

③



こ

かぞえよう

ねん　　くみ

なまえ

/ 3

まる(●) の かず を かぞえましょう。

①

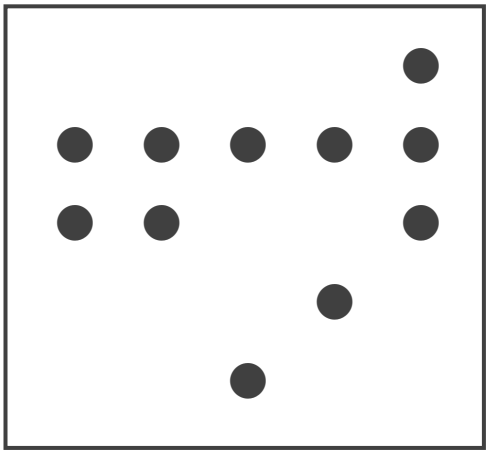

こ

②



こ

③



こ

なんじ なんじはん

ねん　　くみ

なまえ

/ 8

■ とけいを よみましょう。

①

②



③



④



⑤



⑥



⑦



⑧



なんじ なんじはん

ねん　　くみ

なまえ

/ 8

■ とけいを よみましょう。

①



②



③



④



⑤



⑥



⑦



⑧



3つのかずのけいさん(1)

ねん　　くみ

なまえ

/10

■ つぎのけいさんをしましょう。

① 9 − 5 − 2 ＝

② 10 − 3 − 1 ＝

③ 8 − 1 − 4 ＝

④ 16 − 6 − 2 ＝

⑤ 8 − 3 − 3 ＝

⑥ 4 − 2 − 1 ＝

⑦ 10 − 8 − 1 ＝

⑧ 12 − 2 − 1 ＝

⑨ 9 − 2 − 2 ＝

⑩ 19 − 9 − 5 ＝

3つのかずのけいさん(1)

ねん　　くみ

なまえ

/10

■ つぎのけいさんをしましょう。

① 15 − 5 − 4 ＝

② 4 − 2 − 1 ＝

③ 5 − 3 − 1 ＝

④ 10 − 4 − 5 ＝

⑤ 16 − 6 − 7 ＝

⑥ 6 − 1 − 3 ＝

⑦ 4 − 1 − 2 ＝

⑧ 19 − 9 − 2 ＝

⑨ 7 − 2 − 2 ＝

⑩ 9 − 7 − 1 ＝

どれが おおい

ねん　　くみ

なまえ

/ 4

■ みずが いちばんおおい コップ(こっぷ)に まる(○)を つけましょう。

①

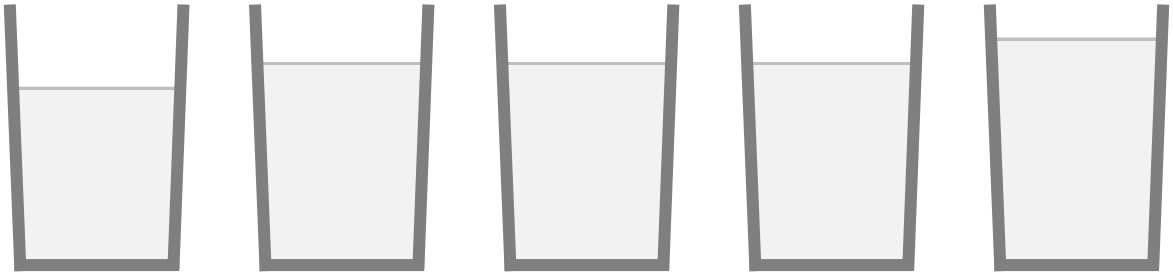

(　　)　(　　)　(　　)　(　　)　(　　)

②

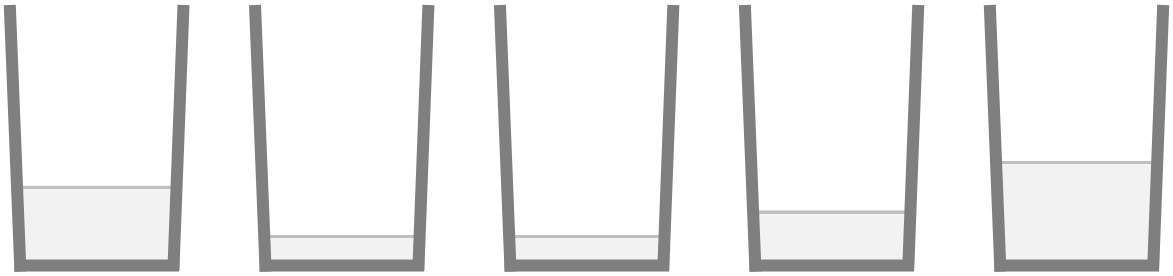

(　　)　(　　)　(　　)　(　　)　(　　)

③

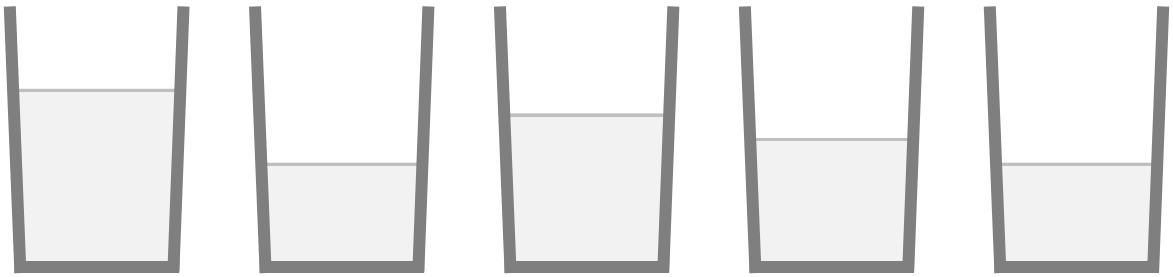

(　　)　(　　)　(　　)　(　　)　(　　)

④

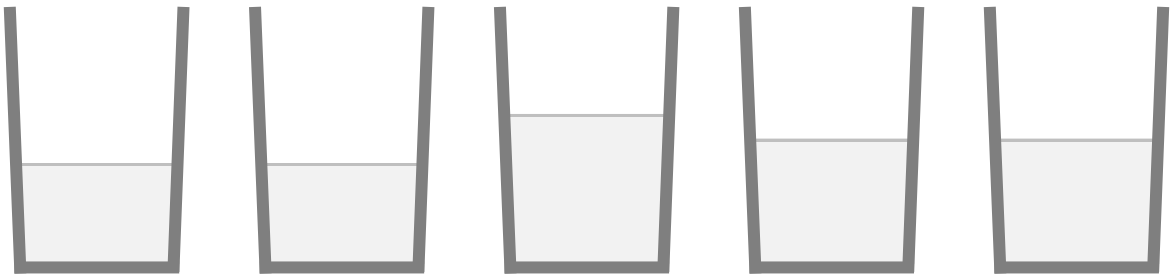

(　　)　(　　)　(　　)　(　　)　(　　)

どれが おおい

ねん　　くみ

なまえ

/ 4

■ みずが いちばんおおい コップ(こっぷ)に まる(○)を つけましょう。

①

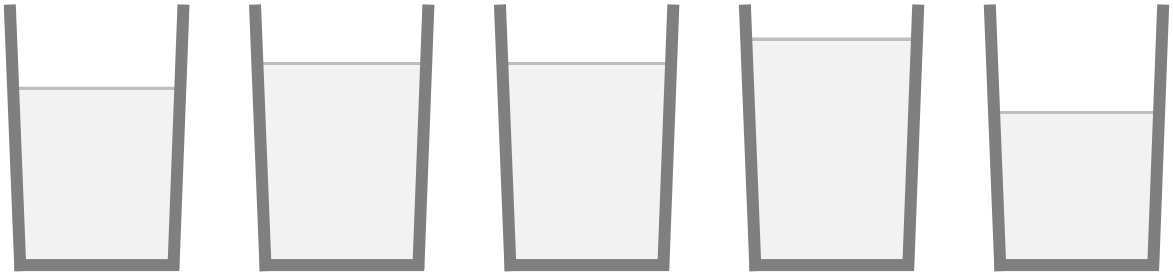

(　　)　(　　)　(　　)　(　　)　(　　)

②

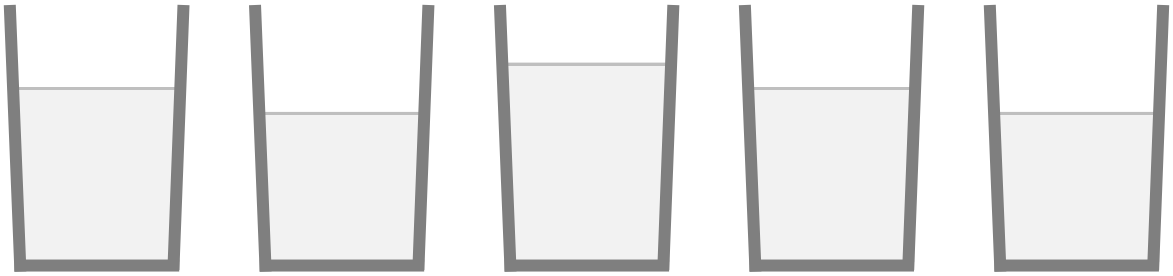

(　　)　(　　)　(　　)　(　　)　(　　)

③

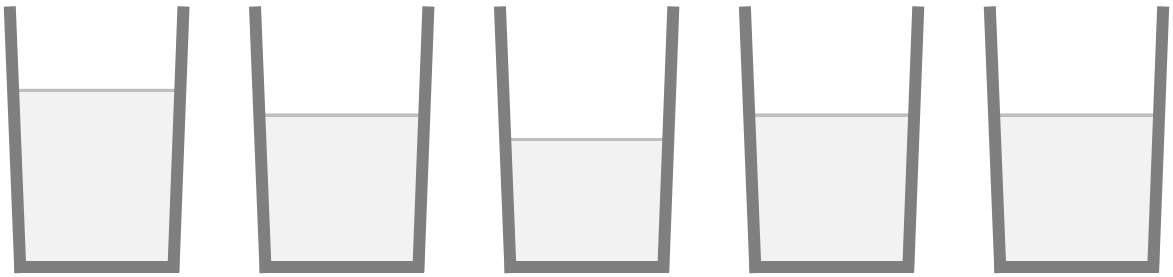

(　　)　(　　)　(　　)　(　　)　(　　)

④

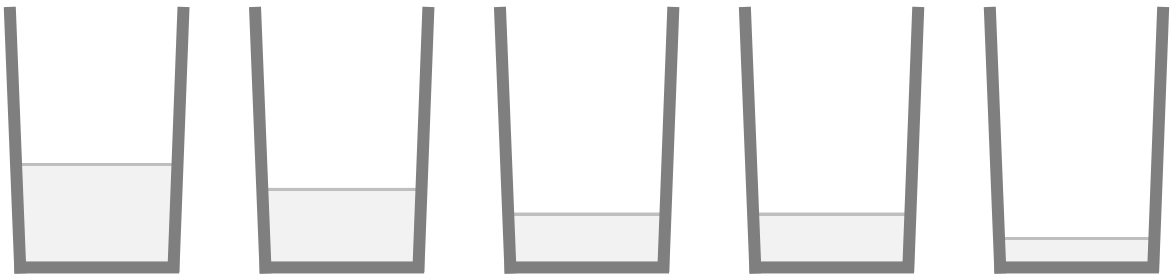

(　　)　(　　)　(　　)　(　　)　(　　)

たしざんを つかって

ねん　　くみ

なまえ

/ 6

■ たしざんをつかって あんごうを ときましょう。

①

8＋7	9＋10	8＋3	9＋7

8＋4	8＋9	9＋9	10＋10

11．さ　12．か　13．ど　14．そ　15．も
16．し　17．い　18．だ　19．の　20．ん

②

9＋10	8＋5	7＋8	2＋9

7＋9	9＋8	10＋8	9＋5

11．う　12．か　13．い　14．ん　15．よ
16．こ　17．う　18．え　19．た　20．え

③

9＋3	9＋5	7＋8	10＋10

3＋8	8＋10	4＋9	10＋9

11．さ　12．は　13．こ　14．ぶ　15．ら
16．え　17．け　18．い　19．ろ　20．し

たしざんを つかって

ねん　　くみ

なまえ

/ 6

■ たしざんをつかって あんごうを ときましょう。

①

8＋7	8＋10	8＋5	9＋5

8＋9	10＋10	9＋7	8＋3

11．わ	12．や	13．が	14．ん	15．か
16．な	17．お	18．い	19．あ	20．き

②

9＋8	9＋7	4＋8	10＋10

8＋6	9＋6	8＋10	8＋3

11．き	12．い	13．ふ	14．ら	15．く
16．ぐ	17．う	18．が	19．こ	20．す

③

10＋10	4＋8	5＋8	9＋10

7＋9	8＋9	9＋5	9＋9

11．さ	12．ま	13．う	14．ぴ	15．も
16．え	17．ん	18．つ	19．ま	20．し

たしざんを つかって

ねん　　くみ

なまえ

/ 6

■ たしざんをつかって あんごうを ときましょう。

①

9＋5	5＋8	10＋10	9＋8

9＋10	8＋10	2＋9	6＋9

11．さ　12．ら　13．め　14．あ　15．く
16．む　17．か　18．う　19．こ　20．り

②

6＋9	6＋8	8＋9	8＋5

4＋7	7＋9	10＋10	10＋9

11．か　12．た　13．つ　14．い　15．あ
16．い　17．さ　18．と　19．ん　20．が

③

10＋9	9＋9	10＋10	8＋6

7＋8	9＋8	8＋8	6＋7

11．は　12．そ　13．し　14．わ　15．は
16．ら　17．ぶ　18．か　19．な　20．に

かたちづくり

ねん　　くみ

なまえ

/ 4

■ てんを せんで つないで おてほんの かたちを つくりましょう。

①

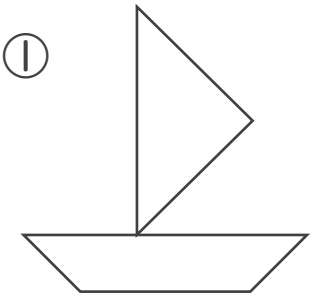

②

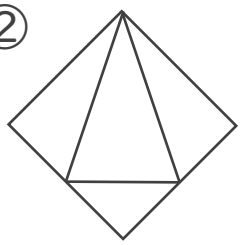

③

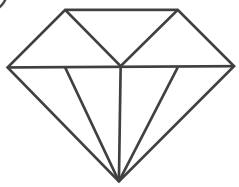

④

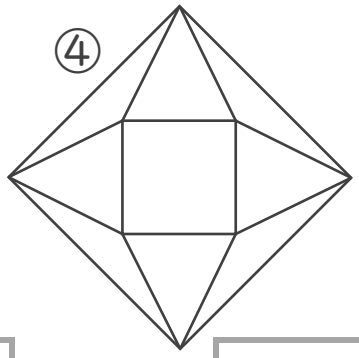

ひきざん(2)

ねん　　くみ

なまえ

/ 7

① いろがみが 12 まい あります。

3 まい つかうと、のこりは なんまい ですか。

(しき)

② くりが 12こ あります。

8こ たべると、のこりは なんこ ですか。

(しき)

③ とまとを 14こ もっています。

ともだちに 1こ あげると、なんこ のこりますか。

(しき)

④ バスに 13にんの ひとが のっています。

9にん おりると、のこりは なんにん ですか。

(しき)

⑤ 16わの とりが きに とまっています。

7わが とんでいくと、のこりは なんわ ですか。

(しき)

⑥ 14とうの きりんが います。

めすは 9 とうです。おすは なんとう ですか。

(しき)

⑦ 11ぺえじの えほんが あります。

6ぺえじ よむと、のこりは なんぺえじ ですか。

(しき)

ひきざん(2)

ねん　　くみ

なまえ

/ 7

① 13とうの こあらが います。

めすは 8 とうです。おすは なんとう ですか。

(しき)

② あんぱんを 17こ もっています。

ともだちに 6こ あげると、なんこ のこりますか。

(しき)

③ 11ぺえじの えほんが あります。

5ぺえじ よむと、のこりは なんぺえじ ですか。

(しき)

④ ふうせんが 14 こ あります。

9こ われると、のこりは なんこ ですか。

(しき)

⑤ バスに 12にんの ひとが のっています。

3にん おりると、のこりは なんにん ですか。

(しき)

⑥ 17わの とりが きに とまっています。

8わが とんでいくと、のこりは なんわ ですか。

(しき)

⑦ 12まいの かあどが あります。

9まいが おもてを むいています。なんまいが うらむき ですか。

(しき)

「＋」や「－」をあてはめて

ねん　　くみ

なまえ

/ 8

■ □ に あてはまる「＋」や「－」を こたえましょう。

		「＋」か「－」をこたえる		「＋」か「－」をこたえる			
①	8	□	4	□	3	＝	1
②	7	□	1	□	3	＝	5
③	6	□	2	□	6	＝	2
④	8	□	1	□	1	＝	10
⑤	6	□	2	□	1	＝	5
⑥	6	□	3	□	9	＝	12
⑦	5	□	2	□	1	＝	2
⑧	4	□	5	□	4	＝	13

「＋」や「－」をあてはめて

ねん　　くみ

なまえ

/ 8

■ □ に あてはまる「＋」や「－」を こたえましょう。

		「＋」か「－」をこたえる		「＋」か「－」をこたえる			
①	9	□	5	□	6	＝	8
②	1	□	3	□	6	＝	10
③	5	□	1	□	3	＝	7
④	4	□	1	□	8	＝	11
⑤	5	□	2	□	1	＝	2
⑥	4	□	6	□	7	＝	17
⑦	9	□	2	□	2	＝	5
⑧	9	□	2	□	1	＝	10

うえから ひだりから

ねん　　くみ

なまえ

/ 3

■ 25にんが つかう げたばこが あります。

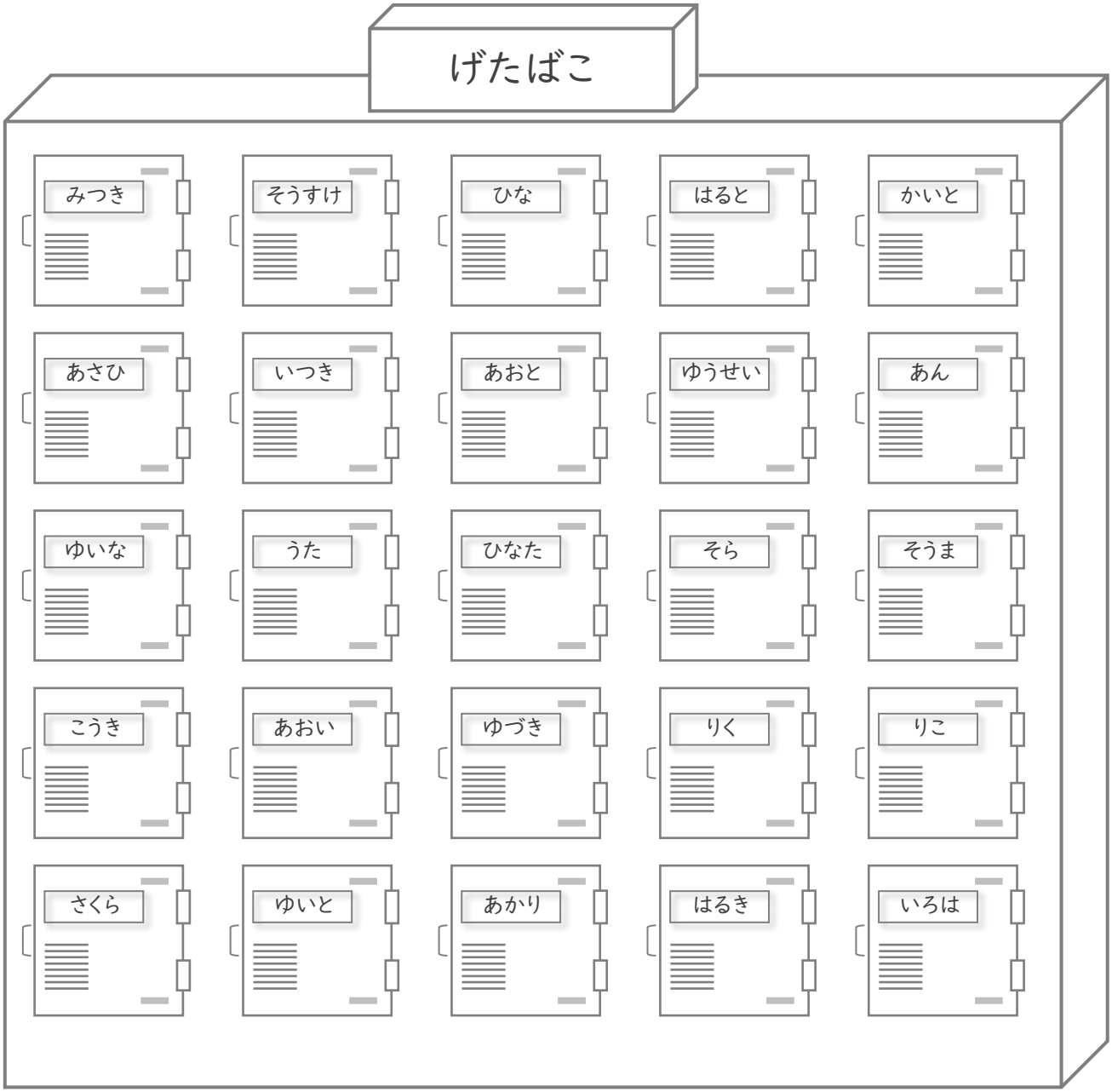

① うえから 2ばんめ、ひだりから 4ばんめは だれの げたばこ ですか。　　さん

② うえから 5ばんめ、ひだりから 5ばんめは だれの げたばこ ですか。　　さん

③ うえから 5ばんめ、ひだりから 1ばんめは だれの げたばこ ですか。　　さん

うえから ひだりから

ねん　　くみ

なまえ

/ 3

■ 25にんが つかう げたばこが あります。

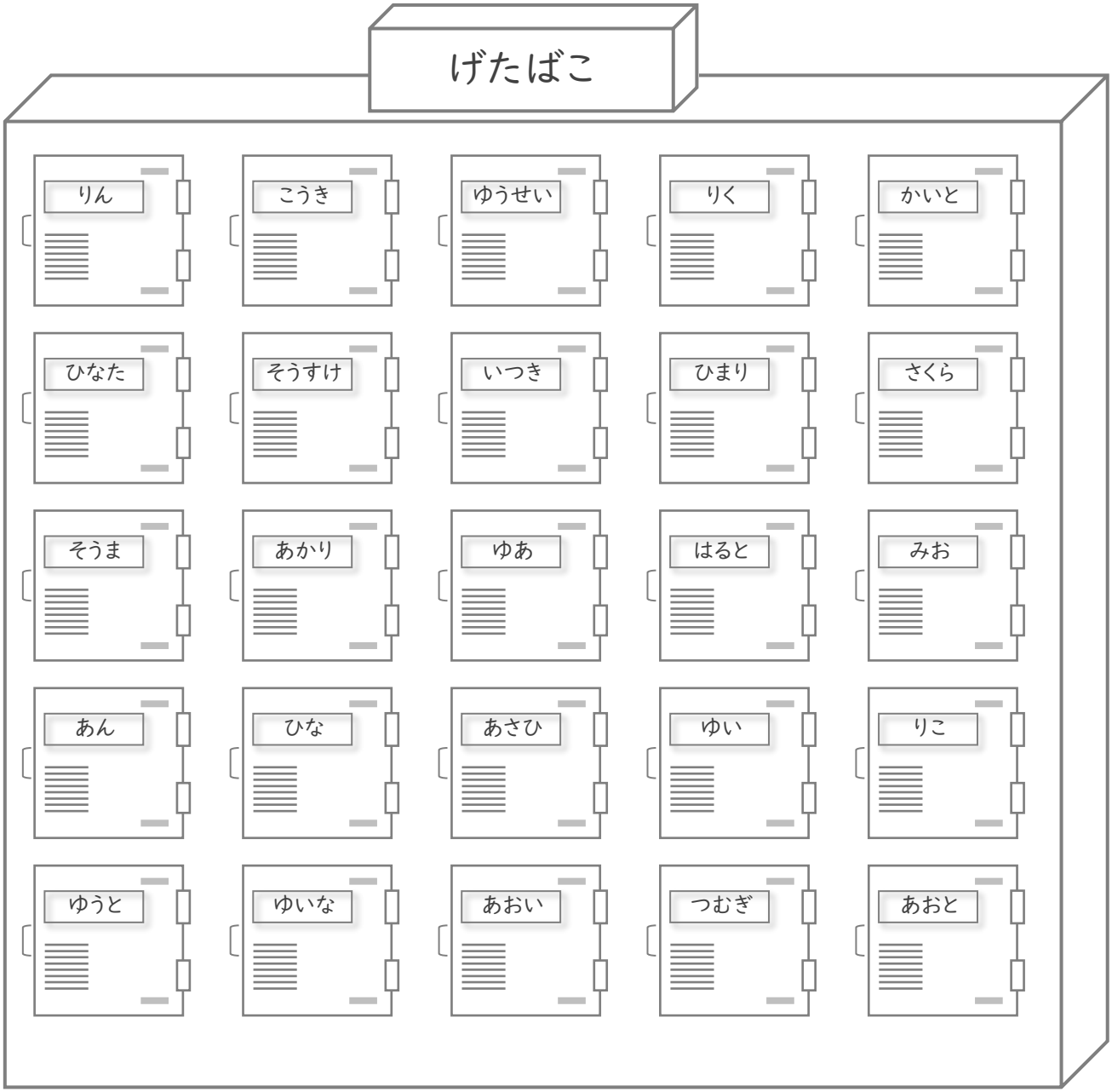

① うえから 4ばんめ、ひだりから 2ばんめは だれの げたばこ ですか。　　さん

② うえから 5ばんめ、ひだりから 4ばんめは だれの げたばこ ですか。　　さん

③ うえから 1ばんめ、ひだりから 3ばんめは だれの げたばこ ですか。　　さん

うえから ひだりから

ねん　　くみ

なまえ

/ 3

■ 25にんが つかう げたばこが あります。

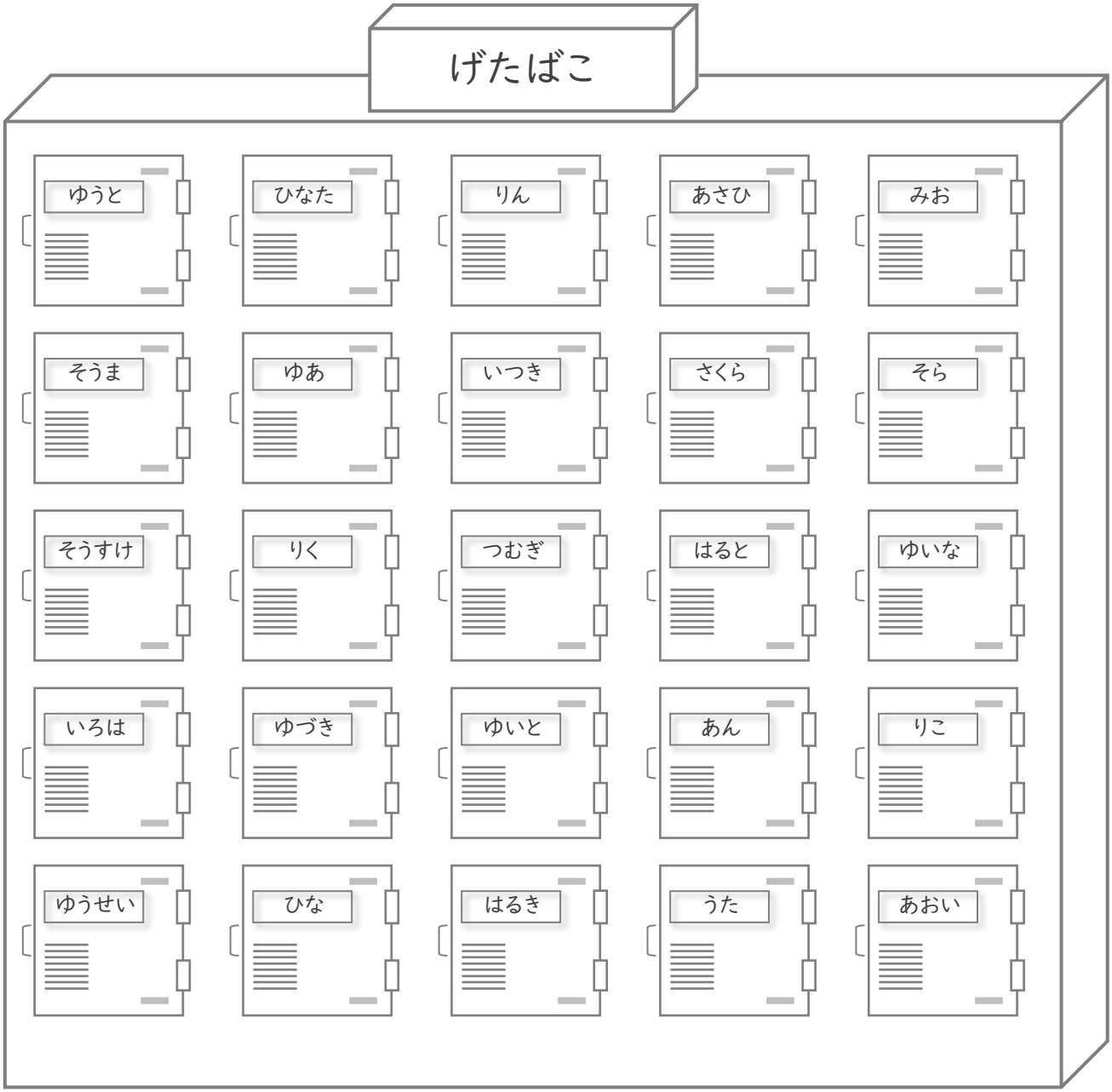

① うえから 5ばんめ、ひだりから 1ばんめは だれの げたばこ ですか。　　さん

② うえから 2ばんめ、ひだりから 2ばんめは だれの げたばこ ですか。　　さん

③ うえから 5ばんめ、ひだりから 3ばんめは だれの げたばこ ですか。　　さん

ものの いち

ねん　　くみ

なまえ

/ 3

■ ただしい かたちの したに まる(○)を つけましょう。



① から うえに 1つ すすんだ ところに ある かたち

( )　( )　( )　( )　( )

② から うえに 1つ、みぎに 2つ すすんだ ところに ある かたち

( )　( )　( )　( )　( )

③ から したに 2つ すすんだ ところに ある かたち



( )　( )　( )　( )　( )

ものの いち

ねん　　くみ

なまえ

/ 3

■ ただしい かたちの したに まる(○)を つけましょう。



① から うえに 2つ すすんだ ところに ある かたち



( ) ( ) ( ) ( ) ( )

② から したに 1つ、ひだりに 4つ すすんだ ところに ある かたち

( ) ( ) ( ) ( ) ( )

③ から うえに 2つ、みぎに 2つ すすんだ ところに ある かたち

( ) ( ) ( ) ( ) ( )

ものの いち

ねん　　くみ

なまえ

/ 3

■ ただしい かたちの したに まる(○)を つけましょう。



① から うえに 1つ、ひだりに 1つ すすんだ ところに ある かたち



( ) ( ) ( ) ( ) ( )

② から うえに 2つ、ひだりに 1つ すすんだ ところに ある かたち



( ) ( ) ( ) ( ) ( )

③ から うえに 2つ、みぎに 2つ すすんだ ところに ある かたち

( ) ( ) ( ) ( ) ( )

いくつといくつ

ねん　　くみ

なまえ

/14

■ □ に はいる かずを かきましょう。

① 9 は 2 と 7

② 8 は 6 と 2

③ 4 は 2 と 2

④ 10 は 9 と 1

⑤ 10 は 2 と 8

⑥ 10 は 6 と 4

⑦ 8 は 1 と 7

⑧ 7 は 4 と 3

⑨ 4 は 3 と 1

⑩ 5 は 3 と 2

⑪ 8 は 2 と 6

⑫ 8 は 5 と 3

⑬ 6 は 3 と 3

⑭ 9 は 7 と 2

いくつといくつ

ねん　　くみ

なまえ

/14

■ □ に はいる かずを かきましょう。

① 10 は 5 と 5

② 10 は 3 と 7

③ 10 は 4 と 6

④ 9 は 4 と 5

⑤ 6 は 4 と 2

⑥ 6 は 2 と 4

⑦ 4 は 1 と 3

⑧ 7 は 5 と 2

⑨ 6 は 1 と 5

⑩ 5 は 2 と 3

⑪ 9 は 5 と 4

⑫ 10 は 7 と 3

⑬ 5 は 4 と 1

⑭ 6 は 5 と 1

ふやしてみよう

ねん　　くみ

なまえ

/ 6

■ まる (○) が 3つ あります。

① まる (○) を 2つ ふやしましょう。

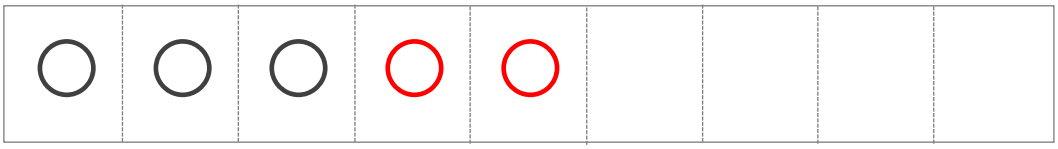

② まる (○) は ぜんぶで なんこ に なりましたか。

5 こ

■ さんかく (△) が 5つ あります。

③ さんかく (△) を 4つ ふやしましょう。

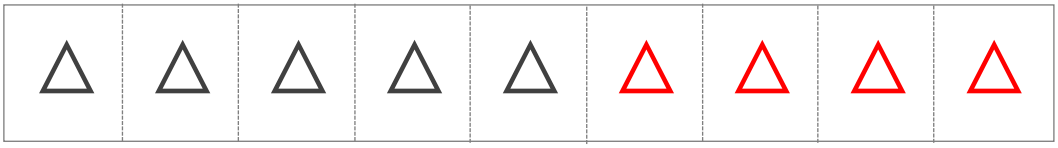

④ さんかく (△) は ぜんぶで なんこ に なりましたか。

9 こ

■ しかく (□) が 5つ あります。

⑤ しかく (□) を 2つ ふやしましょう。

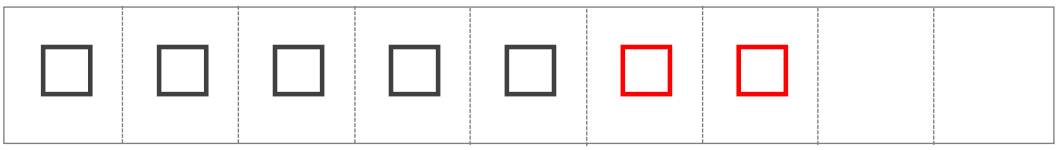

⑥ しかく (□) は ぜんぶで なんこ に なりましたか。

7 こ

ふやしてみよう

ねん　　くみ

なまえ

/ 6

■ まる (○) が 3つ あります。

① まる (○) を 2つ ふやしましょう。

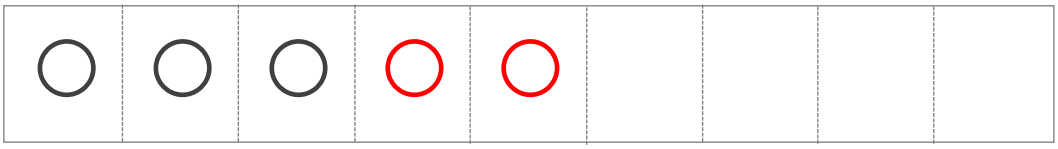

② まる (○) は ぜんぶで なんこ に なりましたか。

5 こ

■ さんかく (△) が 2つ あります。

③ さんかく (△) を 2つ ふやしましょう。

④ さんかく (△) は ぜんぶで なんこ に なりましたか。

4 こ

■ しかく (□) が 2つ あります。

⑤ しかく (□) を 5つ ふやしましょう。

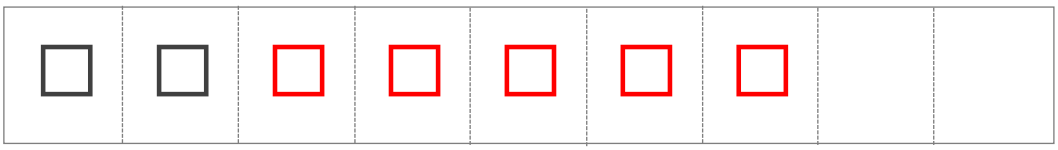

⑥ しかく (□) は ぜんぶで なんこ に なりましたか。

7 こ

たしざんのしくみ

ねん　　くみ

なまえ

/14

■ つぎの □ に あてはまる かずを こたえましょう。

① 5 ＋ 3 ＝ 8

② 3 ＋ 3 ＝ 6

③ 1 ＋ 1 ＝ 2

④ 5 ＋ 4 ＝ 9

⑤ 1 ＋ 2 ＝ 3

⑥ 4 ＋ 2 ＝ 6

⑦ 9 ＋ 1 ＝ 10

⑧ 1 ＋ 3 ＝ 4

⑨ 5 ＋ 5 ＝ 10

⑩ 5 ＋ 1 ＝ 6

⑪ 6 ＋ 3 ＝ 9

⑫ 8 ＋ 2 ＝ 10

⑬ 1 ＋ 8 ＝ 9

⑭ 4 ＋ 4 ＝ 8

たしざんのしくみ

ねん　　くみ

なまえ

/14

■ つぎの □ に あてはまる かずを こたえましょう。

① 5 ＋ 4 ＝ 9

② 1 ＋ 5 ＝ 6

③ 1 ＋ 7 ＝ 8

④ 3 ＋ 1 ＝ 4

⑤ 1 ＋ 6 ＝ 7

⑥ 4 ＋ 2 ＝ 6

⑦ 5 ＋ 5 ＝ 10

⑧ 3 ＋ 7 ＝ 10

⑨ 8 ＋ 2 ＝ 10

⑩ 5 ＋ 3 ＝ 8

⑪ 4 ＋ 1 ＝ 5

⑫ 2 ＋ 2 ＝ 4

⑬ 6 ＋ 2 ＝ 8

⑭ 4 ＋ 3 ＝ 7

かぞえよう

ねん　　くみ

なまえ

/ 3

まる(●) の かず を かぞえましょう。

①



13 こ

②



14 こ

③



18 こ

かぞえよう

ねん　　くみ

なまえ

/ 3

まる(●) の かず を かぞえましょう。

①

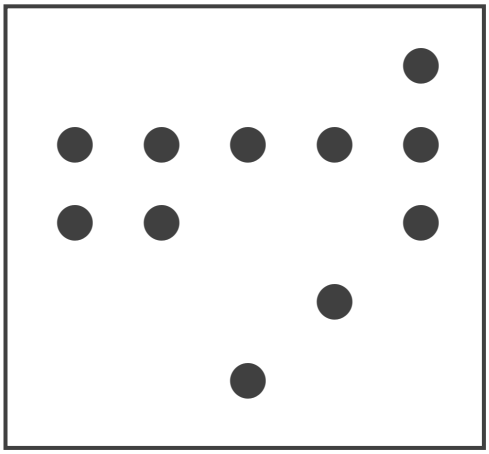

11 こ

②



14 こ

③



19 こ

なんじ なんじはん

ねん　　くみ

なまえ

/ 8

■ とけいを よみましょう。

①

11じ

②



9じ はん

③



10じ

④



4じ はん

⑤



1じ はん

⑥



5じ

⑦



3じ はん

⑧



6じ

なんじ なんじはん

ねん　　くみ

なまえ

/ 8

■ とけいを よみましょう。

①



5じ はん

②



2じ はん

③



11じ はん

④



10じ

⑤



3じ

⑥



7じ はん

⑦



9じ

⑧



6じ

3つのかずのけいさん(1)

ねん　　くみ

なまえ

/10

■ つぎのけいさんをしましょう。

① 9 − 5 − 2 ＝ 2

② 10 − 3 − 1 ＝ 6

③ 8 − 1 − 4 ＝ 3

④ 16 − 6 − 2 ＝ 8

⑤ 8 − 3 − 3 ＝ 2

⑥ 4 − 2 − 1 ＝ 1

⑦ 10 − 8 − 1 ＝ 1

⑧ 12 − 2 − 1 ＝ 9

⑨ 9 − 2 − 2 ＝ 5

⑩ 19 − 9 − 5 ＝ 5

3つのかずのけいさん(1)

ねん　　くみ

なまえ

/10

■ つぎのけいさんをしましょう。

① 15 − 5 − 4 ＝ 6

② 4 − 2 − 1 ＝ 1

③ 5 − 3 − 1 ＝ 1

④ 10 − 4 − 5 ＝ 1

⑤ 16 − 6 − 7 ＝ 3

⑥ 6 − 1 − 3 ＝ 2

⑦ 4 − 1 − 2 ＝ 1

⑧ 19 − 9 − 2 ＝ 8

⑨ 7 − 2 − 2 ＝ 3

⑩ 9 − 7 − 1 ＝ 1

どれが おおい

ねん　　くみ

なまえ

/ 4

■ みずが いちばんおおい コップ(こっぷ)に まる(○)を つけましょう。

①

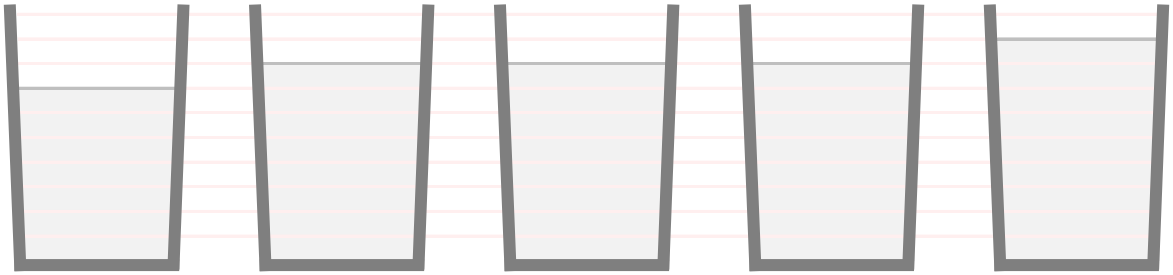

(　　)　(　　)　(　　)　(　　)　(　○　)

②



(　　)　(　　)　(　　)　(　　)　(　○　)

③

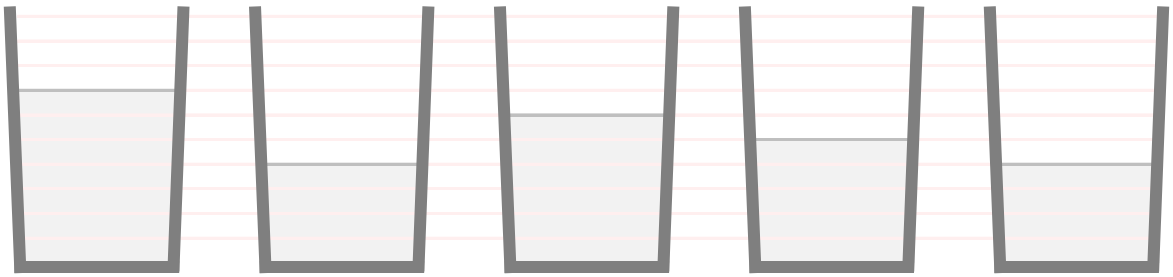

(　○　)　(　　)　(　　)　(　　)　(　　)

④

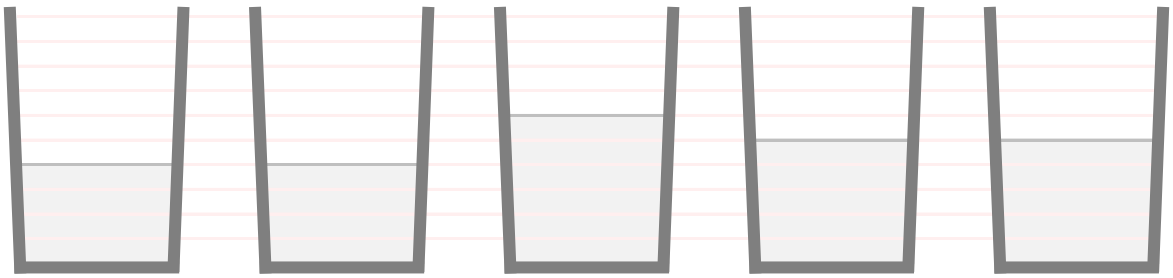

(　　)　(　　)　(　○　)　(　　)　(　　)

どれが おおい

ねん　　くみ

なまえ

/ 4

■ みずが いちばんおおい コップ(こっぷ)に まる(○)を つけましょう。

①

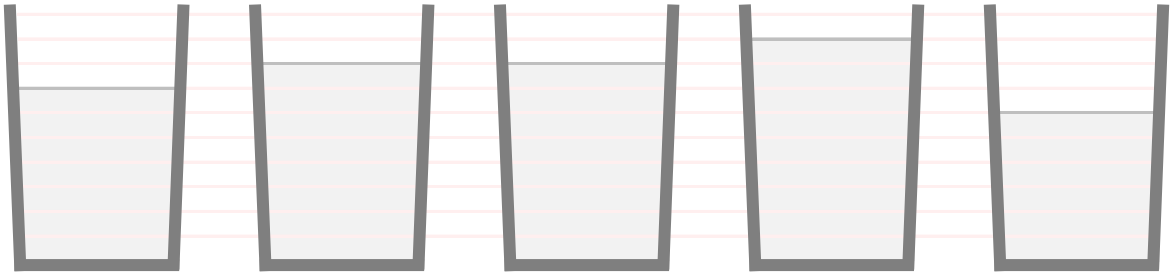

(　　)　(　　)　(　　)　(　○　)　(　　)

②

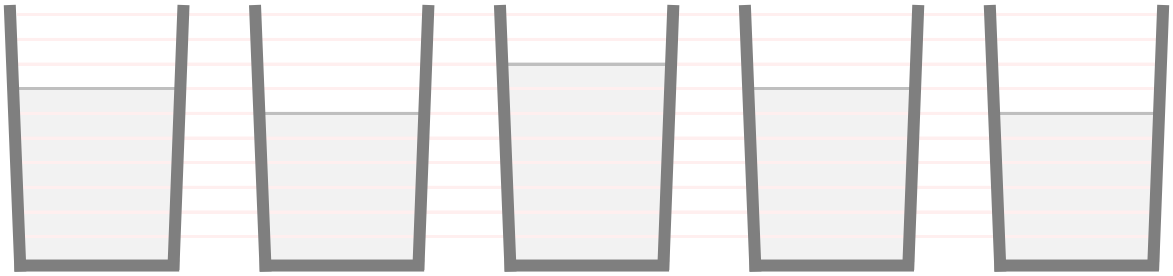

(　　)　(　　)　(　○　)　(　　)　(　　)

③

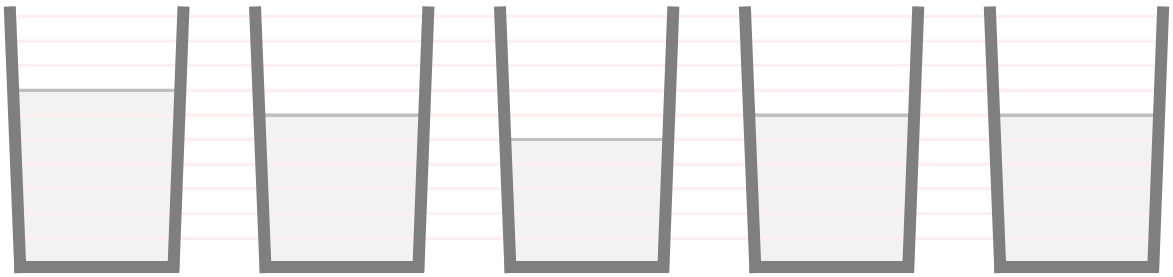

(　○　)　(　　)　(　　)　(　　)　(　　)

④



(　○　)　(　　)　(　　)　(　　)　(　　)

たしざんを つかって

ねん　　くみ

なまえ

/ 6

■ たしざんをつかって あんごうを ときましょう。

①

8＋7	9＋10	8＋3	9＋7
も	の	さ	し

8＋4	8＋9	9＋9	10＋10
か	い	だ	ん

11．さ	12．か	13．ど	14．そ	15．も
16．し	17．い	18．だ	19．の	20．ん

②

9＋10	8＋5	7＋8	2＋9
た	い	よ	う

7＋9	9＋8	10＋8	9＋5
こ	う	え	ん

11．う	12．か	13．い	14．ん	15．よ
16．こ	17．う	18．え	19．た	20．え

③

9＋3	9＋5	7＋8	10＋10
は	ぶ	ら	し

3＋8	8＋10	4＋9	10＋9
さ	い	こ	ろ

11．さ	12．は	13．こ	14．ぶ	15．ら
16．え	17．け	18．い	19．ろ	20．し

たしざんを つかって

ねん　　くみ

なまえ

/ 6

■ たしざんをつかって あんごうを ときましょう。

①

8＋7	8＋10	8＋5	9＋5
か	い	が	ん

8＋9	10＋10	9＋7	8＋3
お	き	な	わ

11．わ　12．や　13．が　14．ん　15．か
16．な　17．お　18．い　19．あ　20．き

②

9＋8	9＋7	4＋8	10＋10
う	ぐ	い	す

8＋6	9＋6	8＋10	8＋3
ら	く	が	き

11．き　12．い　13．ふ　14．ら　15．く
16．ぐ　17．う　18．が　19．こ　20．す

③

10＋10	4＋8	5＋8	9＋10
し	ま	う	ま

7＋9	8＋9	9＋5	9＋9
え	ん	ぴ	つ

11．さ　12．ま　13．う　14．ぴ　15．も
16．え　17．ん　18．つ　19．ま　20．し

たしざんを つかって

ねん　　くみ

なまえ

/ 6

■ たしざんをつかって あんごうを ときましょう。

①

9＋5	5＋8	10＋10	9＋8
あ	め	り	か

9＋10	8＋10	2＋9	6＋9
こ	う	さ	く

11．さ　12．ら　13．め　14．あ　15．く
16．む　17．か　18．う　19．こ　20．り

②

6＋9	6＋8	8＋9	8＋5
あ	い	さ	つ

4＋7	7＋9	10＋10	10＋9
か	い	が	ん

11．か　12．た　13．つ　14．い　15．あ
16．い　17．さ　18．と　19．ん　20．が

③

10＋9	9＋9	10＋10	8＋6
な	か	に	わ

7＋8	9＋8	8＋8	6＋7
は	ぶ	ら	し

11．は　12．そ　13．し　14．わ　15．は
16．ら　17．ぶ　18．か　19．な　20．に

かたちづくり

ねん　　くみ

なまえ

/ 4

■ てんを せんで つないで おてほんの かたちを つくりましょう。

①

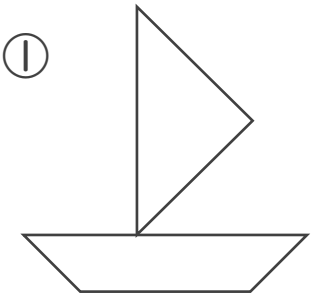

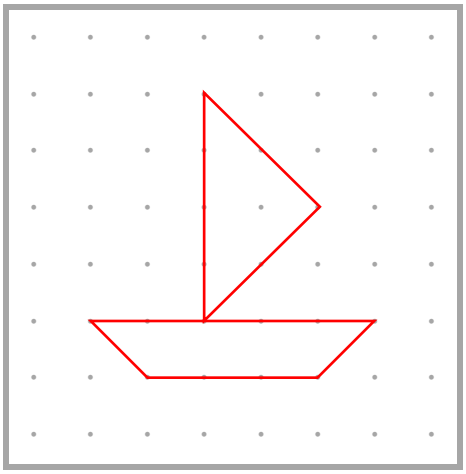

②

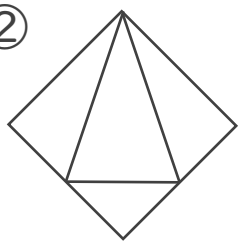

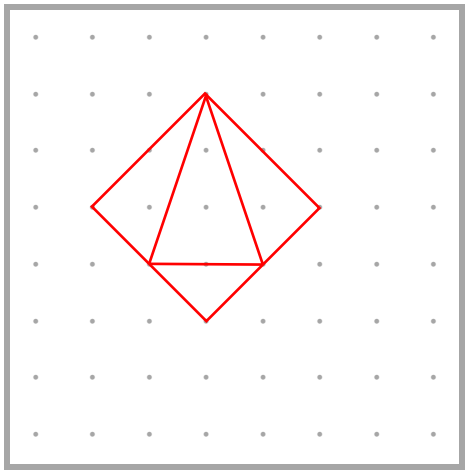

③

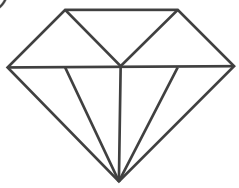

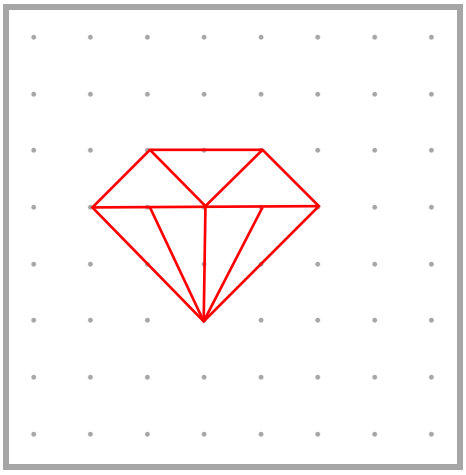

④

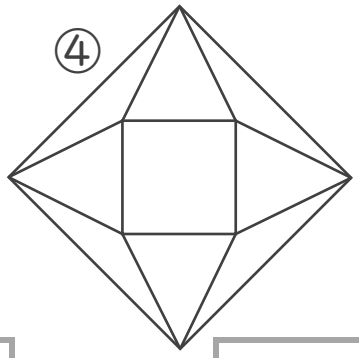

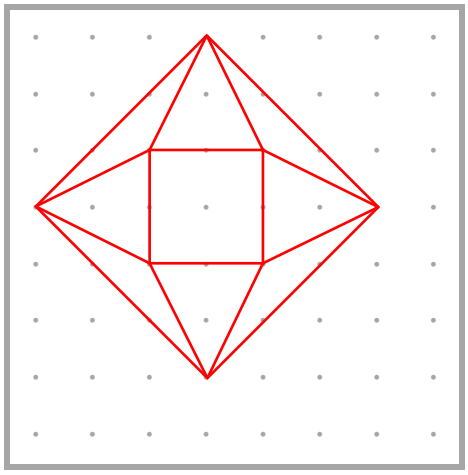

ひきざん(2)

ねん　　くみ

なまえ

/ 7

① いろがみが 12 まい あります。

3 まい つかうと、のこりは なんまい ですか。

(しき) 12 − 3 = 9

9まい

② くりが 12こ あります。

8こ たべると、のこりは なんこ ですか。

(しき) 12 − 8 = 4

4こ

③ とまとを 14こ もっています。

ともだちに 1こ あげると、なんこ のこりますか。

(しき) 14 − 1 = 13

13こ

④ バスに 13にんの ひとが のっています。

9にん おりると、のこりは なんにん ですか。

(しき) 13 − 9 = 4

4にん

⑤ 16わの とりが きに とまっています。

7わが とんでいくと、のこりは なんわ ですか。

(しき) 16 − 7 = 9

9わ

⑥ 14とうの きりんが います。

めすは 9 とうです。おすは なんとう ですか。

(しき) 14 − 9 = 5

5とう

⑦ 11ページの えほんが あります。

6ページ よむと、のこりは なんページ ですか。

(しき) 11 − 6 = 5

5ページ

ひきざん(2)

ねん　　くみ

なまえ

/ 7

① 13とうの こあらが います。

めすは 8 とうです。おすは なんとう ですか。

(しき) 13 − 8 = 5

5とう

② あんぱんを 17こ もっています。

ともだちに 6こ あげると、なんこ のこりますか。

(しき) 17 − 6 = 11

11こ

③ 11ぺえじの えほんが あります。

5ぺえじ よむと、のこりは なんぺえじ ですか。

(しき) 11 − 5 = 6

6ぺえじ

④ ふうせんが 14 こ あります。

9こ われると、のこりは なんこ ですか。

(しき) 14 − 9 = 5

5こ

⑤ バスに 12にんの ひとが のっています。

3にん おりると、のこりは なんにん ですか。

(しき) 12 − 3 = 9

9にん

⑥ 17わの とりが きに とまっています。

8わが とんでいくと、のこりは なんわ ですか。

(しき) 17 − 8 = 9

9わ

⑦ 12まいの かあどが あります。

9まいが おもてを むいています。なんまいが うらむき ですか。

(しき) 12 − 9 = 3

3まい

「＋」や「－」をあてはめて

ねん　　くみ

なまえ

/ 8

■ □ に あてはまる「＋」や「－」を こたえましょう。

		「＋」か「－」をこたえる		「＋」か「－」をこたえる			
①	8	－	4	－	3	＝	1
②	7	＋	1	－	3	＝	5
③	6	＋	2	－	6	＝	2
④	8	＋	1	＋	1	＝	10
⑤	6	－	2	＋	1	＝	5
⑥	6	－	3	＋	9	＝	12
⑦	5	－	2	－	1	＝	2
⑧	4	＋	5	＋	4	＝	13

「＋」や「－」をあてはめて

ねん　　くみ

なまえ

/ 8

■ □ に あてはまる「＋」や「－」を こたえましょう。

		「＋」か「－」をこたえる		「＋」か「－」をこたえる			
①	9	＋	5	－	6	＝	8
②	1	＋	3	＋	6	＝	10
③	5	－	1	＋	3	＝	7
④	4	－	1	＋	8	＝	11
⑤	5	－	2	－	1	＝	2
⑥	4	＋	6	＋	7	＝	17
⑦	9	－	2	－	2	＝	5
⑧	9	＋	2	－	1	＝	10

うえから ひだりから

ねん　　くみ

なまえ

/ 3

■ 25にんが つかう げたばこが あります。

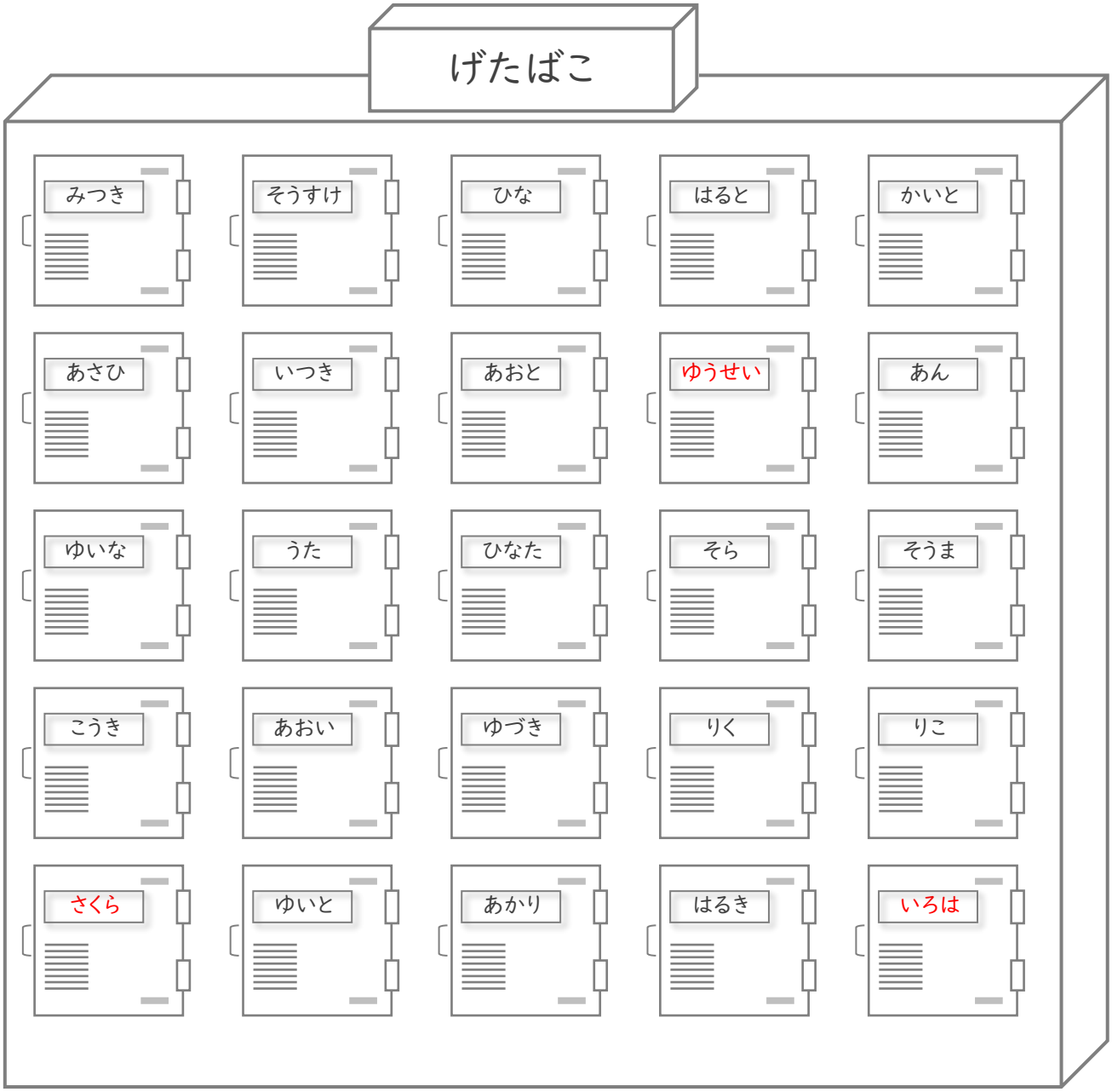

① うえから 2ばんめ、ひだりから 4ばんめは だれの げたばこ ですか。　ゆうせい　さん

② うえから 5ばんめ、ひだりから 5ばんめは だれの げたばこ ですか。　いろは　さん

③ うえから 5ばんめ、ひだりから 1ばんめは だれの げたばこ ですか。　さくら　さん

うえから ひだりから

ねん　　くみ

なまえ

/ 3

■ 25にんが つかう げたばこが あります。

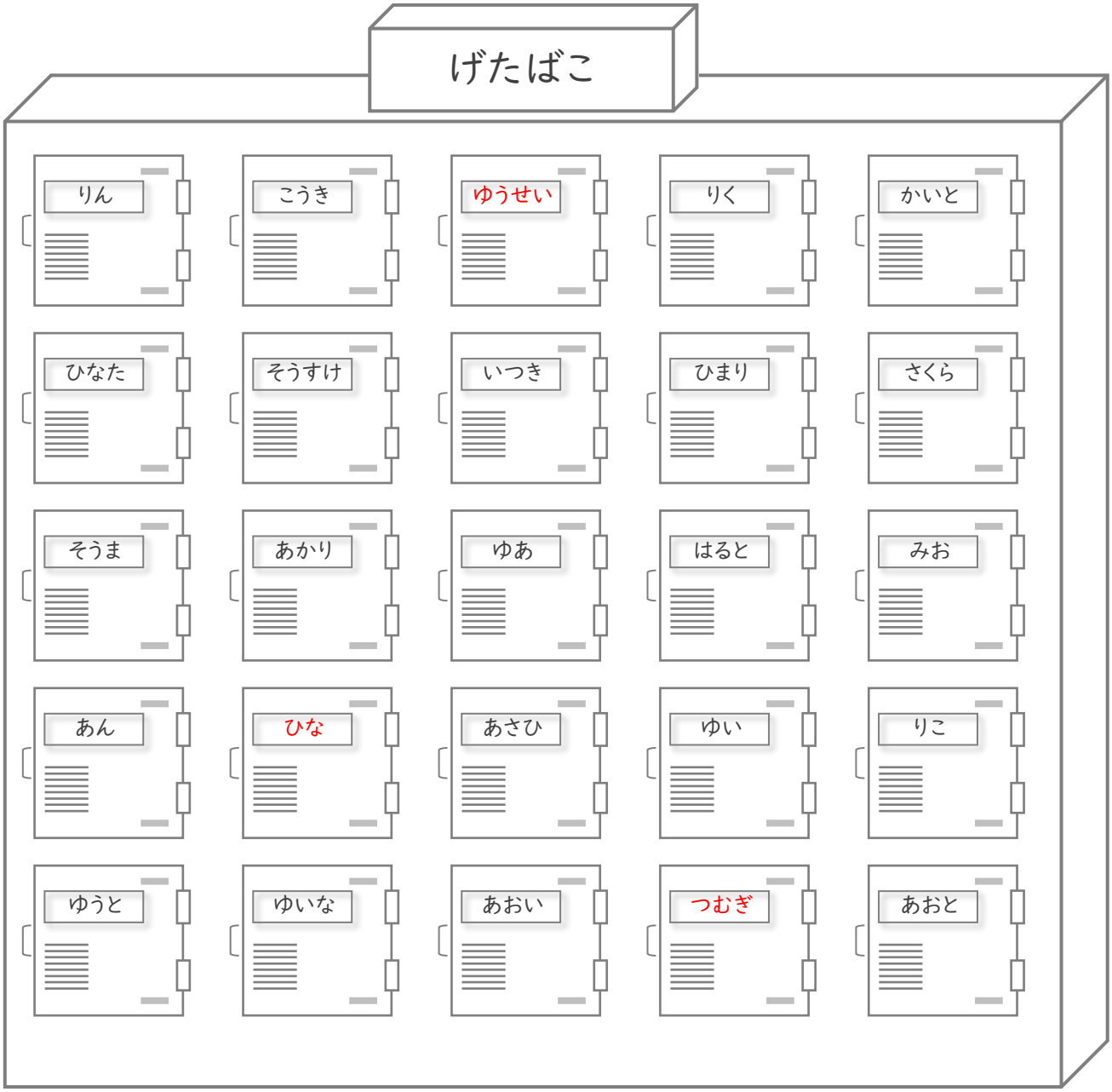

① うえから 4ばんめ、ひだりから 2ばんめは だれの げたばこ ですか。　ひな　さん

② うえから 5ばんめ、ひだりから 4ばんめは だれの げたばこ ですか。　つむぎ　さん

③ うえから 1ばんめ、ひだりから 3ばんめは だれの げたばこ ですか。　ゆうせい　さん

うえから ひだりから

ねん　　くみ

なまえ

/ 3

■ 25にんが つかう げたばこが あります。

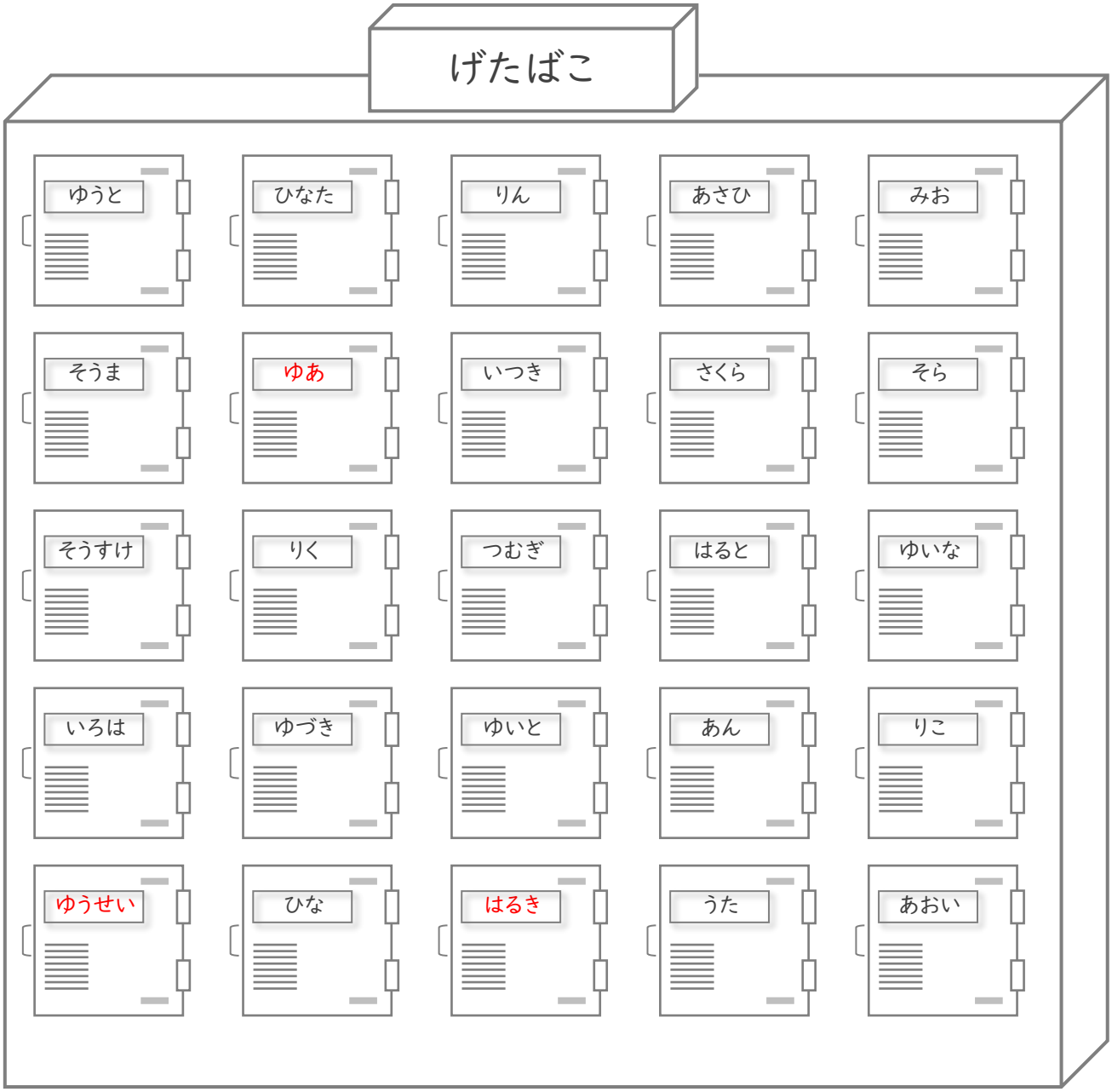

① うえから 5ばんめ、ひだりから 1ばんめは だれの げたばこ ですか。　ゆうせい　さん

② うえから 2ばんめ、ひだりから 2ばんめは だれの げたばこ ですか。　ゆあ　さん

③ うえから 5ばんめ、ひだりから 3ばんめは だれの げたばこ ですか。　はるき　さん

ものの いち

ねん　　くみ

なまえ

/ 3

■ ただしい かたちの したに まる(○)を つけましょう。



① から うえに 1つ すすんだ ところに ある かたち

( ) ( ) ( ) (○) ( )

② から うえに 1つ、みぎに 2つ すすんだ ところに ある かたち

( ) ( ) ( ) ( ) (○)

③ から したに 2つ すすんだ ところに ある かたち



( ) ( ) ( ) (○) ( )

ものの いち

ねん　　くみ

なまえ

/ 3

■ ただしい かたちの したに まる(○)を つけましょう。



① から うえに 2つ すすんだ ところに ある かたち



(○)　(　)　(　)　(　)　(　)

② から したに 1つ、ひだりに 4つ すすんだ ところに ある かたち

(　)　(○)　(　)　(　)　(　)

③ から うえに 2つ、みぎに 2つ すすんだ ところに ある かたち

(○)　(　)　(　)　(　)　(　)

ものの いち

ねん　　くみ

なまえ

/ 3

■ ただしい かたちの したに まる(○)を つけましょう。



① から うえに 1つ、ひだりに 1つ すすんだ ところに ある かたち



( ) ( ) ( ) (○) ( )

② から うえに 2つ、ひだりに 1つ すすんだ ところに ある かたち



( ) (○) ( ) ( ) ( )

③ から うえに 2つ、みぎに 2つ すすんだ ところに ある かたち

( ) ( ) (○) ( ) ( )