教材おきば の

これだけ、安心

算数ドリル

2－03

Light

小学２年生

もくじ

①	大きい かずの かきかた お金をかぞえる	１ページ
②	なんじ なんぷん	１ページ
③	間の時間	１ページ
④	長さのたし算 センチメートルとミリメートル	１ページ
⑤	(２けた)－(２けた)のひっ算	１ページ
⑥	10 がいくつ	１ページ
⑦	百をこえる数 かん字を数字に	１ページ
⑧	かさの大小	１ページ
⑨	(２けた)＋(２けた)のひっ算	１ページ
⑩	まとめて たす	１ページ
⑪	＞，＜，＝を つかったしき	１ページ
⑫	かけ算の練習 1～5 のだん	２ページ
⑬	かけ算の文章問題 2～5 のだん	１ページ
	合計	１４ページ

© 2022 kyozai-okiba.com

かずの かきかた

ねん　　くみ

なまえ

/ 4

■ なん円(えん) ありますか。

① 

円

② 

円

③ 

円

④ 

円

なんじなんぷん

ねん　　くみ

なまえ

/ 8

■ とけいを よみましょう。

①



じ

ぷん

②



じ

ぷん

③



じ

ぷん

④

じ

ぷん

⑤

じ

ぷん

⑥

じ

ぷん

⑦



じ

ふん

⑧



じ

ふん

間の時間

年　組　名前

/18

■ つぎの時間をこたえましょう。

① 3時35分 と 3時45分 の間の時間

分

② 1時30分 と 1時50分 の間の時間

分

③ 10時25分と10時30分の間の時間

分

④ 8時15分 と 8時20分 の間の時間

分

⑤ 10時30分と10時45分の間の時間

分

⑥ 5時35分 と 5時40分 の間の時間

分

⑦ 4時20分 と 4時45分 の間の時間

分

⑧ 2時15分 と 2時25分 の間の時間

分

⑨ 9時10分 と 9時40分 の間の時間

分

⑩ 1時10分 と 1時45分 の間の時間

分

⑪ 6時5分 と 6時35分 の間の時間

分

⑫ 2時40分 と 2時55分 の間の時間

分

⑬ 11時25分と11時35分の間の時間

分

⑭ 7時20分 と 7時40分 の間の時間

分

⑮ 7時45分 と 7時55分 の間の時間

分

⑯ 11時45分と11時50分の間の時間

分

⑰ 8時40分 と 8時50分 の間の時間

分

⑱ 12時5分 と12時10分の間の時間

分

長さのたし算

年　組　名前

/10

■ 次の長さのたし算をしましょう。

① 2cm 2mm ＋ 3cm 3mm ＝

② 4cm 8mm ＋ 2cm 6mm ＝

③ 2cm 1mm ＋ 6cm 2mm ＝

④ 8cm 3mm ＋ 7mm ＝

⑤ 1cm 9mm ＋ 3cm 1mm ＝

⑥ 4cm 6mm ＋ 3cm 8mm ＝

⑦ 6mm ＋ 3cm 6mm ＝

⑧ 7mm ＋ 4cm 7mm ＝

⑨ 2cm 7mm ＋ 2cm 3mm ＝

⑩ 2cm 5mm ＋ 5cm 9mm ＝

ひき算のひっ算

ねん　　くみ

名まえ

/12

■ つぎのひき算をしましょう。

①		6	8
	−	1	8

②		9	0
	−	8	6

③		8	2
	−	6	7

④		2	3
	−	1	6

⑤		9	2
	−	7	5

⑥		9	4
	−	4	5

⑦		7	3
	−	6	8

⑧		4	9
	−	1	3

⑨		6	3
	−	1	5

⑩		8	2
	−	3	9

⑪		5	7
	−	1	7

⑫		8	6
	−	4	7

10がいくつ

年　組　名前

/24

■ 10を つぎの 数だけ あつめた 数は いくつですか。

① 93 こ

② 58 こ

③ 20 こ

④ 37 こ

⑤ 17 こ

⑥ 89 こ

⑦ 23 こ

⑧ 30 こ

⑨ 74 こ

⑩ 70 こ

⑪ 64 こ

⑫ 43 こ

■ つぎの数は 10を 何こ あつめた 数ですか。

⑬ 290　こ

⑭ 100　こ

⑮ 420　こ

⑯ 690　こ

⑰ 550　こ

⑱ 760　こ

⑲ 140　こ

⑳ 600　こ

㉑ 500　こ

㉒ 820　こ

㉓ 340　こ

㉔ 940　こ

百をこえる数

ねん　　くみ

なまえ

/27

■ 次のかん字でかかれた数を数字でかきましょう。

① 九百九

② 三百四十

③ 八百一

④ 二百八十七

⑤ 三百十八

⑥ 七百四十

⑦ 四百六十三

⑧ 四百十六

⑨ 四百七十一

⑩ 三百七十一

⑪ 百七十九

⑫ 百五十三

⑬ 七百二

⑭ 五百七十

⑮ 二百五十二

⑯ 九百二十

⑰ 九百六

⑱ 八百五十九

⑲ 五百四

⑳ 六百十二

㉑ 二百十二

㉒ 六百六十九

㉓ 八百七十三

㉔ 五百三十五

㉕ 七百九十七

㉖ 六百八十

㉗ 百二十五

かさ の 大小

年　組　名前

/30

■ 次の2つの かさ の大小を等号(=)や不等号(>, <)を使って表しましょう。

(1)	80dL		5L
(2)	4000mL		2L
(3)	1L 100mL		8L 7dL
(4)	2mL		2L
(5)	1L 900mL		3L 9dL
(6)	20dL		3000mL
(7)	9000mL		60dL
(8)	6L		30dL
(9)	4000mL		8dL
(10)	30dL		3L
(11)	7000mL		80dL
(12)	7L		3000mL
(13)	9L		6dL
(14)	490mL		3dL 20mL
(15)	340mL		6dL 10mL
(16)	7dL		700mL
(17)	4dL		2L
(18)	1L 2dL		1L 500 mL
(19)	30mL		3dL
(20)	2L		10dL
(21)	800mL		8dL
(22)	6000mL		6L
(23)	8dL 50mL		560mL
(24)	5L		9000mL
(25)	4000mL		50dL
(26)	10mL		1dL
(27)	6L		6dL
(28)	600mL		2dL
(29)	90dL		9L
(30)	5dL		5L

たし算のひっ算

ねん　　くみ

名まえ

/12

■ つぎのたし算をしましょう。

①		4	4
	＋	1	2

②		5	6
	＋	5	4

③		5	9
	＋	4	1

④		3	4
	＋	4	4

⑤		5	6
	＋	2	6

⑥		9	6
	＋	1	1

⑦		9	8
	＋	3	4

⑧		1	4
	＋	8	1

⑨		8	5
	＋	5	3

⑩		8	6
	＋	6	3

⑪		1	9
	＋	2	5

⑫		9	8
	＋	4	2

まとめて たす

年　組　名前

/14

■ ほしじるし(☆)のやり方にならって、まとめてたしましょう。

☆	41 + 7 + 13 =	41 + (7 + 13)	=	41 + 20	=	61
①	14 + 1 + 9 =		=		=	
②	55 + 4 + 26 =		=		=	
③	31 + 3 + 27 =		=		=	
④	36 + 23 + 7 =		=		=	
⑤	26 + 21 + 9 =		=		=	
⑥	37 + 2 + 8 =		=		=	
⑦	13 + 5 + 5 =		=		=	
⑧	67 + 14 + 6 =		=		=	
⑨	43 + 19 + 1 =		=		=	
⑩	66 + 1 + 29 =		=		=	
⑪	13 + 5 + 15 =		=		=	
⑫	53 + 11 + 9 =		=		=	
⑬	51 + 12 + 8 =		=		=	
⑭	24 + 1 + 9 =		=		=	

>, <, =を つかった しき

年　組　名前

/ 24

■ つぎの □ に >, <, = を うめましょう。

①	170 − 80	□	80
②	60 + 80	□	140
③	150 − 90	□	60
④	50 − 30	□	10
⑤	60 + 20	□	80
⑥	160 − 70	□	100
⑦	50 + 30	□	70
⑧	100 − 20	□	70
⑨	90 − 50	□	50
⑩	120 − 50	□	70
⑪	30 + 90	□	110
⑫	90 − 20	□	70
⑬	30 + 60	□	100
⑭	90 + 50	□	130
⑮	130 − 40	□	100
⑯	60 + 70	□	140
⑰	90 + 20	□	110
⑱	50 + 80	□	140
⑲	100 − 60	□	30
⑳	70 + 30	□	100
㉑	40 + 30	□	60
㉒	40 + 80	□	130
㉓	110 − 40	□	70
㉔	150 − 80	□	80

かけ算

年　組　名前

/26

■ つぎのかけ算をしましょう。

① 2 × 5 = □

② 5 × 7 = □

③ 4 × 4 = □

④ 2 × 9 = □

⑤ 3 × 5 = □

⑥ 5 × 9 = □

⑦ 2 × 8 = □

⑧ 2 × 4 = □

⑨ 3 × 1 = □

⑩ 4 × 5 = □

⑪ 4 × 3 = □

⑫ 3 × 6 = □

⑬ 4 × 9 = □

⑭ 5 × 6 = □

⑮ 1 × 3 = □

⑯ 2 × 6 = □

⑰ 4 × 6 = □

⑱ 4 × 2 = □

⑲ 5 × 1 = □

⑳ 3 × 4 = □

㉑ 5 × 8 = □

㉒ 1 × 5 = □

㉓ 2 × 7 = □

㉔ 1 × 8 = □

㉕ 3 × 8 = □

㉖ 3 × 7 = □

かけ算

年　組　名前

/26

■ つぎのかけ算をしましょう。

① 2 × 2 = □

② 3 × 2 = □

③ 1 × 6 = □

④ 2 × 3 = □

⑤ 3 × 3 = □

⑥ 5 × 3 = □

⑦ 1 × 3 = □

⑧ 2 × 4 = □

⑨ 4 × 7 = □

⑩ 1 × 9 = □

⑪ 3 × 4 = □

⑫ 5 × 2 = □

⑬ 4 × 5 = □

⑭ 5 × 6 = □

⑮ 5 × 7 = □

⑯ 2 × 5 = □

⑰ 4 × 9 = □

⑱ 5 × 8 = □

⑲ 3 × 1 = □

⑳ 3 × 6 = □

㉑ 5 × 9 = □

㉒ 4 × 6 = □

㉓ 2 × 1 = □

㉔ 4 × 3 = □

㉕ 2 × 9 = □

㉖ 4 × 1 = □

かけ算をつかって

年　　組　名前

/ 7

■ かけ算の式をたてて こたえましょう。

① 1人分のパンケーキをつくるのに、たまごを 4こ つかいます。
5人分 のパンケーキをつくるには、たまごは何こいりますか。
（式）

② あつさ 3mm の本を たてにつみます。
6さつ つむと、高さはぜんぶで何mmになりますか。
（式）

③ 車のおもちゃを走らせるのに、でんちを 4こ つかいます。
2だい の車のおもちゃを走らせるには、でんちは何こいりますか。
（式）

④ まいにち 5さつ のえほんをよみます。
3日 で何さつの本をよむことができますか。
（式）

⑤ りんごが 2こ 入ったはこが 7こ あります。
りんごはぜんぶで何こありますか。
（式）

⑥ ガムを 2こ ずつ 9人に くばります。
ガムはぜんぶで何こいりますか。
（式）

⑦ 5人のグループを 8くみ つくりました。
みんなで何人いますか。
（式）

かずの かきかた

ねん　　くみ

なまえ

/ 4

■ なん円（えん） ありますか。

① 

17　円

② 

55　円

③ 

76　円

④ 

83　円

なんじなんぷん

ねん　　くみ

なまえ

/ 8

■ とけいを よみましょう。

①



4 じ

34 ぷん

②



9 じ

26 ぷん

③



7 じ

44 ぷん

④

10 じ

53 ぷん

⑤

11 じ

11 ぷん

⑥

1 じ

51 ぷん

⑦



6 じ

7 ふん

⑧



2 じ

22 ふん

間の時間

年　組　名前

/18

■ つぎの時間をこたえましょう。

① 3時35分 と 3時45分 の間の時間

10 分

② 1時30分 と 1時50分 の間の時間

20 分

③ 10時25分と10時30分の間の時間

5 分

④ 8時15分 と 8時20分 の間の時間

5 分

⑤ 10時30分と10時45分の間の時間

15 分

⑥ 5時35分 と 5時40分 の間の時間

5 分

⑦ 4時20分 と 4時45分 の間の時間

25 分

⑧ 2時15分 と 2時25分 の間の時間

10 分

⑨ 9時10分 と 9時40分 の間の時間

30 分

⑩ 1時10分 と 1時45分 の間の時間

35 分

⑪ 6時5分 と 6時35分 の間の時間

30 分

⑫ 2時40分 と 2時55分 の間の時間

15 分

⑬ 11時25分と11時35分の間の時間

10 分

⑭ 7時20分 と 7時40分 の間の時間

20 分

⑮ 7時45分 と 7時55分 の間の時間

10 分

⑯ 11時45分と11時50分の間の時間

5 分

⑰ 8時40分 と 8時50分 の間の時間

10 分

⑱ 12時5分 と12時10分の間の時間

5 分

長さのたし算

年　組　名前

/10

■ 次の長さのたし算をしましょう。

①	2cm 2mm	＋	3cm 3mm	＝	5cm 5mm
②	4cm 8mm	＋	2cm 6mm	＝	7cm 4mm
③	2cm 1mm	＋	6cm 2mm	＝	8cm 3mm
④	8cm 3mm	＋	7mm	＝	9cm
⑤	1cm 9mm	＋	3cm 1mm	＝	5cm
⑥	4cm 6mm	＋	3cm 8mm	＝	8cm 4mm
⑦	6mm	＋	3cm 6mm	＝	4cm 2mm
⑧	7mm	＋	4cm 7mm	＝	5cm 4mm
⑨	2cm 7mm	＋	2cm 3mm	＝	5cm
⑩	2cm 5mm	＋	5cm 9mm	＝	8cm 4mm

ひき算のひっ算

ねん　　くみ

名まえ

/12

■ つぎのひき算をしましょう。

①		6	8
	−	1	8
		5	0

②		9	0
	−	8	6
			4

③		8	2
	−	6	7
		1	5

④		2	3
	−	1	6
			7

⑤		9	2
	−	7	5
		1	7

⑥		9	4
	−	4	5
		4	9

⑦		7	3
	−	6	8
			5

⑧		4	9
	−	1	3
		3	6

⑨		6	3
	−	1	5
		4	8

⑩		8	2
	−	3	9
		4	3

⑪		5	7
	−	1	7
		4	0

⑫		8	6
	−	4	7
		3	9

10がいくつ

年　組　名前

/24

■ 10を つぎの 数だけ あつめた 数は いくつですか。

① 93 こ	930	⑦ 23 こ	230
② 58 こ	580	⑧ 30 こ	300
③ 20 こ	200	⑨ 74 こ	740
④ 37 こ	370	⑩ 70 こ	700
⑤ 17 こ	170	⑪ 64 こ	640
⑥ 89 こ	890	⑫ 43 こ	430

■ つぎの数は 10を 何こ あつめた 数ですか。

⑬ 290	29 こ	⑲ 140	14 こ
⑭ 100	10 こ	⑳ 600	60 こ
⑮ 420	42 こ	㉑ 500	50 こ
⑯ 690	69 こ	㉒ 820	82 こ
⑰ 550	55 こ	㉓ 340	34 こ
⑱ 760	76 こ	㉔ 940	94 こ

百をこえる数

ねん　　くみ

なまえ

/27

■ 次のかん字でかかれた数を数字でかきましょう。

① 九百九
909

② 三百四十
340

③ 八百一
801

④ 二百八十七
287

⑤ 三百十八
318

⑥ 七百四十
740

⑦ 四百六十三
463

⑧ 四百十六
416

⑨ 四百七十一
471

⑩ 三百七十一
371

⑪ 百七十九
179

⑫ 百五十三
153

⑬ 七百二
702

⑭ 五百七十
570

⑮ 二百五十二
252

⑯ 九百二十
920

⑰ 九百六
906

⑱ 八百五十九
859

⑲ 五百四
504

⑳ 六百十二
612

㉑ 二百十二
212

㉒ 六百六十九
669

㉓ 八百七十三
873

㉔ 五百三十五
535

㉕ 七百九十七
797

㉖ 六百八十
680

㉗ 百二十五
125

かさ の 大小

年　組　名前

/30

■ 次の2つの かさ の大小を等号(=)や不等号(>, <)を使って表しましょう。

(1)	80dL	>	5L
(2)	4000mL	>	2L
(3)	1L 100mL	<	8L 7dL
(4)	2mL	<	2L
(5)	1L 900mL	<	3L 9dL
(6)	20dL	<	3000mL
(7)	9000mL	>	60dL
(8)	6L	>	30dL
(9)	4000mL	>	8dL
(10)	30dL	=	3L
(11)	7000mL	<	80dL
(12)	7L	>	3000mL
(13)	9L	>	6dL
(14)	490mL	>	3dL 20mL
(15)	340mL	<	6dL 10mL
(16)	7dL	=	700mL
(17)	4dL	<	2L
(18)	1L 2dL	<	1L 500 mL
(19)	30mL	<	3dL
(20)	2L	>	10dL
(21)	800mL	=	8dL
(22)	6000mL	=	6L
(23)	8dL 50mL	>	560mL
(24)	5L	<	9000mL
(25)	4000mL	<	50dL
(26)	10mL	<	1dL
(27)	6L	>	6dL
(28)	600mL	>	2dL
(29)	90dL	=	9L
(30)	5dL	<	5L

たし算のひっ算

ねん　　くみ

名まえ

/12

■ つぎのたし算をしましょう。

①		4	4
	＋	1	2
		5	6

②		5	6
	＋	5	4
	1	1	0

③		5	9
	＋	4	1
	1	0	0

④		3	4
	＋	4	4
		7	8

⑤		5	6
	＋	2	6
		8	2

⑥		9	6
	＋	1	1
	1	0	7

⑦		9	8
	＋	3	4
	1	3	2

⑧		1	4
	＋	8	1
		9	5

⑨		8	5
	＋	5	3
	1	3	8

⑩		8	6
	＋	6	3
	1	4	9

⑪		1	9
	＋	2	5
		4	4

⑫		9	8
	＋	4	2
	1	4	0

まとめて たす

年　組　名前

/14

■ ほしじるし(☆)のやり方にならって、まとめてたしましょう。

☆	41 + 7 + 13 =	41 + (7 + 13)	=	41 + 20	=	61
①	14 + 1 + 9 =	14 + (1 + 9)	=	14 + 10	=	24
②	55 + 4 + 26 =	55 + (4 + 26)	=	55 + 30	=	85
③	31 + 3 + 27 =	31 + (3 + 27)	=	31 + 30	=	61
④	36 + 23 + 7 =	36 + (23 + 7)	=	36 + 30	=	66
⑤	26 + 21 + 9 =	26 + (21 + 9)	=	26 + 30	=	56
⑥	37 + 2 + 8 =	37 + (2 + 8)	=	37 + 10	=	47
⑦	13 + 5 + 5 =	13 + (5 + 5)	=	13 + 10	=	23
⑧	67 + 14 + 6 =	67 + (14 + 6)	=	67 + 20	=	87
⑨	43 + 19 + 1 =	43 + (19 + 1)	=	43 + 20	=	63
⑩	66 + 1 + 29 =	66 + (1 + 29)	=	66 + 30	=	96
⑪	13 + 5 + 15 =	13 + (5 + 15)	=	13 + 20	=	33
⑫	53 + 11 + 9 =	53 + (11 + 9)	=	53 + 20	=	73
⑬	51 + 12 + 8 =	51 + (12 + 8)	=	51 + 20	=	71
⑭	24 + 1 + 9 =	24 + (1 + 9)	=	24 + 10	=	34

>, <, =を つかった しき

年　組　名前

/ 24

■ つぎの □ に >, <, = を うめましょう。

①	170 − 80	>	80
②	60 + 80	=	140
③	150 − 90	=	60
④	50 − 30	>	10
⑤	60 + 20	=	80
⑥	160 − 70	<	100
⑦	50 + 30	>	70
⑧	100 − 20	>	70
⑨	90 − 50	<	50
⑩	120 − 50	=	70
⑪	30 + 90	>	110
⑫	90 − 20	=	70
⑬	30 + 60	<	100
⑭	90 + 50	>	130
⑮	130 − 40	<	100
⑯	60 + 70	<	140
⑰	90 + 20	=	110
⑱	50 + 80	<	140
⑲	100 − 60	>	30
⑳	70 + 30	=	100
㉑	40 + 30	>	60
㉒	40 + 80	<	130
㉓	110 − 40	=	70
㉔	150 − 80	<	80

かけ算

年　組　名前

/26

■ つぎのかけ算をしましょう。

① 2 × 5 = 10

② 5 × 7 = 35

③ 4 × 4 = 16

④ 2 × 9 = 18

⑤ 3 × 5 = 15

⑥ 5 × 9 = 45

⑦ 2 × 8 = 16

⑧ 2 × 4 = 8

⑨ 3 × 1 = 3

⑩ 4 × 5 = 20

⑪ 4 × 3 = 12

⑫ 3 × 6 = 18

⑬ 4 × 9 = 36

⑭ 5 × 6 = 30

⑮ 1 × 3 = 3

⑯ 2 × 6 = 12

⑰ 4 × 6 = 24

⑱ 4 × 2 = 8

⑲ 5 × 1 = 5

⑳ 3 × 4 = 12

㉑ 5 × 8 = 40

㉒ 1 × 5 = 5

㉓ 2 × 7 = 14

㉔ 1 × 8 = 8

㉕ 3 × 8 = 24

㉖ 3 × 7 = 21

かけ算

年　組　名前

/26

■ つぎのかけ算をしましょう。

① 2 × 2 = 4

② 3 × 2 = 6

③ 1 × 6 = 6

④ 2 × 3 = 6

⑤ 3 × 3 = 9

⑥ 5 × 3 = 15

⑦ 1 × 3 = 3

⑧ 2 × 4 = 8

⑨ 4 × 7 = 28

⑩ 1 × 9 = 9

⑪ 3 × 4 = 12

⑫ 5 × 2 = 10

⑬ 4 × 5 = 20

⑭ 5 × 6 = 30

⑮ 5 × 7 = 35

⑯ 2 × 5 = 10

⑰ 4 × 9 = 36

⑱ 5 × 8 = 40

⑲ 3 × 1 = 3

⑳ 3 × 6 = 18

㉑ 5 × 9 = 45

㉒ 4 × 6 = 24

㉓ 2 × 1 = 2

㉔ 4 × 3 = 12

㉕ 2 × 9 = 18

㉖ 4 × 1 = 4

かけ算をつかって

年　組　名前

/ 7

■ かけ算の式をたてて こたえましょう。

① 1人分のパンケーキをつくるのに、たまごを 4こ つかいます。
5人分 のパンケーキをつくるには、たまごは何こいりますか。

（式）

4 × 5 = 20

20こ

② あつさ 3mm の本を たてにつみます。
6さつ つむと、高さはぜんぶで何mmになりますか。

（式）

3 × 6 = 18

18mm

③ 車のおもちゃを走らせるのに、でんちを 4こ つかいます。
2だい の車のおもちゃを走らせるには、でんちは何こいりますか。

（式）

4 × 2 = 8

8こ

④ まいにち 5さつ のえほんをよみます。
3日 で何さつの本をよむことができますか。

（式）

5 × 3 = 15

15さつ

⑤ りんごが 2こ 入ったはこが 7こ あります。
りんごはぜんぶで何こありますか。

（式）

2 × 7 = 14

14こ

⑥ ガムを 2こ ずつ 9人に くばります。
ガムはぜんぶで何こいりますか。

（式）

2 × 9 = 18

18こ

⑦ 5人のグループを 8くみ つくりました。
みんなで何人いますか。

（式）

5 × 8 = 40

40人