教材おきば の

これだけ、安心

算数ドリル

2－12

Light

小学２年生

もくじ

①	なんじなんぷん 長針をかく	１ページ
②	間の時間	１ページ
③	センチメートルとミリメートル	１ページ
④	何十のひき算	１ページ
⑤	何百のひき算	１ページ
⑥	リットル・デシリットル・ミリリットル たんいがえ	１ページ
⑦	３つの数のたし算のひっ算 １けた	１ページ
⑧	３つの数のたし算のひっ算	１ページ
⑨	かけ算の練習 １～５のだん	１ページ
⑩	かけ算の練習 ６～９のだん	１ページ
⑪	図をつかって考えよう(3) ちがいをみて	２ページ
⑫	10～19 のだんを考える	２ページ
	合計	１４ページ

© 2022 kyozai-okiba.com

なんじなんぷん

ねん　　くみ

なまえ

/ 8

■ ながい はりを かきましょう。

① 4じ 21ぷん



② 5じ 36ぷん



③ 9じ 54ぷん



④ 7じ 13ぷん



⑤ 2じ 42ふん



⑥ 1じ 7ふん

⑦ 12じ 24ぷん



⑧ 3じ 47ふん



間の時間

年　組　名前

/18

■ つぎの時間をこたえましょう。

① 10時25分と10時45分の間の時間

分

② 8時15分 と 8時25分 の間の時間

分

③ 2時5分 と 2時55分 の間の時間

分

④ 5時40分 と 5時55分 の間の時間

分

⑤ 4時45分 と 4時50分 の間の時間

分

⑥ 9時45分 と 9時55分 の間の時間

分

⑦ 7時25分 と 7時50分 の間の時間

分

⑧ 6時20分 と 6時45分 の間の時間

分

⑨ 3時30分 と 3時40分 の間の時間

分

⑩ 4時10分 と 4時30分 の間の時間

分

⑪ 7時35分 と 7時40分 の間の時間

分

⑫ 12時30分と12時55分の間の時間

分

⑬ 3時10分 と 3時15分 の間の時間

分

⑭ 10時5分 と10時30分の間の時間

分

⑮ 8時20分 と 8時30分 の間の時間

分

⑯ 11時15分と11時40分の間の時間

分

⑰ 6時35分 と 6時55分 の間の時間

分

⑱ 9時40分 と 9時50分 の間の時間

分

センチメートル と ミリメートル

年　組　名前

/20

■ つぎの長さを ○cm または ○cm□mm の形であらわしましょう。

① 20mm は

② 748mm は

③ 508mm は

④ 910mm は

⑤ 75mm は

⑥ 904mm は

⑦ 280mm は

⑧ 40mm は

⑨ 91mm は

⑩ 324mm は

■ つぎの長さを □mm の形であらわしましょう。

⑪ 5cm は

⑫ 80cm 1mm は

⑬ 3cm 6mm は

⑭ 4cm 7mm は

⑮ 15cm 3mm は

⑯ 67cm は

⑰ 35cm は

⑱ 6cm は

⑲ 99cm 9mm は

⑳ 10cm 7mm は

何十のひき算

年　組　名前

/30

■ 次のひき算をしましょう。

① 140 − 70 = □
② 60 − 20 = □
③ 170 − 90 = □
④ 100 − 40 = □
⑤ 100 − 70 = □
⑥ 120 − 90 = □
⑦ 110 − 40 = □
⑧ 90 − 10 = □
⑨ 100 − 50 = □
⑩ 140 − 80 = □
⑪ 130 − 60 = □
⑫ 70 − 10 = □
⑬ 40 − 20 = □
⑭ 80 − 50 = □
⑮ 70 − 60 = □
⑯ 160 − 90 = □
⑰ 150 − 90 = □
⑱ 110 − 90 = □
⑲ 130 − 40 = □
⑳ 160 − 70 = □
㉑ 20 − 10 = □
㉒ 170 − 80 = □
㉓ 140 − 50 = □
㉔ 120 − 50 = □
㉕ 180 − 90 = □
㉖ 100 − 80 = □
㉗ 150 − 60 = □
㉘ 90 − 50 = □
㉙ 150 − 80 = □
㉚ 130 − 50 = □

何百のひき算

年　組　名前

/30

■ 次のひき算をしましょう。

① 1000 − 800 = □

② 800 − 400 = □

③ 1000 − 600 = □

④ 700 − 100 = □

⑤ 500 − 200 = □

⑥ 900 − 100 = □

⑦ 1000 − 300 = □

⑧ 600 − 100 = □

⑨ 200 − 100 = □

⑩ 1000 − 200 = □

⑪ 800 − 300 = □

⑫ 300 − 200 = □

⑬ 700 − 600 = □

⑭ 1000 − 400 = □

⑮ 500 − 100 = □

⑯ 800 − 100 = □

⑰ 600 − 500 = □

⑱ 900 − 600 = □

⑲ 700 − 200 = □

⑳ 700 − 300 = □

㉑ 900 − 300 = □

㉒ 900 − 800 = □

㉓ 800 − 600 = □

㉔ 1000 − 900 = □

㉕ 900 − 200 = □

㉖ 1000 − 500 = □

㉗ 700 − 400 = □

㉘ 400 − 200 = □

㉙ 900 − 500 = □

㉚ 600 − 300 = □

かさ の たんい

年　組　名前

/18

■ つぎの かさ を、□ に入る形になおしましょう。

① 1 L ＝ □ mL

② 700 mL ＝ □ dL

③ 80 L ＝ □ dL

④ 4 dL ＝ □ mL

⑤ 60 L ＝ □ dL

⑥ 80 dL ＝ □ mL

⑦ 300 dL ＝ □ L

⑧ 90 dL ＝ □ L

⑨ 6 L ＝ □ mL

⑩ 2000 mL ＝ □ dL

⑪ 10 L ＝ □ dL

⑫ 7000 mL ＝ □ L

⑬ 30 dL ＝ □ L

⑭ 4 L ＝ □ dL

⑮ 900 mL ＝ □ dL

⑯ 5000 mL ＝ □ L

⑰ 5 dL ＝ □ mL

⑱ 200 dL ＝ □ L

3つの数のたし算

年　組　名前

/16

■ 次のたし算をしましょう。

①
	4
	2
＋	6

②
	6
	8
＋	6

③
	3
	4
＋	4

④
	8
	5
＋	3

⑤
	1
	8
＋	1

⑥
	4
	4
＋	5

⑦
	2
	3
＋	8

⑧
	9
	8
＋	4

⑨
	4
	2
＋	2

⑩
	2
	6
＋	2

⑪
	4
	6
＋	9

⑫
	6
	4
＋	6

⑬
	2
	2
＋	9

⑭
	8
	8
＋	3

⑮
	4
	4
＋	7

⑯
	5
	9
＋	7

3つの数のたし算

年　組　名前

/12

■ 次のたし算をしましょう。

①

	8	7
	5	1
＋	2	1

②

	1	5
	4	6
＋	6	6

③

	8	1
	1	2
＋	3	5

④

	8	6
	2	5
＋	7	4

⑤

	7	5
	6	1
＋	4	5

⑥

	3	9
	5	0
＋	3	5

⑦

	5	0
	6	2
＋	6	0

⑧

	7	8
	4	9
＋	4	9

⑨

	6	9
	1	3
＋	7	9

⑩

	1	4
	3	1
＋	7	0

⑪

	3	5
	3	1
＋	7	4

⑫

	5	9
	7	9
＋	4	0

かけ算

年　組　名前

/26

■ つぎのかけ算をしましょう。

① 4 × 5 = □

② 5 × 3 = □

③ 1 × 1 = □

④ 3 × 5 = □

⑤ 2 × 9 = □

⑥ 4 × 7 = □

⑦ 2 × 1 = □

⑧ 5 × 1 = □

⑨ 2 × 2 = □

⑩ 5 × 4 = □

⑪ 1 × 2 = □

⑫ 3 × 4 = □

⑬ 2 × 8 = □

⑭ 5 × 5 = □

⑮ 5 × 2 = □

⑯ 5 × 9 = □

⑰ 4 × 9 = □

⑱ 4 × 6 = □

⑲ 3 × 6 = □

⑳ 2 × 3 = □

㉑ 3 × 9 = □

㉒ 3 × 1 = □

㉓ 3 × 3 = □

㉔ 2 × 7 = □

㉕ 4 × 4 = □

㉖ 1 × 7 = □

かけ算

年　組　名前

/26

■ つぎのかけ算をしましょう。

① 7 × 2 = □

② 7 × 5 = □

③ 7 × 1 = □

④ 9 × 8 = □

⑤ 6 × 1 = □

⑥ 7 × 8 = □

⑦ 8 × 7 = □

⑧ 9 × 6 = □

⑨ 7 × 9 = □

⑩ 9 × 4 = □

⑪ 9 × 5 = □

⑫ 6 × 8 = □

⑬ 8 × 1 = □

⑭ 7 × 6 = □

⑮ 7 × 3 = □

⑯ 6 × 6 = □

⑰ 8 × 3 = □

⑱ 6 × 2 = □

⑲ 8 × 6 = □

⑳ 8 × 8 = □

㉑ 6 × 7 = □

㉒ 9 × 7 = □

㉓ 8 × 2 = □

㉔ 8 × 5 = □

㉕ 6 × 3 = □

㉖ 6 × 4 = □

図を つかって 考えよう

年　　組　名前

/ 3

■ 図を見て考えましょう。

① 赤組 と 白組で とく点を きそって います。
赤組は、白組より 4点 多いそうです。
赤組は 24点 です。白組 は何点ですか。

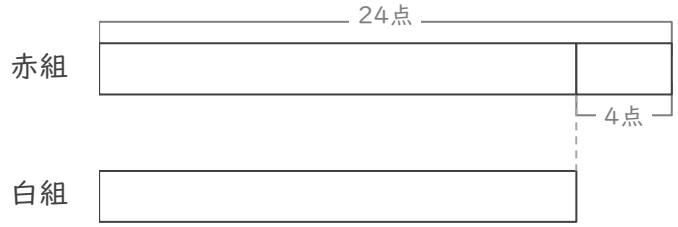

(式)

点

② りんご と みかん を買います。
りんごは、みかんより 26円 高いそうです。
りんごは 125円 です。みかん は何円ですか。



(式)

円

③ 緑色のリボン と 青色のリボン があります。
緑色のリボンは、青色のリボンより 36cm 長いそうです。
緑色のリボンは 104cm です。青色のリボン は何cmですか。

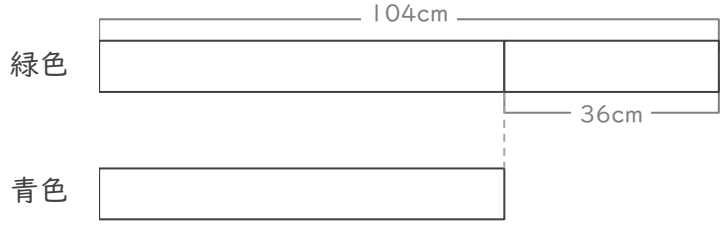

(式)

cm

図を つかって 考えよう

年　　組　名前

/ 3

■ 図を見て考えましょう。

① 赤組 と 白組で とく点を きそって います。
赤組は、白組より 4点 多いそうです。
赤組は 16点 です。白組 は何点ですか。

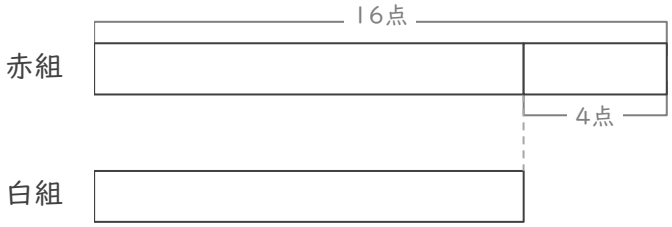

(式)

点

② りんご と みかん を買います。
りんごは、みかんより 31円 高いそうです。
りんごは 122円 です。みかん は何円ですか。



(式)

円

③ 赤色のリボン と 白色のリボン があります。
赤色のリボンは、白色のリボンより 39cm 長いそうです。
赤色のリボンは 98cm です。白色のリボン は何cmですか。

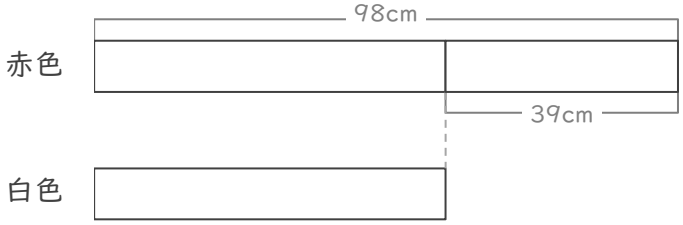

(式)

cm

九九を広げて

年　組　名前

/ 36

■ 下の ひょうに あてはまる 数を かきましょう。

① 11 のだん

かける数

		1	2	3	4	5	6	7	8	9
かけられる数	11									

11をたす

② 13 のだん

かける数

		1	2	3	4	5	6	7	8	9
かけられる数	13									

13をたす

③ 15 のだん

かける数

		1	2	3	4	5	6	7	8	9
かけられる数	15									

15をたす

④ 17 のだん

かける数

		1	2	3	4	5	6	7	8	9
かけられる数	17									

17をたす

九九を広げて

年　組　名前

/ 36

■ 下の ひょうに あてはまる 数を かきましょう。

① 12 のだん

かける数

		1	2	3	4	5	6	7	8	9
かけられる数	12									

12をたす

② 14 のだん

かける数

		1	2	3	4	5	6	7	8	9
かけられる数	14									

14をたす

③ 16 のだん

かける数

		1	2	3	4	5	6	7	8	9
かけられる数	16									

16をたす

④ 18 のだん

かける数

		1	2	3	4	5	6	7	8	9
かけられる数	18									

18をたす

なんじなんぷん

ねん　　くみ

なまえ

/ 8

■ ながい はりを かきましょう。

① 4じ 21ぷん

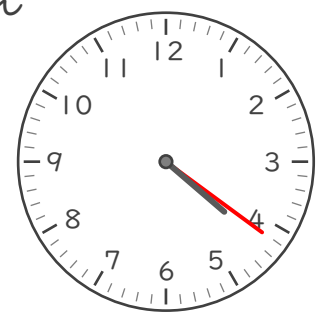

② 5じ 36ぷん

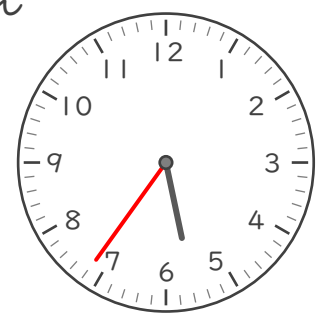

③ 9じ 54ぷん



④ 7じ 13ぷん

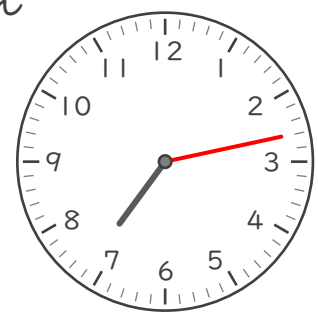

⑤ 2じ 42ふん

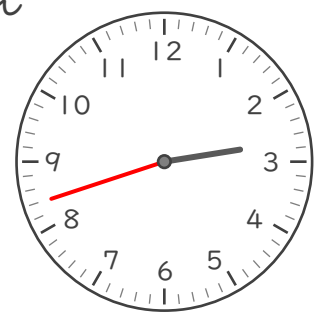

⑥ 1じ 7ふん

⑦ 12じ 24ぷん

⑧ 3じ 47ふん

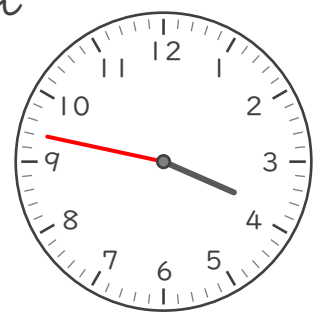

間の時間

年　組　名前

/18

■ つぎの時間をこたえましょう。

① 10時25分と10時45分の間の時間

20 分

② 8時15分 と 8時25分 の間の時間

10 分

③ 2時5分 と 2時55分 の間の時間

50 分

④ 5時40分 と 5時55分 の間の時間

15 分

⑤ 4時45分 と 4時50分 の間の時間

5 分

⑥ 9時45分 と 9時55分 の間の時間

10 分

⑦ 7時25分 と 7時50分 の間の時間

25 分

⑧ 6時20分 と 6時45分 の間の時間

25 分

⑨ 3時30分 と 3時40分 の間の時間

10 分

⑩ 4時10分 と 4時30分 の間の時間

20 分

⑪ 7時35分 と 7時40分 の間の時間

5 分

⑫ 12時30分と12時55分の間の時間

25 分

⑬ 3時10分 と 3時15分 の間の時間

5 分

⑭ 10時5分 と10時30分の間の時間

25 分

⑮ 8時20分 と 8時30分 の間の時間

10 分

⑯ 11時15分と11時40分の間の時間

25 分

⑰ 6時35分 と 6時55分 の間の時間

20 分

⑱ 9時40分 と 9時50分 の間の時間

10 分

センチメートル と ミリメートル	年　組　名前	/20

■ つぎの長さを ○cm または ○cm□mm の形であらわしましょう。

①	20mm は	2cm	⑥	904mm は	90cm 4mm
②	748mm は	74cm 8mm	⑦	280mm は	28cm
③	508mm は	50cm 8mm	⑧	40mm は	4cm
④	910mm は	91cm	⑨	91mm は	9cm 1mm
⑤	75mm は	7cm 5mm	⑩	324mm は	32cm 4mm

■ つぎの長さを □mm の形であらわしましょう。

⑪	5cm は	50mm	⑯	67cm は	670mm
⑫	80cm 1mm は	801mm	⑰	35cm は	350mm
⑬	3cm 6mm は	36mm	⑱	6cm は	60mm
⑭	4cm 7mm は	47mm	⑲	99cm 9mm は	999mm
⑮	15cm 3mm は	153mm	⑳	10cm 7mm は	107mm

何十のひき算

年　組　名前

/30

■ 次のひき算をしましょう。

①	140	−	70	=	70
②	60	−	20	=	40
③	170	−	90	=	80
④	100	−	40	=	60
⑤	100	−	70	=	30
⑥	120	−	90	=	30
⑦	110	−	40	=	70
⑧	90	−	10	=	80
⑨	100	−	50	=	50
⑩	140	−	80	=	60
⑪	130	−	60	=	70
⑫	70	−	10	=	60
⑬	40	−	20	=	20
⑭	80	−	50	=	30
⑮	70	−	60	=	10
⑯	160	−	90	=	70
⑰	150	−	90	=	60
⑱	110	−	90	=	20
⑲	130	−	40	=	90
⑳	160	−	70	=	90
㉑	20	−	10	=	10
㉒	170	−	80	=	90
㉓	140	−	50	=	90
㉔	120	−	50	=	70
㉕	180	−	90	=	90
㉖	100	−	80	=	20
㉗	150	−	60	=	90
㉘	90	−	50	=	40
㉙	150	−	80	=	70
㉚	130	−	50	=	80

何百のひき算

年　組　名前

/30

■ 次のひき算をしましょう。

①	1000 − 800 =	200	⑯	800 − 100 =	700
②	800 − 400 =	400	⑰	600 − 500 =	100
③	1000 − 600 =	400	⑱	900 − 600 =	300
④	700 − 100 =	600	⑲	700 − 200 =	500
⑤	500 − 200 =	300	⑳	700 − 300 =	400
⑥	900 − 100 =	800	㉑	900 − 300 =	600
⑦	1000 − 300 =	700	㉒	900 − 800 =	100
⑧	600 − 100 =	500	㉓	800 − 600 =	200
⑨	200 − 100 =	100	㉔	1000 − 900 =	100
⑩	1000 − 200 =	800	㉕	900 − 200 =	700
⑪	800 − 300 =	500	㉖	1000 − 500 =	500
⑫	300 − 200 =	100	㉗	700 − 400 =	300
⑬	700 − 600 =	100	㉘	400 − 200 =	200
⑭	1000 − 400 =	600	㉙	900 − 500 =	400
⑮	500 − 100 =	400	㉚	600 − 300 =	300

かさ の たんい

年　組　名前

/18

■ つぎの かさ を、□ に入る形になおしましょう。

①	1 L	=	1000	mL	⑩	2000 mL	=	20	dL
②	700 mL	=	7	dL	⑪	10 L	=	100	dL
③	80 L	=	800	dL	⑫	7000 mL	=	7	L
④	4 dL	=	400	mL	⑬	30 dL	=	3	L
⑤	60 L	=	600	dL	⑭	4 L	=	40	dL
⑥	80 dL	=	8000	mL	⑮	900 mL	=	9	dL
⑦	300 dL	=	30	L	⑯	5000 mL	=	5	L
⑧	90 dL	=	9	L	⑰	5 dL	=	500	mL
⑨	6 L	=	6000	mL	⑱	200 dL	=	20	L

3つの数のたし算

年　組　名前

/16

■ 次のたし算をしましょう。

①

	4
	2
＋	6
1	2

②

	6
	8
＋	6
2	0

③

	3
	4
＋	4
1	1

④

	8
	5
＋	3
1	6

⑤

	1
	8
＋	1
1	0

⑥

	4
	4
＋	5
1	3

⑦

	2
	3
＋	8
1	3

⑧

	9
	8
＋	4
2	1

⑨

	4
	2
＋	2
	8

⑩

	2
	6
＋	2
1	0

⑪

	4
	6
＋	9
1	9

⑫

	6
	4
＋	6
1	6

⑬

	2
	2
＋	9
1	3

⑭

	8
	8
＋	3
1	9

⑮

	4
	4
＋	7
1	5

⑯

	5
	9
＋	7
2	1

3つの数のたし算

年　組　名前

/12

■ 次のたし算をしましょう。

①

	8	7
	5	1
＋	2	1
1	5	9

②

	1	5
	4	6
＋	6	6
1	2	7

③

	8	1
	1	2
＋	3	5
1	2	8

④

	8	6
	2	5
＋	7	4
1	8	5

⑤

	7	5
	6	1
＋	4	5
1	8	1

⑥

	3	9
	5	0
＋	3	5
1	2	4

⑦

	5	0
	6	2
＋	6	0
1	7	2

⑧

	7	8
	4	9
＋	4	9
1	7	6

⑨

	6	9
	1	3
＋	7	9
1	6	1

⑩

	1	4
	3	1
＋	7	0
1	1	5

⑪

	3	5
	3	1
＋	7	4
1	4	0

⑫

	5	9
	7	9
＋	4	0
1	7	8

かけ算

年　組　名前

/26

■ つぎのかけ算をしましょう。

① 4 × 5 = 20

② 5 × 3 = 15

③ 1 × 1 = 1

④ 3 × 5 = 15

⑤ 2 × 9 = 18

⑥ 4 × 7 = 28

⑦ 2 × 1 = 2

⑧ 5 × 1 = 5

⑨ 2 × 2 = 4

⑩ 5 × 4 = 20

⑪ 1 × 2 = 2

⑫ 3 × 4 = 12

⑬ 2 × 8 = 16

⑭ 5 × 5 = 25

⑮ 5 × 2 = 10

⑯ 5 × 9 = 45

⑰ 4 × 9 = 36

⑱ 4 × 6 = 24

⑲ 3 × 6 = 18

⑳ 2 × 3 = 6

㉑ 3 × 9 = 27

㉒ 3 × 1 = 3

㉓ 3 × 3 = 9

㉔ 2 × 7 = 14

㉕ 4 × 4 = 16

㉖ 1 × 7 = 7

かけ算

年　組　名前

/26

■ つぎのかけ算をしましょう。

① 7 × 2 = 14

② 7 × 5 = 35

③ 7 × 1 = 7

④ 9 × 8 = 72

⑤ 6 × 1 = 6

⑥ 7 × 8 = 56

⑦ 8 × 7 = 56

⑧ 9 × 6 = 54

⑨ 7 × 9 = 63

⑩ 9 × 4 = 36

⑪ 9 × 5 = 45

⑫ 6 × 8 = 48

⑬ 8 × 1 = 8

⑭ 7 × 6 = 42

⑮ 7 × 3 = 21

⑯ 6 × 6 = 36

⑰ 8 × 3 = 24

⑱ 6 × 2 = 12

⑲ 8 × 6 = 48

⑳ 8 × 8 = 64

㉑ 6 × 7 = 42

㉒ 9 × 7 = 63

㉓ 8 × 2 = 16

㉔ 8 × 5 = 40

㉕ 6 × 3 = 18

㉖ 6 × 4 = 24

図を つかって 考えよう

年　組　名前

/ 3

■ 図を見て考えましょう。

① 赤組 と 白組で とく点を きそって います。
赤組は、白組より 4点 多いそうです。
赤組は 24点 です。白組 は何点ですか。

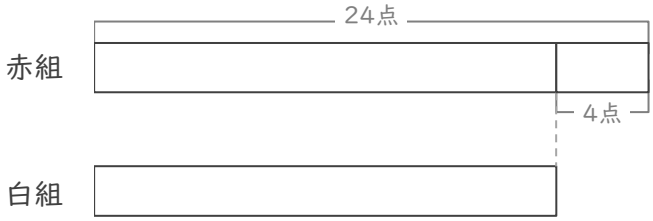

(式)

24 − 4 = 20

20 点

② りんご と みかん を買います。
りんごは、みかんより 26円 高いそうです。
りんごは 125円 です。みかん は何円ですか。

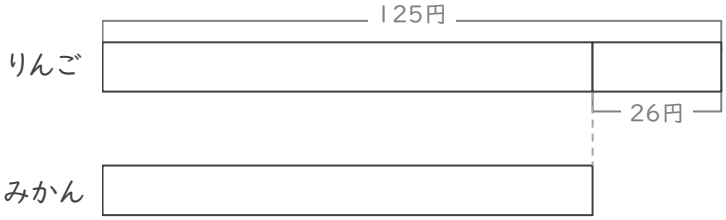

(式)

125 − 26 = 99

99 円

③ 緑色のリボン と 青色のリボン があります。
緑色のリボンは、青色のリボンより 36cm 長いそうです。
緑色のリボンは 104cm です。青色のリボン は何cmですか。

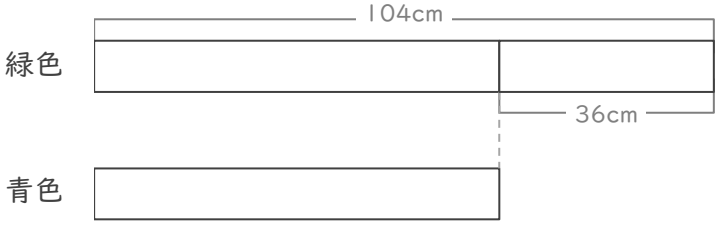

(式)

104 − 36 = 68

68 cm

図を つかって 考えよう

年　　組　名前

/ 3

■ 図を見て考えましょう。

① 赤組 と 白組で とく点を きそって います。
赤組は、白組より 4点 多いそうです。
赤組は 16点 です。白組 は何点ですか。

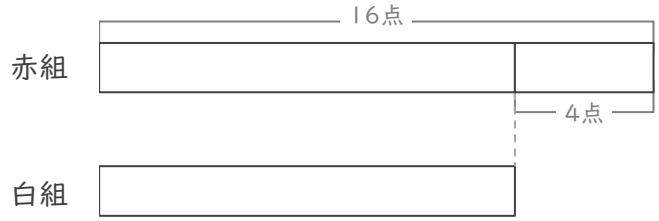

(式)

16 − 4 = 12

12 点

② りんご と みかん を買います。
りんごは、みかんより 31円 高いそうです。
りんごは 122円 です。みかん は何円ですか。

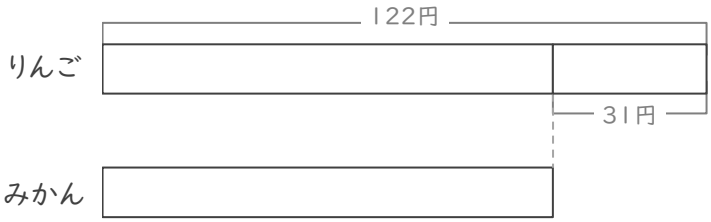

(式)

122 − 31 = 91

91 円

③ 赤色のリボン と 白色のリボン があります。
赤色のリボンは、白色のリボンより 39cm 長いそうです。
赤色のリボンは 98cm です。白色のリボン は何cmですか。

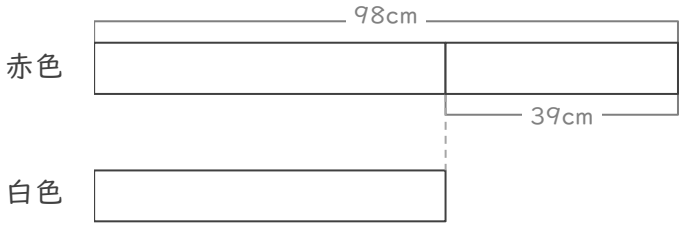

(式)

98 − 39 = 59

59 cm

九九を広げて

年　組　名前

/ 36

■ 下の ひょうに あてはまる 数を かきましょう。

① 11 のだん

かける数

		1	2	3	4	5	6	7	8	9
かけられる数	11	11	22	33	44	55	66	77	88	99

11をたす

② 13 のだん

かける数

		1	2	3	4	5	6	7	8	9
かけられる数	13	13	26	39	52	65	78	91	104	117

13をたす

③ 15 のだん

かける数

		1	2	3	4	5	6	7	8	9
かけられる数	15	15	30	45	60	75	90	105	120	135

15をたす

④ 17 のだん

かける数

		1	2	3	4	5	6	7	8	9
かけられる数	17	17	34	51	68	85	102	119	136	153

17をたす

九九を広げて

年　組　名前

/ 36

■ 下の ひょうに あてはまる 数を かきましょう。

① 12 のだん

かける数

		1	2	3	4	5	6	7	8	9
かけられる数	12	12	24	36	48	60	72	84	96	108

12をたす

② 14 のだん

かける数

		1	2	3	4	5	6	7	8	9
かけられる数	14	14	28	42	56	70	84	98	112	126

14をたす

③ 16 のだん

かける数

		1	2	3	4	5	6	7	8	9
かけられる数	16	16	32	48	64	80	96	112	128	144

16をたす

④ 18 のだん

かける数

		1	2	3	4	5	6	7	8	9
かけられる数	18	18	36	54	72	90	108	126	144	162

18をたす