教材おきば の

これだけ、安心

算数ドリル

2－12

小学２年生

もくじ

①	なんじなんぷん	２ページ
②	３つの数のたし算のひっ算	２ページ
③	100 からひくひっ算	２ページ
④	かけ算の文章問題　２～５のだん	２ページ
⑤	かけ算の文章問題　６～９のだん	２ページ
⑥	6～9 をかけるかけ算	２ページ
⑦	81 ます計算　かけ算	２ページ
⑧	九九 81 問ぜんぶプリント	３ページ
⑨	図をつかって考えよう(3)　ちがいをみて	２ページ
⑩	10～13 をかける	４ページ
⑪	10～19 のだんを考える	４ページ
	合計	２７ページ

© 2022 kyozai-okiba.com

なんじなんぷん

ねん　　くみ

なまえ

/ 8

■ とけいを よみましょう。

①

じ

ふん

②



じ

ふん

③



じ

ぷん

④

じ

ふん

⑤

じ

ふん

⑥

じ

ふん

⑦

じ

ぷん

⑧



じ

ふん

なんじなんぷん

ねん　　くみ

なまえ

/ 8

■ とけいを よみましょう。

①



じ

ふん

②

じ

ふん

③



じ

ぷん

④



じ

ぷん

⑤



じ

ふん

⑥

じ

ぷん

⑦



じ

ぷん

⑧



じ

ふん

3つの数のたし算

年　組　名前

/12

■ 次のたし算をしましょう。

①

	9	4
	2	0
＋	3	3

②

	6	8
	1	0
＋	7	4

③

	4	0
	2	8
＋	4	6

④

	1	1
	1	2
＋	1	0

⑤

	3	5
	7	2
＋	6	6

⑥

	3	0
	2	6
＋	5	0

⑦

	2	4
	4	8
＋	7	8

⑧

	3	0
	1	8
＋	1	3

⑨

	3	3
	1	9
＋	3	5

⑩

	9	6
	4	1
＋	3	7

⑪

	4	7
	4	9
＋	3	4

⑫

	3	7
	5	8
＋	3	3

3つの数のたし算

年　組　名前

/12

■ 次のたし算をしましょう。

①

	7	6
	2	6
＋	2	4

②

	1	6
	8	6
＋	1	0

③

	2	4
	5	5
＋	5	8

④

	3	5
	2	9
＋	2	1

⑤

	1	8
	3	4
＋	1	0

⑥

	2	4
	9	7
＋	2	5

⑦

	8	0
	2	6
＋	4	3

⑧

	4	0
	4	6
＋	4	2

⑨

	9	2
	5	0
＋	3	1

⑩

	1	9
	2	8
＋	3	4

⑪

	2	2
	4	8
＋	2	2

⑫

	5	3
	6	2
＋	3	8

100からひくひっ算

年　組　名前

/18

■ つぎのひき算のひっ算をしましょう。

①		1	0	0
	−		5	3

②		1	0	0
	−		7	6

③		1	0	0
	−		8	7

④		1	0	0
	−		2	2

⑤		1	0	0
	−		3	5

⑥		1	0	0
	−		2	8

⑦		1	0	0
	−		9	8

⑧		1	0	0
	−		5	2

⑨		1	0	0
	−		4	5

⑩		1	0	0
	−		1	4

⑪		1	0	0
	−		8	3

⑫		1	0	0
	−		4	1

⑬		1	0	0
	−		9	4

⑭		1	0	0
	−		6	4

⑮		1	0	0
	−		4	6

⑯		1	0	0
	−		3	1

⑰		1	0	0
	−		1	3

⑱		1	0	0
	−		3	7

100からひくひっ算

年　組　名前

/18

■ つぎのひき算のひっ算をしましょう。

①		1	0	0
	−		1	4

②		1	0	0
	−		5	5

③		1	0	0
	−		6	9

④		1	0	0
	−		1	5

⑤		1	0	0
	−		1	3

⑥		1	0	0
	−		2	6

⑦		1	0	0
	−		9	8

⑧		1	0	0
	−		7	5

⑨		1	0	0
	−		7	3

⑩		1	0	0
	−		4	4

⑪		1	0	0
	−		3	8

⑫		1	0	0
	−		8	9

⑬		1	0	0
	−		6	2

⑭		1	0	0
	−		2	2

⑮		1	0	0
	−		9	4

⑯		1	0	0
	−		5	7

⑰		1	0	0
	−		5	1

⑱		1	0	0
	−		9	1

かけ算をつかって

年　　組　名前

/ 7

■ かけ算の式をたてて こたえましょう。

①　あつさ 2mm の本を たてにつみます。
6さつ つむと、高さはぜんぶで何mmになりますか。
（式）

②　オレンジが 5こ 入ったはこが 2こ あります。
オレンジはぜんぶで何こありますか。
（式）

③　1人分のパンケーキをつくるのに、たまごを 2こ つかいます。
8人分 のパンケーキをつくるには、たまごは何こいりますか。
（式）

④　車のおもちゃを走らせるのに、でんちを 4こ つかいます。
3だい の車のおもちゃを走らせるには、でんちは何こいりますか。
（式）

⑤　かん字ドリルを 1日に 3ページ ずつ すすめます。
5日 では 何ページ すすめることができますか。
（式）

⑥　まいにち 3さつ のえほんをよみます。
7日 で何さつの本をよむことができますか。
（式）

⑦　あめを 4こ ずつ 9人に くばります。
あめはぜんぶで何こいりますか。
（式）

かけ算をつかって

年　組　名前

/ 7

■ かけ算の式をたてて こたえましょう。

① まいにち 2さつ のえほんをよみます。
4日 で何さつの本をよむことができますか。
（式）

② 1人分のパンケーキをつくるのに、たまごを 2こ つかいます。
5人分 のパンケーキをつくるには、たまごは何こいりますか。
（式）

③ りんごが 5こ 入ったはこが 2こ あります。
りんごはぜんぶで何こありますか。
（式）

④ 3人のグループを 6くみ つくりました。
みんなで何人いますか。
（式）

⑤ あつさ 4mm の本を たてにつみます。
3さつ つむと、高さはぜんぶで何mmになりますか。
（式）

⑥ 車のおもちゃを走らせるのに、でんちを 4こ つかいます。
8だい の車のおもちゃを走らせるには、でんちは何こいりますか。
（式）

⑦ かん字ドリルを 1日に 3ページ ずつ すすめます。
9日 では 何ページ すすめることができますか。
（式）

かけ算

年　組　名前

/26

■ つぎのかけ算をしましょう。

① 7 × 4 = □

② 6 × 3 = □

③ 7 × 7 = □

④ 7 × 9 = □

⑤ 6 × 4 = □

⑥ 6 × 6 = □

⑦ 8 × 5 = □

⑧ 8 × 4 = □

⑨ 7 × 8 = □

⑩ 7 × 2 = □

⑪ 9 × 3 = □

⑫ 7 × 1 = □

⑬ 6 × 2 = □

⑭ 9 × 8 = □

⑮ 9 × 2 = □

⑯ 6 × 5 = □

⑰ 8 × 3 = □

⑱ 8 × 7 = □

⑲ 6 × 1 = □

⑳ 8 × 9 = □

㉑ 9 × 4 = □

㉒ 9 × 6 = □

㉓ 6 × 8 = □

㉔ 9 × 9 = □

㉕ 9 × 7 = □

㉖ 8 × 8 = □

かけ算

年　組　名前

/26

■ つぎのかけ算をしましょう。

① 7 × 2 = □

② 7 × 6 = □

③ 6 × 4 = □

④ 8 × 8 = □

⑤ 7 × 1 = □

⑥ 8 × 2 = □

⑦ 9 × 7 = □

⑧ 7 × 8 = □

⑨ 9 × 8 = □

⑩ 6 × 6 = □

⑪ 9 × 1 = □

⑫ 9 × 4 = □

⑬ 8 × 3 = □

⑭ 7 × 5 = □

⑮ 9 × 9 = □

⑯ 8 × 6 = □

⑰ 9 × 2 = □

⑱ 6 × 3 = □

⑲ 6 × 1 = □

⑳ 9 × 3 = □

㉑ 8 × 5 = □

㉒ 7 × 7 = □

㉓ 8 × 1 = □

㉔ 8 × 9 = □

㉕ 6 × 2 = □

㉖ 7 × 3 = □

かけ算

年　組　名前

/26

■ つぎのかけ算をしましょう。

① 5 × 8 = □

② 8 × 9 = □

③ 4 × 9 = □

④ 8 × 7 = □

⑤ 1 × 7 = □

⑥ 7 × 9 = □

⑦ 6 × 8 = □

⑧ 9 × 7 = □

⑨ 3 × 9 = □

⑩ 5 × 6 = □

⑪ 4 × 6 = □

⑫ 6 × 7 = □

⑬ 2 × 9 = □

⑭ 7 × 7 = □

⑮ 6 × 6 = □

⑯ 1 × 6 = □

⑰ 5 × 7 = □

⑱ 7 × 6 = □

⑲ 3 × 6 = □

⑳ 6 × 9 = □

㉑ 4 × 8 = □

㉒ 9 × 6 = □

㉓ 4 × 7 = □

㉔ 3 × 8 = □

㉕ 7 × 8 = □

㉖ 2 × 8 = □

かけ算

年　組　名前

/26

■ つぎのかけ算をしましょう。

① 2 × 8 = □

② 3 × 9 = □

③ 6 × 7 = □

④ 2 × 6 = □

⑤ 6 × 9 = □

⑥ 9 × 6 = □

⑦ 7 × 8 = □

⑧ 8 × 9 = □

⑨ 8 × 8 = □

⑩ 5 × 6 = □

⑪ 3 × 8 = □

⑫ 2 × 7 = □

⑬ 6 × 8 = □

⑭ 5 × 8 = □

⑮ 5 × 9 = □

⑯ 1 × 6 = □

⑰ 7 × 7 = □

⑱ 9 × 8 = □

⑲ 4 × 6 = □

⑳ 4 × 7 = □

㉑ 8 × 7 = □

㉒ 3 × 6 = □

㉓ 4 × 9 = □

㉔ 3 × 7 = □

㉕ 1 × 7 = □

㉖ 1 × 9 = □

81ます計算

ねん　　くみ

名まえ

/80

■ 上と左の数をかけた答えを書きましょう。

かけ算	5	2	8	7	6	9	4	1	3
8	40								
1									
7									
3									
9									
5									
6									
4									
2									

81ます計算

ねん　　くみ

名まえ

/80

■ 上と左の数をかけた答えを書きましょう。

かけ算	8	6	3	4	1	5	9	7	2
8	64								
9									
6									
1									
2									
5									
7									
4									
3									

かけ算

年　組　名前

/ 81

■ 次のかけ算をしましょう。

(1) 9 × 4 =
(2) 7 × 5 =
(3) 3 × 4 =
(4) 3 × 9 =
(5) 1 × 6 =
(6) 2 × 6 =
(7) 9 × 3 =
(8) 5 × 2 =
(9) 3 × 7 =
(10) 6 × 5 =
(11) 2 × 8 =
(12) 4 × 1 =
(13) 8 × 4 =
(14) 3 × 1 =
(15) 4 × 4 =
(16) 2 × 3 =
(17) 1 × 9 =
(18) 4 × 6 =
(19) 1 × 4 =
(20) 4 × 7 =
(21) 6 × 3 =
(22) 1 × 7 =
(23) 3 × 6 =
(24) 2 × 2 =
(25) 5 × 8 =
(26) 5 × 3 =
(27) 6 × 2 =
(28) 3 × 5 =
(29) 8 × 7 =
(30) 8 × 6 =
(31) 8 × 2 =
(32) 7 × 1 =
(33) 9 × 6 =
(34) 6 × 6 =
(35) 4 × 8 =
(36) 8 × 9 =
(37) 7 × 6 =
(38) 4 × 9 =
(39) 6 × 4 =
(40) 9 × 9 =
(41) 8 × 5 =
(42) 8 × 1 =
(43) 5 × 5 =
(44) 2 × 9 =
(45) 7 × 2 =
(46) 5 × 1 =
(47) 1 × 8 =
(48) 4 × 3 =
(49) 7 × 7 =
(50) 3 × 2 =
(51) 5 × 4 =
(52) 2 × 1 =
(53) 9 × 8 =
(54) 9 × 7 =
(55) 6 × 1 =
(56) 7 × 3 =
(57) 5 × 7 =
(58) 7 × 4 =
(59) 7 × 9 =
(60) 6 × 9 =
(61) 5 × 6 =
(62) 6 × 7 =
(63) 5 × 9 =
(64) 2 × 4 =
(65) 2 × 5 =
(66) 9 × 1 =
(67) 6 × 8 =
(68) 4 × 2 =
(69) 1 × 1 =
(70) 3 × 8 =
(71) 4 × 5 =
(72) 8 × 3 =
(73) 1 × 3 =
(74) 1 × 5 =
(75) 7 × 8 =
(76) 2 × 7 =
(77) 1 × 2 =
(78) 9 × 2 =
(79) 8 × 8 =
(80) 9 × 5 =
(81) 3 × 3 =

かけ算

年　組　名前

/ 81

■ 次のかけ算をしましょう。

(1) 2 × 7 =
(2) 4 × 6 =
(3) 7 × 3 =
(4) 2 × 9 =
(5) 6 × 2 =
(6) 9 × 5 =
(7) 1 × 4 =
(8) 5 × 3 =
(9) 7 × 9 =
(10) 1 × 2 =
(11) 1 × 8 =
(12) 6 × 8 =
(13) 5 × 5 =
(14) 8 × 1 =
(15) 9 × 7 =
(16) 7 × 8 =
(17) 3 × 8 =
(18) 8 × 9 =
(19) 4 × 1 =
(20) 6 × 4 =
(21) 6 × 9 =
(22) 5 × 8 =
(23) 8 × 2 =
(24) 2 × 8 =
(25) 9 × 6 =
(26) 6 × 7 =
(27) 9 × 4 =
(28) 3 × 1 =
(29) 2 × 1 =
(30) 2 × 4 =
(31) 6 × 6 =
(32) 5 × 7 =
(33) 3 × 4 =
(34) 3 × 5 =
(35) 5 × 6 =
(36) 1 × 6 =
(37) 2 × 5 =
(38) 5 × 1 =
(39) 4 × 3 =
(40) 8 × 3 =
(41) 4 × 4 =
(42) 5 × 9 =
(43) 7 × 7 =
(44) 3 × 3 =
(45) 7 × 4 =
(46) 9 × 1 =
(47) 2 × 3 =
(48) 8 × 6 =
(49) 6 × 1 =
(50) 2 × 2 =
(51) 5 × 4 =
(52) 5 × 2 =
(53) 4 × 7 =
(54) 8 × 7 =
(55) 4 × 5 =
(56) 8 × 8 =
(57) 6 × 3 =
(58) 9 × 8 =
(59) 1 × 7 =
(60) 4 × 2 =
(61) 1 × 3 =
(62) 1 × 5 =
(63) 3 × 9 =
(64) 2 × 6 =
(65) 1 × 9 =
(66) 8 × 5 =
(67) 8 × 4 =
(68) 7 × 2 =
(69) 3 × 6 =
(70) 9 × 2 =
(71) 6 × 5 =
(72) 3 × 7 =
(73) 4 × 9 =
(74) 1 × 1 =
(75) 4 × 8 =
(76) 7 × 1 =
(77) 9 × 3 =
(78) 7 × 6 =
(79) 7 × 5 =
(80) 3 × 2 =
(81) 9 × 9 =

かけ算

年　組　名前

/ 81

■ 次のかけ算をしましょう。

(1) 9 × 1 =
(2) 5 × 9 =
(3) 8 × 9 =
(4) 9 × 8 =
(5) 9 × 7 =
(6) 6 × 1 =
(7) 4 × 7 =
(8) 8 × 5 =
(9) 6 × 8 =
(10) 4 × 6 =
(11) 3 × 9 =
(12) 7 × 7 =
(13) 3 × 6 =
(14) 4 × 5 =
(15) 4 × 8 =
(16) 1 × 1 =
(17) 4 × 9 =
(18) 1 × 6 =
(19) 3 × 3 =
(20) 7 × 1 =
(21) 8 × 4 =
(22) 7 × 9 =
(23) 2 × 9 =
(24) 5 × 1 =
(25) 4 × 4 =
(26) 7 × 6 =
(27) 3 × 1 =
(28) 6 × 9 =
(29) 2 × 3 =
(30) 6 × 6 =
(31) 6 × 2 =
(32) 1 × 4 =
(33) 9 × 9 =
(34) 1 × 5 =
(35) 7 × 5 =
(36) 2 × 7 =
(37) 6 × 3 =
(38) 4 × 2 =
(39) 1 × 3 =
(40) 9 × 5 =
(41) 8 × 6 =
(42) 2 × 6 =
(43) 9 × 2 =
(44) 3 × 8 =
(45) 5 × 6 =
(46) 5 × 7 =
(47) 3 × 2 =
(48) 2 × 4 =
(49) 2 × 2 =
(50) 5 × 3 =
(51) 8 × 8 =
(52) 7 × 4 =
(53) 8 × 7 =
(54) 1 × 2 =
(55) 9 × 4 =
(56) 4 × 1 =
(57) 5 × 4 =
(58) 8 × 1 =
(59) 9 × 3 =
(60) 3 × 5 =
(61) 6 × 7 =
(62) 2 × 1 =
(63) 6 × 4 =
(64) 7 × 8 =
(65) 5 × 2 =
(66) 5 × 8 =
(67) 5 × 5 =
(68) 4 × 3 =
(69) 1 × 9 =
(70) 8 × 2 =
(71) 2 × 8 =
(72) 6 × 5 =
(73) 7 × 3 =
(74) 9 × 6 =
(75) 1 × 7 =
(76) 8 × 3 =
(77) 1 × 8 =
(78) 3 × 4 =
(79) 2 × 5 =
(80) 7 × 2 =
(81) 3 × 7 =

図を つかって 考えよう

年　　組　名前

/ 3

■ 図を見て考えましょう。

① 赤組 と 白組で とく点を きそって います。
赤組は、白組より 5点 多いそうです。
赤組は 23点 です。白組 は何点ですか。

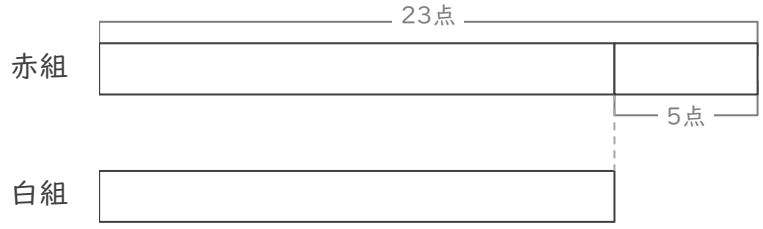

(式)

点

② りんご と みかん を買います。
りんごは、みかんより 38円 高いそうです。
りんごは 146円 です。みかん は何円ですか。



(式)

円

③ 白色のリボン と 青色のリボン があります。
白色のリボンは、青色のリボンより 31cm 長いそうです。
白色のリボンは 83cm です。青色のリボン は何cmですか。

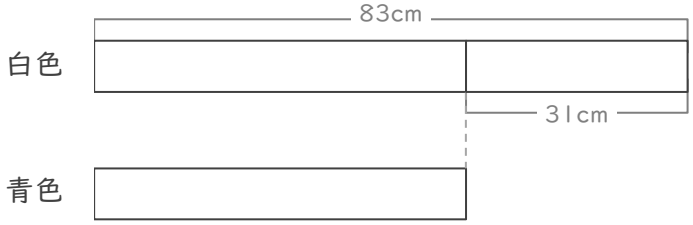

(式)

cm

図を つかって 考えよう

年　　組　名前

/ 3

■ 図を見て考えましょう。

① 赤組 と 白組で とく点を きそって います。
白組は、赤組より 6点 多いそうです。
白組は 29点 です。赤組 は何点ですか。

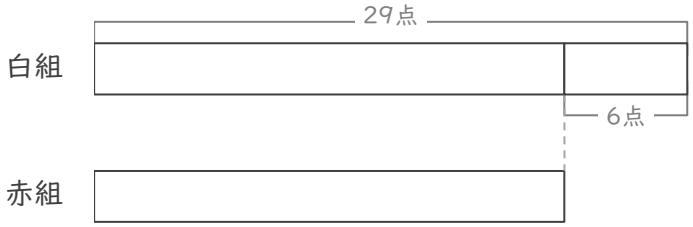

(式)

点

② りんご と みかん を買います。
りんごは、みかんより 32円 高いそうです。
りんごは 112円 です。みかん は何円ですか。

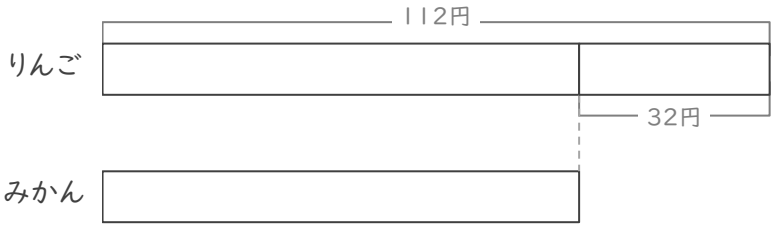

(式)

円

③ 白色のリボン と 赤色のリボン があります。
白色のリボンは、赤色のリボンより 37cm 長いそうです。
白色のリボンは 95cm です。赤色のリボン は何cmですか。

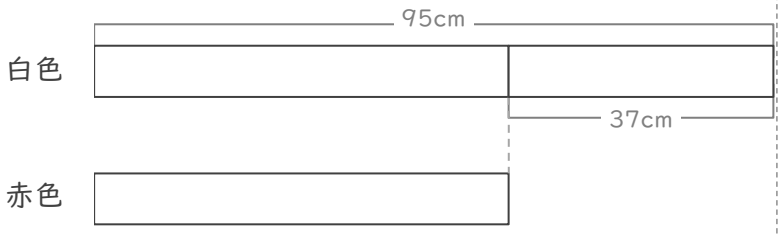

(式)

cm

九九を広げて

年　組　名前

/ 36

■ 下の ひょうに あてはまる 数を かきましょう。

① 2 のだん

かける数

		5	6	7	8	9	10	11	12	13
かけられる数	2									

2をたす

② 4 のだん

かける数

		5	6	7	8	9	10	11	12	13
かけられる数	4									

4をたす

③ 6 のだん

かける数

		5	6	7	8	9	10	11	12	13
かけられる数	6									

6をたす

④ 8 のだん

かける数

		5	6	7	8	9	10	11	12	13
かけられる数	8									

8をたす

九九を広げて

年　組　名前

/ 36

■ 下の ひょうに あてはまる 数を かきましょう。

① 3 のだん

かける数

		5	6	7	8	9	10	11	12	13
かけられる数	3									

3をたす

② 5 のだん

かける数

		5	6	7	8	9	10	11	12	13
かけられる数	5									

5をたす

③ 7 のだん

かける数

		5	6	7	8	9	10	11	12	13
かけられる数	7									

7をたす

④ 9 のだん

かける数

		5	6	7	8	9	10	11	12	13
かけられる数	9									

9をたす

九九を広げて

年　　組　名前

/ 36

■ 下の ひょうに あてはまる 数を かきましょう。

① 2 のだん

かける数

		5	6	7	8	9	10	11	12	13
かけられる数	2									

2をたす

② 5 のだん

かける数

		5	6	7	8	9	10	11	12	13
かけられる数	5									

5をたす

③ 7 のだん

かける数

		5	6	7	8	9	10	11	12	13
かけられる数	7									

7をたす

④ 8 のだん

かける数

		5	6	7	8	9	10	11	12	13
かけられる数	8									

8をたす

九九を広げて

年　組　名前

/ 36

■ 下の ひょうに あてはまる 数を かきましょう。

① 6 のだん

かける数

		5	6	7	8	9	10	11	12	13
かけられる数	6									

6をたす

② 7 のだん

かける数

		5	6	7	8	9	10	11	12	13
かけられる数	7									

7をたす

③ 8 のだん

かける数

		5	6	7	8	9	10	11	12	13
かけられる数	8									

8をたす

④ 9 のだん

かける数

		5	6	7	8	9	10	11	12	13
かけられる数	9									

9をたす

九九を広げて

年　組　名前

/ 36

■ 下の ひょうに あてはまる 数を かきましょう。

① 10 のだん

かける数

		1	2	3	4	5	6	7	8	9
かけられる数	10									

10をたす

② 12 のだん

かける数

		1	2	3	4	5	6	7	8	9
かけられる数	12									

12をたす

③ 14 のだん

かける数

		1	2	3	4	5	6	7	8	9
かけられる数	14									

14をたす

④ 16 のだん

かける数

		1	2	3	4	5	6	7	8	9
かけられる数	16									

16をたす

九九を広げて

年　組　名前

/ 36

■ 下の ひょうに あてはまる 数を かきましょう。

① 11 のだん

かける数

		1	2	3	4	5	6	7	8	9
かけられる数	11									

11をたす

② 13 のだん

かける数

		1	2	3	4	5	6	7	8	9
かけられる数	13									

13をたす

③ 15 のだん

かける数

		1	2	3	4	5	6	7	8	9
かけられる数	15									

15をたす

④ 17 のだん

かける数

		1	2	3	4	5	6	7	8	9
かけられる数	17									

17をたす

九九を広げて

年　組　名前

/ 36

■ 下の ひょうに あてはまる 数を かきましょう。

① 11 のだん

かける数

		1	2	3	4	5	6	7	8	9
かけられる数	11									

11をたす

② 12 のだん

かける数

		1	2	3	4	5	6	7	8	9
かけられる数	12									

12をたす

③ 18 のだん

かける数

		1	2	3	4	5	6	7	8	9
かけられる数	18									

18をたす

④ 19 のだん

かける数

		1	2	3	4	5	6	7	8	9
かけられる数	19									

19をたす

九九を広げて

年　組　名前

/ 36

■ 下の ひょうに あてはまる 数を かきましょう。

① 13 のだん

かける数

		1	2	3	4	5	6	7	8	9
かけられる数	13									

13をたす

② 14 のだん

かける数

		1	2	3	4	5	6	7	8	9
かけられる数	14									

14をたす

③ 15 のだん

かける数

		1	2	3	4	5	6	7	8	9
かけられる数	15									

15をたす

④ 16 のだん

かける数

		1	2	3	4	5	6	7	8	9
かけられる数	16									

16をたす

なんじなんぷん

ねん　　くみ

なまえ

/ 8

■ とけいを よみましょう。

①

9 じ

48 ふん

②



10 じ

29 ふん

③



1 じ

36 ぷん

④

4 じ

19 ふん

⑤

7 じ

12 ふん

⑥

2 じ

2 ふん

⑦

11 じ

53 ぷん

⑧



3 じ

42 ふん

なんじなんぷん

ねん　　くみ

なまえ

/ 8

■ とけいを よみましょう。

①



8 じ

57 ふん

⑤



11 じ

29 ふん

②

1 じ

18 ふん

⑥

6 じ

44 ぷん

③



7 じ

51 ぷん

⑦



10 じ

1 ぷん

④



4 じ

10 ぷん

⑧



9 じ

32 ふん

3つの数のたし算

年　組　名前

/12

■ 次のたし算をしましょう。

①

	9	4
	2	0
＋	3	3
1	4	7

②

	6	8
	1	0
＋	7	4
1	5	2

③

	4	0
	2	8
＋	4	6
1	1	4

④

	1	1
	1	2
＋	1	0
	3	3

⑤

	3	5
	7	2
＋	6	6
1	7	3

⑥

	3	0
	2	6
＋	5	0
1	0	6

⑦

	2	4
	4	8
＋	7	8
1	5	0

⑧

	3	0
	1	8
＋	1	3
	6	1

⑨

	3	3
	1	9
＋	3	5
	8	7

⑩

	9	6
	4	1
＋	3	7
1	7	4

⑪

	4	7
	4	9
＋	3	4
1	3	0

⑫

	3	7
	5	8
＋	3	3
1	2	8

3つの数のたし算

年　組　名前

/12

■ 次のたし算をしましょう。

①

	7	6
	2	6
＋	2	4
1	2	6

②

	1	6
	8	6
＋	1	0
1	1	2

③

	2	4
	5	5
＋	5	8
1	3	7

④

	3	5
	2	9
＋	2	1
	8	5

⑤

	1	8
	3	4
＋	1	0
	6	2

⑥

	2	4
	9	7
＋	2	5
1	4	6

⑦

	8	0
	2	6
＋	4	3
1	4	9

⑧

	4	0
	4	6
＋	4	2
1	2	8

⑨

	9	2
	5	0
＋	3	1
1	7	3

⑩

	1	9
	2	8
＋	3	4
	8	1

⑪

	2	2
	4	8
＋	2	2
	9	2

⑫

	5	3
	6	2
＋	3	8
1	5	3

100からひくひっ算

年　組　名前

/18

■ つぎのひき算のひっ算をしましょう。

①		1	0	0
	−		5	3
			4	7

②		1	0	0
	−		7	6
			2	4

③		1	0	0
	−		8	7
			1	3

④		1	0	0
	−		2	2
			7	8

⑤		1	0	0
	−		3	5
			6	5

⑥		1	0	0
	−		2	8
			7	2

⑦		1	0	0
	−		9	8
				2

⑧		1	0	0
	−		5	2
			4	8

⑨		1	0	0
	−		4	5
			5	5

⑩		1	0	0
	−		1	4
			8	6

⑪		1	0	0
	−		8	3
			1	7

⑫		1	0	0
	−		4	1
			5	9

⑬		1	0	0
	−		9	4
				6

⑭		1	0	0
	−		6	4
			3	6

⑮		1	0	0
	−		4	6
			5	4

⑯		1	0	0
	−		3	1
			6	9

⑰		1	0	0
	−		1	3
			8	7

⑱		1	0	0
	−		3	7
			6	3

100からひくひっ算

年　組　名前

/18

■ つぎのひき算のひっ算をしましょう。

①		1	0	0
	−		1	4
			8	6

②		1	0	0
	−		5	5
			4	5

③		1	0	0
	−		6	9
			3	1

④		1	0	0
	−		1	5
			8	5

⑤		1	0	0
	−		1	3
			8	7

⑥		1	0	0
	−		2	6
			7	4

⑦		1	0	0
	−		9	8
				2

⑧		1	0	0
	−		7	5
			2	5

⑨		1	0	0
	−		7	3
			2	7

⑩		1	0	0
	−		4	4
			5	6

⑪		1	0	0
	−		3	8
			6	2

⑫		1	0	0
	−		8	9
			1	1

⑬		1	0	0
	−		6	2
			3	8

⑭		1	0	0
	−		2	2
			7	8

⑮		1	0	0
	−		9	4
				6

⑯		1	0	0
	−		5	7
			4	3

⑰		1	0	0
	−		5	1
			4	9

⑱		1	0	0
	−		9	1
				9

かけ算をつかって

年　組　名前

/ 7

■ かけ算の式をたてて こたえましょう。

① あつさ 2mm の本を たてにつみます。
6さつ つむと、高さはぜんぶで何mmになりますか。
（式）
2 × 6 = 12

12mm

② オレンジが 5こ 入ったはこが 2こ あります。
オレンジはぜんぶで何こありますか。
（式）
5 × 2 = 10

10こ

③ 1人分のパンケーキをつくるのに、たまごを 2こ つかいます。
8人分 のパンケーキをつくるには、たまごは何こいりますか。
（式）
2 × 8 = 16

16こ

④ 車のおもちゃを走らせるのに、でんちを 4こ つかいます。
3だい の車のおもちゃを走らせるには、でんちは何こいりますか。
（式）
4 × 3 = 12

12こ

⑤ かん字ドリルを 1日に 3ページ ずつ すすめます。
5日 では 何ページ すすめることができますか。
（式）
3 × 5 = 15

15ページ

⑥ まいにち 3さつ のえほんをよみます。
7日 で何さつの本をよむことができますか。
（式）
3 × 7 = 21

21さつ

⑦ あめを 4こ ずつ 9人に くばります。
あめはぜんぶで何こいりますか。
（式）
4 × 9 = 36

36こ

かけ算をつかって

年　組　名前

/ 7

■ かけ算の式をたてて こたえましょう。

① まいにち 2さつ のえほんをよみます。
4日 で何さつの本をよむことができますか。
（式）
2 × 4 = 8

8さつ

② 1人分のパンケーキをつくるのに、たまごを 2こ つかいます。
5人分 のパンケーキをつくるには、たまごは何こいりますか。
（式）
2 × 5 = 10

10こ

③ りんごが 5こ 入ったはこが 2こ あります。
りんごはぜんぶで何こありますか。
（式）
5 × 2 = 10

10こ

④ 3人のグループを 6くみ つくりました。
みんなで何人いますか。
（式）
3 × 6 = 18

18人

⑤ あつさ 4mm の本を たてにつみます。
3さつ つむと、高さはぜんぶで何mmになりますか。
（式）
4 × 3 = 12

12mm

⑥ 車のおもちゃを走らせるのに、でんちを 4こ つかいます。
8だい の車のおもちゃを走らせるには、でんちは何こいりますか。
（式）
4 × 8 = 32

32こ

⑦ かん字ドリルを 1日に 3ページ ずつ すすめます。
9日 では 何ページ すすめることができますか。
（式）
3 × 9 = 27

27ページ

かけ算

年　組　名前

/26

■ つぎのかけ算をしましょう。

① 7 × 4 = 28

② 6 × 3 = 18

③ 7 × 7 = 49

④ 7 × 9 = 63

⑤ 6 × 4 = 24

⑥ 6 × 6 = 36

⑦ 8 × 5 = 40

⑧ 8 × 4 = 32

⑨ 7 × 8 = 56

⑩ 7 × 2 = 14

⑪ 9 × 3 = 27

⑫ 7 × 1 = 7

⑬ 6 × 2 = 12

⑭ 9 × 8 = 72

⑮ 9 × 2 = 18

⑯ 6 × 5 = 30

⑰ 8 × 3 = 24

⑱ 8 × 7 = 56

⑲ 6 × 1 = 6

⑳ 8 × 9 = 72

㉑ 9 × 4 = 36

㉒ 9 × 6 = 54

㉓ 6 × 8 = 48

㉔ 9 × 9 = 81

㉕ 9 × 7 = 63

㉖ 8 × 8 = 64

かけ算

年　組　名前

/26

■ つぎのかけ算をしましょう。

① 7 × 2 = 14

② 7 × 6 = 42

③ 6 × 4 = 24

④ 8 × 8 = 64

⑤ 7 × 1 = 7

⑥ 8 × 2 = 16

⑦ 9 × 7 = 63

⑧ 7 × 8 = 56

⑨ 9 × 8 = 72

⑩ 6 × 6 = 36

⑪ 9 × 1 = 9

⑫ 9 × 4 = 36

⑬ 8 × 3 = 24

⑭ 7 × 5 = 35

⑮ 9 × 9 = 81

⑯ 8 × 6 = 48

⑰ 9 × 2 = 18

⑱ 6 × 3 = 18

⑲ 6 × 1 = 6

⑳ 9 × 3 = 27

㉑ 8 × 5 = 40

㉒ 7 × 7 = 49

㉓ 8 × 1 = 8

㉔ 8 × 9 = 72

㉕ 6 × 2 = 12

㉖ 7 × 3 = 21

かけ算

年　組　名前

/26

■ つぎのかけ算をしましょう。

① 5 × 8 = 40

② 8 × 9 = 72

③ 4 × 9 = 36

④ 8 × 7 = 56

⑤ 1 × 7 = 7

⑥ 7 × 9 = 63

⑦ 6 × 8 = 48

⑧ 9 × 7 = 63

⑨ 3 × 9 = 27

⑩ 5 × 6 = 30

⑪ 4 × 6 = 24

⑫ 6 × 7 = 42

⑬ 2 × 9 = 18

⑭ 7 × 7 = 49

⑮ 6 × 6 = 36

⑯ 1 × 6 = 6

⑰ 5 × 7 = 35

⑱ 7 × 6 = 42

⑲ 3 × 6 = 18

⑳ 6 × 9 = 54

㉑ 4 × 8 = 32

㉒ 9 × 6 = 54

㉓ 4 × 7 = 28

㉔ 3 × 8 = 24

㉕ 7 × 8 = 56

㉖ 2 × 8 = 16

かけ算

年　組　名前

/26

■ つぎのかけ算をしましょう。

① 2 × 8 = 16

② 3 × 9 = 27

③ 6 × 7 = 42

④ 2 × 6 = 12

⑤ 6 × 9 = 54

⑥ 9 × 6 = 54

⑦ 7 × 8 = 56

⑧ 8 × 9 = 72

⑨ 8 × 8 = 64

⑩ 5 × 6 = 30

⑪ 3 × 8 = 24

⑫ 2 × 7 = 14

⑬ 6 × 8 = 48

⑭ 5 × 8 = 40

⑮ 5 × 9 = 45

⑯ 1 × 6 = 6

⑰ 7 × 7 = 49

⑱ 9 × 8 = 72

⑲ 4 × 6 = 24

⑳ 4 × 7 = 28

㉑ 8 × 7 = 56

㉒ 3 × 6 = 18

㉓ 4 × 9 = 36

㉔ 3 × 7 = 21

㉕ 1 × 7 = 7

㉖ 1 × 9 = 9

81ます計算

ねん　　くみ

名まえ

/80

■ 上と左の数をかけた答えを書きましょう。

かけ算	5	2	8	7	6	9	4	1	3
8	40	16	64	56	48	72	32	8	24
1	5	2	8	7	6	9	4	1	3
7	35	14	56	49	42	63	28	7	21
3	15	6	24	21	18	27	12	3	9
9	45	18	72	63	54	81	36	9	27
5	25	10	40	35	30	45	20	5	15
6	30	12	48	42	36	54	24	6	18
4	20	8	32	28	24	36	16	4	12
2	10	4	16	14	12	18	8	2	6

81ます計算

ねん　　くみ

名まえ

/80

■ 上と左の数をかけた答えを書きましょう。

かけ算	8	6	3	4	1	5	9	7	2
8	64	48	24	32	8	40	72	56	16
9	72	54	27	36	9	45	81	63	18
6	48	36	18	24	6	30	54	42	12
1	8	6	3	4	1	5	9	7	2
2	16	12	6	8	2	10	18	14	4
5	40	30	15	20	5	25	45	35	10
7	56	42	21	28	7	35	63	49	14
4	32	24	12	16	4	20	36	28	8
3	24	18	9	12	3	15	27	21	6

かけ算

年　組　名前

/ 81

■ 次のかけ算をしましょう。

(1) 9 × 4 = 36
(2) 7 × 5 = 35
(3) 3 × 4 = 12
(4) 3 × 9 = 27
(5) 1 × 6 = 6
(6) 2 × 6 = 12
(7) 9 × 3 = 27
(8) 5 × 2 = 10
(9) 3 × 7 = 21
(10) 6 × 5 = 30
(11) 2 × 8 = 16
(12) 4 × 1 = 4
(13) 8 × 4 = 32
(14) 3 × 1 = 3
(15) 4 × 4 = 16
(16) 2 × 3 = 6
(17) 1 × 9 = 9
(18) 4 × 6 = 24
(19) 1 × 4 = 4
(20) 4 × 7 = 28
(21) 6 × 3 = 18
(22) 1 × 7 = 7
(23) 3 × 6 = 18
(24) 2 × 2 = 4
(25) 5 × 8 = 40
(26) 5 × 3 = 15
(27) 6 × 2 = 12
(28) 3 × 5 = 15
(29) 8 × 7 = 56
(30) 8 × 6 = 48
(31) 8 × 2 = 16
(32) 7 × 1 = 7
(33) 9 × 6 = 54
(34) 6 × 6 = 36
(35) 4 × 8 = 32
(36) 8 × 9 = 72
(37) 7 × 6 = 42
(38) 4 × 9 = 36
(39) 6 × 4 = 24
(40) 9 × 9 = 81
(41) 8 × 5 = 40
(42) 8 × 1 = 8
(43) 5 × 5 = 25
(44) 2 × 9 = 18
(45) 7 × 2 = 14
(46) 5 × 1 = 5
(47) 1 × 8 = 8
(48) 4 × 3 = 12
(49) 7 × 7 = 49
(50) 3 × 2 = 6
(51) 5 × 4 = 20
(52) 2 × 1 = 2
(53) 9 × 8 = 72
(54) 9 × 7 = 63
(55) 6 × 1 = 6
(56) 7 × 3 = 21
(57) 5 × 7 = 35
(58) 7 × 4 = 28
(59) 7 × 9 = 63
(60) 6 × 9 = 54
(61) 5 × 6 = 30
(62) 6 × 7 = 42
(63) 5 × 9 = 45
(64) 2 × 4 = 8
(65) 2 × 5 = 10
(66) 9 × 1 = 9
(67) 6 × 8 = 48
(68) 4 × 2 = 8
(69) 1 × 1 = 1
(70) 3 × 8 = 24
(71) 4 × 5 = 20
(72) 8 × 3 = 24
(73) 1 × 3 = 3
(74) 1 × 5 = 5
(75) 7 × 8 = 56
(76) 2 × 7 = 14
(77) 1 × 2 = 2
(78) 9 × 2 = 18
(79) 8 × 8 = 64
(80) 9 × 5 = 45
(81) 3 × 3 = 9

かけ算

年　組　名前

/ 81

■ 次のかけ算をしましょう。

(1) 2 × 7 = 14
(2) 4 × 6 = 24
(3) 7 × 3 = 21
(4) 2 × 9 = 18
(5) 6 × 2 = 12
(6) 9 × 5 = 45
(7) 1 × 4 = 4
(8) 5 × 3 = 15
(9) 7 × 9 = 63
(10) 1 × 2 = 2
(11) 1 × 8 = 8
(12) 6 × 8 = 48
(13) 5 × 5 = 25
(14) 8 × 1 = 8
(15) 9 × 7 = 63
(16) 7 × 8 = 56
(17) 3 × 8 = 24
(18) 8 × 9 = 72
(19) 4 × 1 = 4
(20) 6 × 4 = 24
(21) 6 × 9 = 54
(22) 5 × 8 = 40
(23) 8 × 2 = 16
(24) 2 × 8 = 16
(25) 9 × 6 = 54
(26) 6 × 7 = 42
(27) 9 × 4 = 36
(28) 3 × 1 = 3
(29) 2 × 1 = 2
(30) 2 × 4 = 8
(31) 6 × 6 = 36
(32) 5 × 7 = 35
(33) 3 × 4 = 12
(34) 3 × 5 = 15
(35) 5 × 6 = 30
(36) 1 × 6 = 6
(37) 2 × 5 = 10
(38) 5 × 1 = 5
(39) 4 × 3 = 12
(40) 8 × 3 = 24
(41) 4 × 4 = 16
(42) 5 × 9 = 45
(43) 7 × 7 = 49
(44) 3 × 3 = 9
(45) 7 × 4 = 28
(46) 9 × 1 = 9
(47) 2 × 3 = 6
(48) 8 × 6 = 48
(49) 6 × 1 = 6
(50) 2 × 2 = 4
(51) 5 × 4 = 20
(52) 5 × 2 = 10
(53) 4 × 7 = 28
(54) 8 × 7 = 56
(55) 4 × 5 = 20
(56) 8 × 8 = 64
(57) 6 × 3 = 18
(58) 9 × 8 = 72
(59) 1 × 7 = 7
(60) 4 × 2 = 8
(61) 1 × 3 = 3
(62) 1 × 5 = 5
(63) 3 × 9 = 27
(64) 2 × 6 = 12
(65) 1 × 9 = 9
(66) 8 × 5 = 40
(67) 8 × 4 = 32
(68) 7 × 2 = 14
(69) 3 × 6 = 18
(70) 9 × 2 = 18
(71) 6 × 5 = 30
(72) 3 × 7 = 21
(73) 4 × 9 = 36
(74) 1 × 1 = 1
(75) 4 × 8 = 32
(76) 7 × 1 = 7
(77) 9 × 3 = 27
(78) 7 × 6 = 42
(79) 7 × 5 = 35
(80) 3 × 2 = 6
(81) 9 × 9 = 81

かけ算

年　組　名前

/ 81

■ 次のかけ算をしましょう。

(1) 9 × 1 = 9
(2) 5 × 9 = 45
(3) 8 × 9 = 72
(4) 9 × 8 = 72
(5) 9 × 7 = 63
(6) 6 × 1 = 6
(7) 4 × 7 = 28
(8) 8 × 5 = 40
(9) 6 × 8 = 48
(10) 4 × 6 = 24
(11) 3 × 9 = 27
(12) 7 × 7 = 49
(13) 3 × 6 = 18
(14) 4 × 5 = 20
(15) 4 × 8 = 32
(16) 1 × 1 = 1
(17) 4 × 9 = 36
(18) 1 × 6 = 6
(19) 3 × 3 = 9
(20) 7 × 1 = 7
(21) 8 × 4 = 32
(22) 7 × 9 = 63
(23) 2 × 9 = 18
(24) 5 × 1 = 5
(25) 4 × 4 = 16
(26) 7 × 6 = 42
(27) 3 × 1 = 3
(28) 6 × 9 = 54
(29) 2 × 3 = 6
(30) 6 × 6 = 36
(31) 6 × 2 = 12
(32) 1 × 4 = 4
(33) 9 × 9 = 81
(34) 1 × 5 = 5
(35) 7 × 5 = 35
(36) 2 × 7 = 14
(37) 6 × 3 = 18
(38) 4 × 2 = 8
(39) 1 × 3 = 3
(40) 9 × 5 = 45
(41) 8 × 6 = 48
(42) 2 × 6 = 12
(43) 9 × 2 = 18
(44) 3 × 8 = 24
(45) 5 × 6 = 30
(46) 5 × 7 = 35
(47) 3 × 2 = 6
(48) 2 × 4 = 8
(49) 2 × 2 = 4
(50) 5 × 3 = 15
(51) 8 × 8 = 64
(52) 7 × 4 = 28
(53) 8 × 7 = 56
(54) 1 × 2 = 2
(55) 9 × 4 = 36
(56) 4 × 1 = 4
(57) 5 × 4 = 20
(58) 8 × 1 = 8
(59) 9 × 3 = 27
(60) 3 × 5 = 15
(61) 6 × 7 = 42
(62) 2 × 1 = 2
(63) 6 × 4 = 24
(64) 7 × 8 = 56
(65) 5 × 2 = 10
(66) 5 × 8 = 40
(67) 5 × 5 = 25
(68) 4 × 3 = 12
(69) 1 × 9 = 9
(70) 8 × 2 = 16
(71) 2 × 8 = 16
(72) 6 × 5 = 30
(73) 7 × 3 = 21
(74) 9 × 6 = 54
(75) 1 × 7 = 7
(76) 8 × 3 = 24
(77) 1 × 8 = 8
(78) 3 × 4 = 12
(79) 2 × 5 = 10
(80) 7 × 2 = 14
(81) 3 × 7 = 21

図を つかって 考えよう

年　　組　名前

/ 3

■ 図を見て考えましょう。

① 赤組 と 白組で とく点を きそって います。
赤組は、白組より 5点 多いそうです。
赤組は 23点 です。白組 は何点ですか。

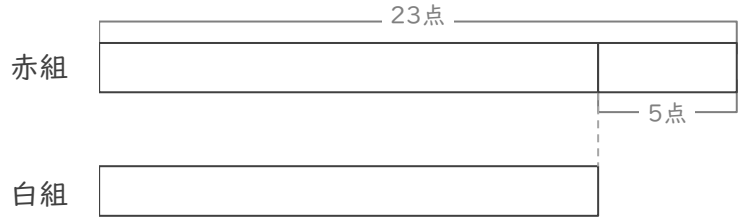

(式)

23 − 5 = 18

18 点

② りんご と みかん を買います。
りんごは、みかんより 38円 高いそうです。
りんごは 146円 です。みかん は何円ですか。



(式)

146 − 38 = 108

108 円

③ 白色のリボン と 青色のリボン があります。
白色のリボンは、青色のリボンより 31cm 長いそうです。
白色のリボンは 83cm です。青色のリボン は何cmですか。

(式)

83 − 31 = 52

52 cm

図を つかって 考えよう

年　　組　名前

/ 3

■ 図を見て考えましょう。

① 赤組 と 白組で とく点を きそって います。
白組は、赤組より 6点 多いそうです。
白組は 29点 です。赤組 は何点ですか。



(式)

29 − 6 = 23

23 点

② りんご と みかん を買います。
りんごは、みかんより 32円 高いそうです。
りんごは 112円 です。みかん は何円ですか。



(式)

112 − 32 = 80

80 円

③ 白色のリボン と 赤色のリボン があります。
白色のリボンは、赤色のリボンより 37cm 長いそうです。
白色のリボンは 95cm です。赤色のリボン は何cmですか。

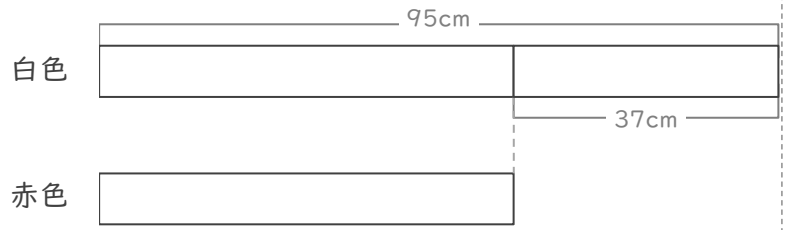

(式)

95 − 37 = 58

58 cm

九九を広げて

年　組　名前

/ 36

■ 下の ひょうに あてはまる 数を かきましょう。

① 2 のだん

かける数

		5	6	7	8	9	10	11	12	13
かけられる数	2	10	12	14	16	18	20	22	24	26

2をたす

② 4 のだん

かける数

		5	6	7	8	9	10	11	12	13
かけられる数	4	20	24	28	32	36	40	44	48	52

4をたす

③ 6 のだん

かける数

		5	6	7	8	9	10	11	12	13
かけられる数	6	30	36	42	48	54	60	66	72	78

6をたす

④ 8 のだん

かける数

		5	6	7	8	9	10	11	12	13
かけられる数	8	40	48	56	64	72	80	88	96	104

8をたす

九九を広げて

年　組　名前

/ 36

■ 下の ひょうに あてはまる 数を かきましょう。

① 3 のだん

かける数

		5	6	7	8	9	10	11	12	13
かけられる数	3	15	18	21	24	27	30	33	36	39

3をたす

② 5 のだん

かける数

		5	6	7	8	9	10	11	12	13
かけられる数	5	25	30	35	40	45	50	55	60	65

5をたす

③ 7 のだん

かける数

		5	6	7	8	9	10	11	12	13
かけられる数	7	35	42	49	56	63	70	77	84	91

7をたす

④ 9 のだん

かける数

		5	6	7	8	9	10	11	12	13
かけられる数	9	45	54	63	72	81	90	99	108	117

9をたす

九九を広げて

年　組　名前

/ 36

■ 下の ひょうに あてはまる 数を かきましょう。

① 2 のだん

かける数

		5	6	7	8	9	10	11	12	13
かけられる数	2	10	12	14	16	18	20	22	24	26

2をたす

② 5 のだん

かける数

		5	6	7	8	9	10	11	12	13
かけられる数	5	25	30	35	40	45	50	55	60	65

5をたす

③ 7 のだん

かける数

		5	6	7	8	9	10	11	12	13
かけられる数	7	35	42	49	56	63	70	77	84	91

7をたす

④ 8 のだん

かける数

		5	6	7	8	9	10	11	12	13
かけられる数	8	40	48	56	64	72	80	88	96	104

8をたす

九九を広げて

年　組　名前

/ 36

■ 下の ひょうに あてはまる 数を かきましょう。

① 6 のだん

かける数

		5	6	7	8	9	10	11	12	13
かけられる数	6	30	36	42	48	54	60	66	72	78

6をたす

② 7 のだん

かける数

		5	6	7	8	9	10	11	12	13
かけられる数	7	35	42	49	56	63	70	77	84	91

7をたす

③ 8 のだん

かける数

		5	6	7	8	9	10	11	12	13
かけられる数	8	40	48	56	64	72	80	88	96	104

8をたす

④ 9 のだん

かける数

		5	6	7	8	9	10	11	12	13
かけられる数	9	45	54	63	72	81	90	99	108	117

9をたす

九九を広げて

年　組　名前

/ 36

■ 下の ひょうに あてはまる 数を かきましょう。

① 10 のだん

かける数

		1	2	3	4	5	6	7	8	9
かけられる数	10	10	20	30	40	50	60	70	80	90

10をたす

② 12 のだん

かける数

		1	2	3	4	5	6	7	8	9
かけられる数	12	12	24	36	48	60	72	84	96	108

12をたす

③ 14 のだん

かける数

		1	2	3	4	5	6	7	8	9
かけられる数	14	14	28	42	56	70	84	98	112	126

14をたす

④ 16 のだん

かける数

		1	2	3	4	5	6	7	8	9
かけられる数	16	16	32	48	64	80	96	112	128	144

16をたす

九九を広げて

年　組　名前

/ 36

■ 下の ひょうに あてはまる 数を かきましょう。

① 11 のだん

かける数

		1	2	3	4	5	6	7	8	9
かけられる数	11	11	22	33	44	55	66	77	88	99

11をたす

② 13 のだん

かける数

		1	2	3	4	5	6	7	8	9
かけられる数	13	13	26	39	52	65	78	91	104	117

13をたす

③ 15 のだん

かける数

		1	2	3	4	5	6	7	8	9
かけられる数	15	15	30	45	60	75	90	105	120	135

15をたす

④ 17 のだん

かける数

		1	2	3	4	5	6	7	8	9
かけられる数	17	17	34	51	68	85	102	119	136	153

17をたす

九九を広げて

年　組　名前

/ 36

■ 下の ひょうに あてはまる 数を かきましょう。

① 11 のだん

かける数

		1	2	3	4	5	6	7	8	9
かけられる数	11	11	22	33	44	55	66	77	88	99

11をたす

② 12 のだん

かける数

		1	2	3	4	5	6	7	8	9
かけられる数	12	12	24	36	48	60	72	84	96	108

12をたす

③ 18 のだん

かける数

		1	2	3	4	5	6	7	8	9
かけられる数	18	18	36	54	72	90	108	126	144	162

18をたす

④ 19 のだん

かける数

		1	2	3	4	5	6	7	8	9
かけられる数	19	19	38	57	76	95	114	133	152	171

19をたす

九九を広げて

年　組　名前

/ 36

■ 下の ひょうに あてはまる 数を かきましょう。

① 13 のだん

かける数

		1	2	3	4	5	6	7	8	9
かけられる数	13	13	26	39	52	65	78	91	104	117

13をたす

② 14 のだん

かける数

		1	2	3	4	5	6	7	8	9
かけられる数	14	14	28	42	56	70	84	98	112	126

14をたす

③ 15 のだん

かける数

		1	2	3	4	5	6	7	8	9
かけられる数	15	15	30	45	60	75	90	105	120	135

15をたす

④ 16 のだん

かける数

		1	2	3	4	5	6	7	8	9
かけられる数	16	16	32	48	64	80	96	112	128	144

16をたす