教材おきば の

これだけ、安心

算数ドリル

3－11

Light

小学３年生

もくじ

①	＞, ＜, ＝を つかったしき	１ページ
②	長さの大小 mm, cm, m	１ページ
③	１万までの数の大小	１ページ
④	図をつかって考えよう(3) ちがいをみて	１ページ
⑤	長さのひき算	１ページ
⑥	(3けた)－(3けた)の暗算	１ページ
⑦	あまりのあるわり算	１ページ
⑧	まとまりを考えて	１ページ
⑨	１つ１つのちがいを考えて	１ページ
⑩	数直線と分数	１ページ
⑪	二等辺三角形と正三角形	１ページ
⑫	小数 センチメートルとミリメートルのたんいがえ	２ページ
⑬	小数 リットルとデシリットルのたんいがえ	１ページ
	合計	１４ページ

© 2022 kyozai-okiba.com

>, <, =を つかった しき

年　組　名前

/ 24

■ つぎの □ に >, <, = を うめましょう。

①	50 + 90	□	140
②	20 + 30	□	50
③	110 − 80	□	40
④	60 + 30	□	80
⑤	100 − 80	□	20
⑥	150 − 80	□	80
⑦	70 − 30	□	30
⑧	80 + 40	□	110
⑨	40 + 60	□	110
⑩	20 + 40	□	50
⑪	60 + 70	□	140
⑫	100 − 70	□	20
⑬	80 − 50	□	20
⑭	80 + 50	□	140
⑮	120 − 50	□	70
⑯	90 + 70	□	160
⑰	60 + 90	□	160
⑱	90 − 20	□	70
⑲	170 − 80	□	100
⑳	50 + 20	□	60
㉑	70 + 40	□	110
㉒	140 − 60	□	80
㉓	120 − 90	□	20
㉔	80 − 60	□	30

長さ の 大小

年　組　名前

/30

■ 次の2つの 長さ の大小を等号(=)や不等号(>, <)を使って表しましょう。

(1)	4000mm		200cm
(2)	1000mm		500cm
(3)	900mm		9m
(4)	8m		700cm
(5)	8cm		8m
(6)	6m		4cm
(7)	2m		200cm
(8)	6m		1000mm
(9)	500mm		90cm
(10)	6m		500cm
(11)	6m		600cm
(12)	90mm		30cm
(13)	550mm		5m 80cm
(14)	30mm		3cm
(15)	840mm		6m 30cm
(16)	6cm		6mm
(17)	9m		4000mm
(18)	5cm		5m
(19)	30cm		2000mm
(20)	92mm		3cm 6mm
(21)	6000mm		700cm
(22)	3m		400cm
(23)	3m		300mm
(24)	2m		7cm
(25)	94mm		5cm 7mm
(26)	100mm		1m
(27)	930mm		7m 80cm
(28)	17mm		5cm 1mm
(29)	9cm		90mm
(30)	2cm		2mm

一万までの数の大小

年　組　名前

/28

■ 次の数の大小を、不等号(>, <)を使って答えましょう。

①	3800		9700
②	6139		9588
③	8264		8261
④	8027		4609
⑤	6515		6505
⑥	7285		2857
⑦	4100		5600
⑧	1423		1433
⑨	2253		3914
⑩	7263		2736
⑪	10000		9999
⑫	6425		6505
⑬	2000		1000
⑭	337		3377
⑮	3622		4622
⑯	8000		6000
⑰	1338		1339
⑱	7592		5729
⑲	9461		9471
⑳	9059		8959
㉑	998		4490
㉒	2265		774
㉓	9688		9609
㉔	4060		4061
㉕	655		5111
㉖	1201		1904
㉗	9600		9500
㉘	1000		999

図を つかって 考えよう

年　組　名前

/ 3

■ 図を見て考えましょう。

① 赤組 と 白組で とく点を きそって います。
赤組は、白組より 5点 多いそうです。
赤組は 21点 です。白組 は何点ですか。

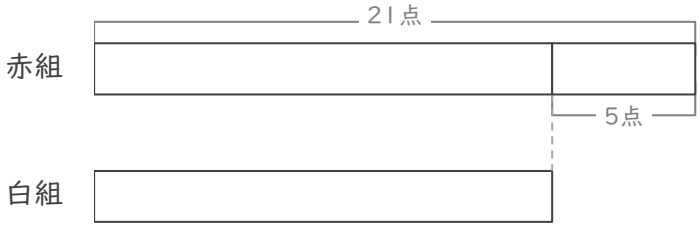

(式)

点

② りんご と みかん を買います。
りんごは、みかんより 52円 高いそうです。
りんごは 156円 です。みかん は何円ですか。



(式)

円

③ 黄色のリボン と 緑色のリボン があります。
黄色のリボンは、緑色のリボンより 24cm 長いそうです。
黄色のリボンは 72cm です。緑色のリボン は何cmですか。

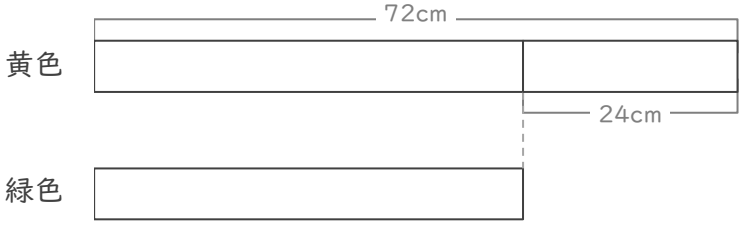

(式)

cm

長さのひき算

年　組　名前

/10

■ 次の長さのひき算をしましょう。

① 8km 600m − 3km 500m ＝

② 7km 300m − 3km 800m ＝

③ 7km 400m − 1km 600m ＝

④ 2km 500m − 1km 700m ＝

⑤ 9km − 4km 200m ＝

⑥ 4km 400m − 700m ＝

⑦ 7km − 700m ＝

⑧ 8km − 6km 800m ＝

⑨ 6km 600m − 4km 400m ＝

⑩ 4km 500m − 2km 900m ＝

ひき算の暗算

年　組　名前

/26

■ 次のひき算をしましょう。

① 798 − 563 =

② 619 − 537 =

③ 844 − 638 =

④ 541 − 250 =

⑤ 723 − 714 =

⑥ 385 − 246 =

⑦ 565 − 209 =

⑧ 978 − 858 =

⑨ 929 − 181 =

⑩ 888 − 687 =

⑪ 897 − 118 =

⑫ 867 − 289 =

⑬ 894 − 738 =

⑭ 944 − 137 =

⑮ 922 − 163 =

⑯ 368 − 236 =

⑰ 444 − 278 =

⑱ 255 − 202 =

⑲ 922 − 119 =

⑳ 845 − 473 =

㉑ 921 − 383 =

㉒ 550 − 549 =

㉓ 431 − 338 =

㉔ 961 − 207 =

㉕ 294 − 254 =

㉖ 785 − 249 =

あまりのあるわり算

年　組　名前

/26

■ つぎのわり算をしましょう。

① 35 ÷ 8 = □ あまり □

② 34 ÷ 4 = □ あまり □

③ 19 ÷ 3 = □ あまり □

④ 49 ÷ 6 = □ あまり □

⑤ 33 ÷ 5 = □ あまり □

⑥ 9 ÷ 4 = □ あまり □

⑦ 79 ÷ 8 = □ あまり □

⑧ 14 ÷ 3 = □ あまり □

⑨ 31 ÷ 7 = □ あまり □

⑩ 25 ÷ 8 = □ あまり □

⑪ 76 ÷ 9 = □ あまり □

⑫ 27 ÷ 5 = □ あまり □

⑬ 19 ÷ 2 = □ あまり □

⑭ 57 ÷ 8 = □ あまり □

⑮ 66 ÷ 7 = □ あまり □

⑯ 25 ÷ 3 = □ あまり □

⑰ 40 ÷ 9 = □ あまり □

⑱ 27 ÷ 6 = □ あまり □

⑲ 5 ÷ 2 = □ あまり □

⑳ 44 ÷ 5 = □ あまり □

㉑ 44 ÷ 6 = □ あまり □

㉒ 38 ÷ 5 = □ あまり □

㉓ 3 ÷ 2 = □ あまり □

㉔ 23 ÷ 3 = □ あまり □

㉕ 38 ÷ 7 = □ あまり □

㉖ 8 ÷ 3 = □ あまり □

まとまりを考えて

年　組　名前

/ 8

■ 1本 34円 のソーダを5本 と、1まい 36円 のクッキーを 5まい 買いました。

① ソーダ 1本 と、クッキー 1まい を1組にすると、1組いくらですか。

（式）

円

② 代金はいくらですか。

（式）

円

■ 1本 56円 のお茶を4本 と、1こ 34円 のまんじゅうを 4こ 買いました。

③ お茶 1本 と、まんじゅう 1こ を1組にすると、1組いくらですか。

（式）

円

④ 代金はいくらですか。

（式）

円

■ 1本 68円 のやさいジュースを7本 と、1こ 32円 のみかんを 7こ 買いました。

⑤ やさいジュース 1本 と、みかん 1こ を1組にすると、1組いくらですか。

（式）

円

⑥ 代金はいくらですか。

（式）

円

■ 1本 33円 のぶどうジュースを6本 と、1本 47円 のだんごを 6本 買いました。

⑦ ぶどうジュース 1本 と、だんご 1本 を1組にすると、1組いくらですか。

（式）

円

⑧ 代金はいくらですか。

（式）

円

1つ1つのちがいを考えて

年　組　名前

/ 8

■ 高さ6cm と、高さ8cm の 2しゅるいの つみ木を、それぞれ9こずつ つみました。

① 2しゅるいの つみ木の、1この高さのちがいは何cmですか。

（式）

cm

② 8cm のつみ木をつんだものは、6cm のつみ木をつんだものより何cm高いですか。

（式）

cm

■ 高さ7cm と、高さ11cm の 2しゅるいの つみ木を、それぞれ4こずつ つみました。

③ 2しゅるいの つみ木の、1この高さのちがいは何cmですか。

（式）

cm

④ 11cm のつみ木をつんだものは、7cm のつみ木をつんだものより何cm高いですか。

（式）

cm

■ 高さ11cm と、高さ17cm の 2しゅるいの ブロックを、それぞれ5こずつ つみました。

⑤ 2しゅるいの ブロックの、1この高さのちがいは何cmですか。

（式）

cm

⑥ 17cm のブロックをつんだものは、11cm のブロックをつんだものより何cm高いですか。

（式）

cm

■ 高さ16cm と、高さ23cm の 2しゅるいの ブロックを、それぞれ8こずつ つみました。

⑦ 2しゅるいの ブロックの、1この高さのちがいは何cmですか。

（式）

cm

⑧ 23cm のブロックをつんだものは、16cm のブロックをつんだものより何cm高いですか。

（式）

cm

数直線と分数

年　　組　名前

/ 5

■ 次の分数を数直線の上に表してみましょう。

① $\frac{4}{5}$

② $\frac{5}{8}$

③ $\frac{5}{9}$

④ $\frac{1}{12}$

⑤ $\frac{6}{13}$

二等辺三角形 と 正三角形

年　　組　名前

/ 2

■ コンパスをつかって、二等辺三角形と正三角形をすべて見つけましょう。



二等辺三角形

正三角形

センチメートル と ミリメートル

年　組　名前

/ 18

■ 次の長さは 何cm ですか。

① 7cm 2mm

② 9cm 8mm

③ 2cm 9mm

④ 6cm 9mm

⑤ 8cm 9mm

⑥ 1cm 9mm

⑦ 3cm 3mm

⑧ 4cm 1mm

⑨ 5cm 7mm

⑩ 8mm

■ 次の長さは 何cm 何mm ですか。

① 6.4cm

② 2.5cm

③ 1.2cm

④ 4.8cm

⑤ 3.8cm

⑥ 7.8cm

⑦ 5.2cm

⑧ 9.2cm

センチメートル と ミリメートル

年　組　名前

/ 18

■ 次の長さは 何cm ですか。

① 8mm

② 7cm 1mm

③ 2cm 4mm

④ 6cm 2mm

⑤ 9cm 7mm

⑥ 5cm 8mm

⑦ 1cm 8mm

⑧ 8cm 9mm

⑨ 3cm 6mm

⑩ 4cm 9mm

■ 次の長さは 何cm 何mm ですか。

① 5.3cm

② 4.2cm

③ 6.8cm

④ 9.5cm

⑤ 7.6cm

⑥ 2.7cm

⑦ 3.1cm

⑧ 1.5cm

リットル と デシリットル

年　組　名前

/ 18

■ 次の かさ は 何L ですか。

① 2L 6dL

② 4L 7dL

③ 6dL

④ 9L 2dL

⑤ 7L 2dL

⑥ 5L 4dL

⑦ 1L 3dL

⑧ 8L 2dL

⑨ 3L 9dL

⑩ 6L 7dL

■ 次の かさ は 何L 何dL ですか。

① 5.6L

② 6.4L

③ 1.8L

④ 3.2L

⑤ 9.8L

⑥ 4.2L

⑦ 7.8L

⑧ 8.9L

>, <, =を つかった しき

年　組　名前

/ 24

■ つぎの □ に >, <, = を うめましょう。

①	50 + 90	=	140	⑬	80 − 50	>	20
②	20 + 30	=	50	⑭	80 + 50	<	140
③	110 − 80	<	40	⑮	120 − 50	=	70
④	60 + 30	>	80	⑯	90 + 70	=	160
⑤	100 − 80	=	20	⑰	60 + 90	<	160
⑥	150 − 80	<	80	⑱	90 − 20	=	70
⑦	70 − 30	>	30	⑲	170 − 80	<	100
⑧	80 + 40	>	110	⑳	50 + 20	>	60
⑨	40 + 60	<	110	㉑	70 + 40	=	110
⑩	20 + 40	>	50	㉒	140 − 60	=	80
⑪	60 + 70	<	140	㉓	120 − 90	>	20
⑫	100 − 70	>	20	㉔	80 − 60	<	30

長さ の 大小

年　組　名前

/30

■ 次の2つの 長さ の大小を等号(=)や不等号(>, <)を使って表しましょう。

(1)	4000mm	>	200cm
(2)	1000mm	<	500cm
(3)	900mm	<	9m
(4)	8m	>	700cm
(5)	8cm	<	8m
(6)	6m	>	4cm
(7)	2m	=	200cm
(8)	6m	>	1000mm
(9)	500mm	<	90cm
(10)	6m	>	500cm
(11)	6m	=	600cm
(12)	90mm	<	30cm
(13)	550mm	<	5m 80cm
(14)	30mm	=	3cm
(15)	840mm	>	6m 30cm
(16)	6cm	>	6mm
(17)	9m	>	4000mm
(18)	5cm	<	5m
(19)	30cm	<	2000mm
(20)	92mm	>	3cm 6mm
(21)	6000mm	<	700cm
(22)	3m	<	400cm
(23)	3m	>	300mm
(24)	2m	>	7cm
(25)	94mm	>	5cm 7mm
(26)	100mm	<	1m
(27)	930mm	>	7m 80cm
(28)	17mm	<	5cm 1mm
(29)	9cm	=	90mm
(30)	2cm	>	2mm

一万までの数の大小

年　組　名前

/28

■ 次の数の大小を、不等号(>, <)を使って答えましょう。

①	3800	<	9700
②	6139	<	9588
③	8264	>	8261
④	8027	>	4609
⑤	6515	>	6505
⑥	7285	>	2857
⑦	4100	<	5600
⑧	1423	<	1433
⑨	2253	<	3914
⑩	7263	>	2736
⑪	10000	>	9999
⑫	6425	<	6505
⑬	2000	>	1000
⑭	337	<	3377
⑮	3622	<	4622
⑯	8000	>	6000
⑰	1338	<	1339
⑱	7592	>	5729
⑲	9461	<	9471
⑳	9059	>	8959
㉑	998	<	4490
㉒	2265	>	774
㉓	9688	>	9609
㉔	4060	<	4061
㉕	655	<	5111
㉖	1201	<	1904
㉗	9600	>	9500
㉘	1000	>	999

図を つかって 考えよう

年　組　名前

/ 3

■ 図を見て考えましょう。

① 赤組 と 白組で とく点を きそって います。
赤組は、白組より 5点 多いそうです。
赤組は 21点 です。白組 は何点ですか。

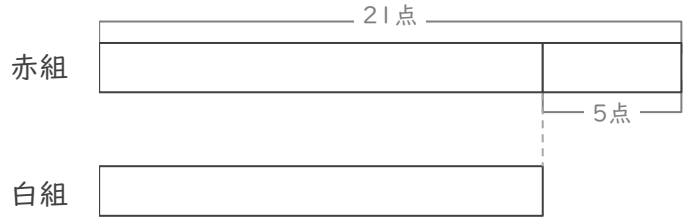

(式)

21 − 5 = 16

16 点

② りんご と みかん を買います。
りんごは、みかんより 52円 高いそうです。
りんごは 156円 です。みかん は何円ですか。

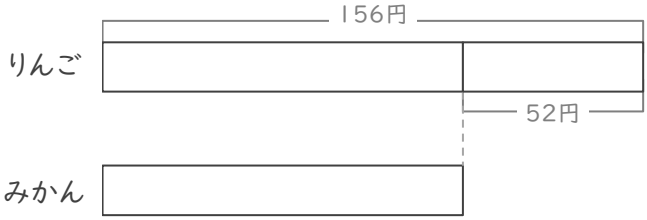

(式)

156 − 52 = 104

104 円

③ 黄色のリボン と 緑色のリボン があります。
黄色のリボンは、緑色のリボンより 24cm 長いそうです。
黄色のリボンは 72cm です。緑色のリボン は何cmですか。

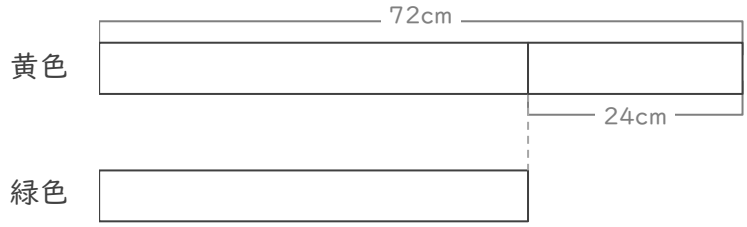

(式)

72 − 24 = 48

48 cm

長さのひき算

年　組　名前

/10

■ 次の長さのひき算をしましょう。

①	8km 600m	−	3km 500m	=	5km 100m
②	7km 300m	−	3km 800m	=	3km 500m
③	7km 400m	−	1km 600m	=	5km 800m
④	2km 500m	−	1km 700m	=	800m
⑤	9km	−	4km 200m	=	4km 800m
⑥	4km 400m	−	700m	=	3km 700m
⑦	7km	−	700m	=	6km 300m
⑧	8km	−	6km 800m	=	1km 200m
⑨	6km 600m	−	4km 400m	=	2km 200m
⑩	4km 500m	−	2km 900m	=	1km 600m

ひき算の暗算

年　組　名前

/26

■ 次のひき算をしましょう。

① 798 − 563 = 235

② 619 − 537 = 82

③ 844 − 638 = 206

④ 541 − 250 = 291

⑤ 723 − 714 = 9

⑥ 385 − 246 = 139

⑦ 565 − 209 = 356

⑧ 978 − 858 = 120

⑨ 929 − 181 = 748

⑩ 888 − 687 = 201

⑪ 897 − 118 = 779

⑫ 867 − 289 = 578

⑬ 894 − 738 = 156

⑭ 944 − 137 = 807

⑮ 922 − 163 = 759

⑯ 368 − 236 = 132

⑰ 444 − 278 = 166

⑱ 255 − 202 = 53

⑲ 922 − 119 = 803

⑳ 845 − 473 = 372

㉑ 921 − 383 = 538

㉒ 550 − 549 = 1

㉓ 431 − 338 = 93

㉔ 961 − 207 = 754

㉕ 294 − 254 = 40

㉖ 785 − 249 = 536

あまりのあるわり算

年　組　名前

/26

■ つぎのわり算をしましょう。

① 35 ÷ 8 = 4 あまり 3

② 34 ÷ 4 = 8 あまり 2

③ 19 ÷ 3 = 6 あまり 1

④ 49 ÷ 6 = 8 あまり 1

⑤ 33 ÷ 5 = 6 あまり 3

⑥ 9 ÷ 4 = 2 あまり 1

⑦ 79 ÷ 8 = 9 あまり 7

⑧ 14 ÷ 3 = 4 あまり 2

⑨ 31 ÷ 7 = 4 あまり 3

⑩ 25 ÷ 8 = 3 あまり 1

⑪ 76 ÷ 9 = 8 あまり 4

⑫ 27 ÷ 5 = 5 あまり 2

⑬ 19 ÷ 2 = 9 あまり 1

⑭ 57 ÷ 8 = 7 あまり 1

⑮ 66 ÷ 7 = 9 あまり 3

⑯ 25 ÷ 3 = 8 あまり 1

⑰ 40 ÷ 9 = 4 あまり 4

⑱ 27 ÷ 6 = 4 あまり 3

⑲ 5 ÷ 2 = 2 あまり 1

⑳ 44 ÷ 5 = 8 あまり 4

㉑ 44 ÷ 6 = 7 あまり 2

㉒ 38 ÷ 5 = 7 あまり 3

㉓ 3 ÷ 2 = 1 あまり 1

㉔ 23 ÷ 3 = 7 あまり 2

㉕ 38 ÷ 7 = 5 あまり 3

㉖ 8 ÷ 3 = 2 あまり 2

まとまりを考えて

年　組　名前

/ 8

■ 1本 34円 のソーダを5本 と、1まい 36円 のクッキーを 5まい 買いました。

① ソーダ 1本 と、クッキー 1まい を1組にすると、1組いくらですか。

（式）

34 + 36 = 70

70 円

② 代金はいくらですか。

（式）

70 × 5 = 350

350 円

■ 1本 56円 のお茶を4本 と、1こ 34円 のまんじゅうを 4こ 買いました。

③ お茶 1本 と、まんじゅう 1こ を1組にすると、1組いくらですか。

（式）

56 + 34 = 90

90 円

④ 代金はいくらですか。

（式）

90 × 4 = 360

360 円

■ 1本 68円 のやさいジュースを7本 と、1こ 32円 のみかんを 7こ 買いました。

⑤ やさいジュース 1本 と、みかん 1こ を1組にすると、1組いくらですか。

（式）

68 + 32 = 100

100 円

⑥ 代金はいくらですか。

（式）

100 × 7 = 700

700 円

■ 1本 33円 のぶどうジュースを6本 と、1本 47円 のだんごを 6本 買いました。

⑦ ぶどうジュース 1本 と、だんご 1本 を1組にすると、1組いくらですか。

（式）

33 + 47 = 80

80 円

⑧ 代金はいくらですか。

（式）

80 × 6 = 480

480 円

1つ1つのちがいを考えて

年　組　名前

/ 8

■ 高さ6cm と、高さ8cm の 2しゅるいの つみ木を、それぞれ9こずつ つみました。

① 2しゅるいの つみ木の、1この高さのちがいは何cmですか。

（式）

8 − 6 = 2

2 cm

② 8cm のつみ木をつんだものは、6cm のつみ木をつんだものより何cm高いですか。

（式）

2 × 9 = 18

18 cm

■ 高さ7cm と、高さ11cm の 2しゅるいの つみ木を、それぞれ4こずつ つみました。

③ 2しゅるいの つみ木の、1この高さのちがいは何cmですか。

（式）

11 − 7 = 4

4 cm

④ 11cm のつみ木をつんだものは、7cm のつみ木をつんだものより何cm高いですか。

（式）

4 × 4 = 16

16 cm

■ 高さ11cm と、高さ17cm の 2しゅるいの ブロックを、それぞれ5こずつ つみました。

⑤ 2しゅるいの ブロックの、1この高さのちがいは何cmですか。

（式）

17 − 11 = 6

6 cm

⑥ 17cm のブロックをつんだものは、11cm のブロックをつんだものより何cm高いですか。

（式）

6 × 5 = 30

30 cm

■ 高さ16cm と、高さ23cm の 2しゅるいの ブロックを、それぞれ8こずつ つみました。

⑦ 2しゅるいの ブロックの、1この高さのちがいは何cmですか。

（式）

23 − 16 = 7

7 cm

⑧ 23cm のブロックをつんだものは、16cm のブロックをつんだものより何cm高いですか。

（式）

7 × 8 = 56

56 cm

数直線と分数

年　　組　名前

/ 5

■ 次の分数を数直線の上に表してみましょう。

① $\frac{4}{5}$

② $\frac{5}{8}$

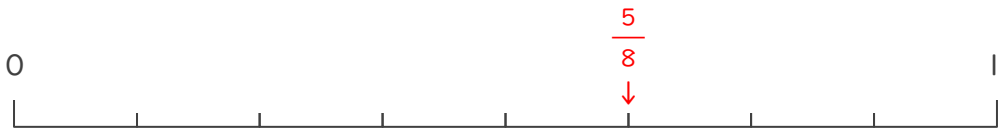

③ $\frac{5}{9}$

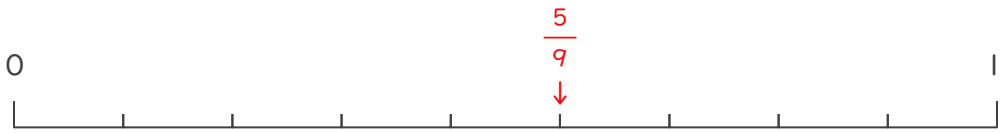

④ $\frac{1}{12}$

⑤ $\frac{6}{13}$

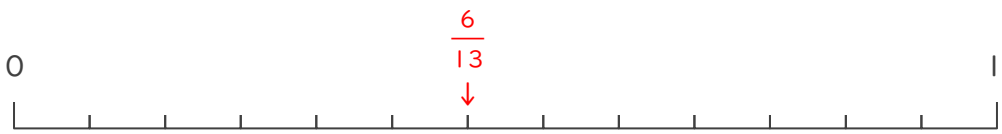

二等辺三角形 と 正三角形

年　　組　名前

/ 2

■ コンパスをつかって、二等辺三角形と正三角形をすべて見つけましょう。



二等辺三角形　あ ， え

正三角形　い ， う

センチメートル と ミリメートル

年　組　名前

/ 18

■ 次の長さは 何cm ですか。

① 7cm 2mm

7.2cm

② 9cm 8mm

9.8cm

③ 2cm 9mm

2.9cm

④ 6cm 9mm

6.9cm

⑤ 8cm 9mm

8.9cm

⑥ 1cm 9mm

1.9cm

⑦ 3cm 3mm

3.3cm

⑧ 4cm 1mm

4.1cm

⑨ 5cm 7mm

5.7cm

⑩ 8mm

0.8cm

■ 次の長さは 何cm 何mm ですか。

① 6.4cm

6cm 4mm

② 2.5cm

2cm 5mm

③ 1.2cm

1cm 2mm

④ 4.8cm

4cm 8mm

⑤ 3.8cm

3cm 8mm

⑥ 7.8cm

7cm 8mm

⑦ 5.2cm

5cm 2mm

⑧ 9.2cm

9cm 2mm

センチメートル と ミリメートル

年　組　名前

/ 18

■ 次の長さは 何cm ですか。

① 8mm

0.8cm

② 7cm 1mm

7.1cm

③ 2cm 4mm

2.4cm

④ 6cm 2mm

6.2cm

⑤ 9cm 7mm

9.7cm

⑥ 5cm 8mm

5.8cm

⑦ 1cm 8mm

1.8cm

⑧ 8cm 9mm

8.9cm

⑨ 3cm 6mm

3.6cm

⑩ 4cm 9mm

4.9cm

■ 次の長さは 何cm 何mm ですか。

① 5.3cm

5cm 3mm

② 4.2cm

4cm 2mm

③ 6.8cm

6cm 8mm

④ 9.5cm

9cm 5mm

⑤ 7.6cm

7cm 6mm

⑥ 2.7cm

2cm 7mm

⑦ 3.1cm

3cm 1mm

⑧ 1.5cm

1cm 5mm

リットル と デシリットル

年　組　名前

/ 18

■ 次の かさ は 何L ですか。

① 2L 6dL

2.6L

② 4L 7dL

4.7L

③ 6dL

0.6L

④ 9L 2dL

9.2L

⑤ 7L 2dL

7.2L

⑥ 5L 4dL

5.4L

⑦ 1L 3dL

1.3L

⑧ 8L 2dL

8.2L

⑨ 3L 9dL

3.9L

⑩ 6L 7dL

6.7L

■ 次の かさ は 何L 何dL ですか。

① 5.6L

5L 6dL

② 6.4L

6L 4dL

③ 1.8L

1L 8dL

④ 3.2L

3L 2dL

⑤ 9.8L

9L 8dL

⑥ 4.2L

4L 2dL

⑦ 7.8L

7L 8dL

⑧ 8.9L

8L 9dL