教材おきば の

これだけ、安心

算数ドリル

4－03

小学４年生

もくじ

①	あまりを考えて	２ページ
②	(3けた)×(1けた)の暗算	３ページ
③	分数 円をつかって	２ページ
④	折れ線グラフをかく	２ページ
⑤	商が２けたになるわり算の暗算	３ページ
⑥	(４けた)÷(２けた)のひっ算 あまりあり	２ページ
⑦	割合 まとめ	３ページ
⑧	かけ算のくふう 25×4=100を使って	２ページ
⑨	かけ算のくふう 100＋〇、100－〇を使って	２ページ
⑩	□を使った式	３ページ
⑪	長方形や正方形の面積を求める	１ページ
⑫	面積の求め方のくふう	１ページ
⑬	大きな面積を求める	３ページ
	合計	２９ページ

© 2022 kyozai-okiba.com

あまりを考えて

年　組　名前

/ 7

① はばが33cmの本立てに、あつさ6cmの本を立てていきます。
本は何さつ立てられますか。

（式）

② もも70こを、1はこに9こずつ入れて売ります。
はこは何はこできますか。

（式）

③ 23人の子どもが、長いす1きゃくに4人ずつすわっていきます。
みんなすわるには、長いすが何きゃくいりますか。

（式）

④ 26人の子どもが、長いす1きゃくに4人ずつすわっていきます。
みんなすわるには、長いすが何きゃくいりますか。

（式）

⑤ 58ページの本があります。
1日に7ページずつよむと、何日で全部よめますか。

（式）

⑥ はばが34cmの本立てに、あつさ4cmの本を立てていきます。
本は何さつ立てられますか。

（式）

⑦ なし43こを、1はこに7こずつ入れて売ります。
はこは何はこできますか。

（式）

あまりを考えて

年　　組　名前

/ 7

① 49ページの本があります。

1日に9ページずつよむと、何日で全部よめますか。

（式）

② 34人の子どもが、長いす1きゃくに5人ずつすわっていきます。

みんなすわるには、長いすが何きゃくいりますか。

（式）

③ もも48こを、1はこに7こずつ入れて売ります。

はこは何はこできますか。

（式）

④ 53ページの本があります。

1日に7ページずつよむと、何日で全部よめますか。

（式）

⑤ はばが42cmの本立てに、あつさ5cmの本を立てていきます。

本は何さつ立てられますか。

（式）

⑥ なし66こを、1はこに8こずつ入れて売ります。

はこは何はこできますか。

（式）

⑦ 26人の子どもが、長いす1きゃくに3人ずつすわっていきます。

みんなすわるには、長いすが何きゃくいりますか。

（式）

かけ算の暗算

年　組　名前

/26

■ つぎのかけ算をしましょう。

① 966 × 6 = □

② 679 × 8 = □

③ 829 × 5 = □

④ 538 × 2 = □

⑤ 325 × 4 = □

⑥ 313 × 3 = □

⑦ 181 × 3 = □

⑧ 545 × 2 = □

⑨ 239 × 4 = □

⑩ 777 × 5 = □

⑪ 824 × 7 = □

⑫ 155 × 8 = □

⑬ 952 × 3 = □

⑭ 886 × 4 = □

⑮ 476 × 8 = □

⑯ 792 × 4 = □

⑰ 637 × 8 = □

⑱ 416 × 3 = □

⑲ 245 × 8 = □

⑳ 953 × 6 = □

㉑ 545 × 5 = □

㉒ 214 × 8 = □

㉓ 436 × 2 = □

㉔ 741 × 6 = □

㉕ 672 × 3 = □

㉖ 367 × 3 = □

かけ算の暗算

年　組　名前

/26

■ つぎのかけ算をしましょう。

① 634 × 5 = □

② 767 × 4 = □

③ 598 × 7 = □

④ 874 × 8 = □

⑤ 199 × 3 = □

⑥ 558 × 6 = □

⑦ 392 × 5 = □

⑧ 371 × 7 = □

⑨ 214 × 9 = □

⑩ 148 × 4 = □

⑪ 641 × 4 = □

⑫ 972 × 7 = □

⑬ 455 × 2 = □

⑭ 134 × 2 = □

⑮ 963 × 2 = □

⑯ 985 × 7 = □

⑰ 237 × 5 = □

⑱ 447 × 3 = □

⑲ 428 × 6 = □

⑳ 721 × 9 = □

㉑ 353 × 3 = □

㉒ 272 × 6 = □

㉓ 599 × 7 = □

㉔ 638 × 2 = □

㉕ 878 × 5 = □

㉖ 826 × 7 = □

かけ算の暗算

年　組　名前

/26

■ つぎのかけ算をしましょう。

① 575 × 8 = □

② 143 × 6 = □

③ 198 × 5 = □

④ 921 × 7 = □

⑤ 578 × 3 = □

⑥ 923 × 6 = □

⑦ 353 × 8 = □

⑧ 845 × 2 = □

⑨ 686 × 7 = □

⑩ 729 × 9 = □

⑪ 619 × 2 = □

⑫ 392 × 3 = □

⑬ 962 × 7 = □

⑭ 719 × 6 = □

⑮ 262 × 6 = □

⑯ 822 × 4 = □

⑰ 866 × 7 = □

⑱ 343 × 7 = □

⑲ 221 × 4 = □

⑳ 762 × 2 = □

㉑ 471 × 8 = □

㉒ 589 × 7 = □

㉓ 284 × 6 = □

㉔ 476 × 7 = □

㉕ 492 × 7 = □

㉖ 677 × 8 = □

分数

年　組　名前

/ 8

■ 色がついた部分は、円全体の 何分の何 の大きさですか。

①

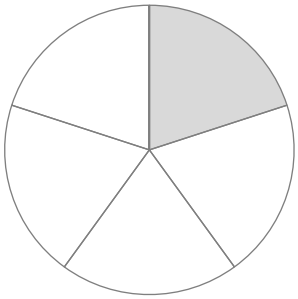

②

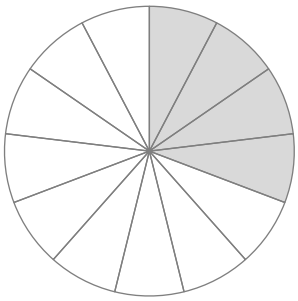

③

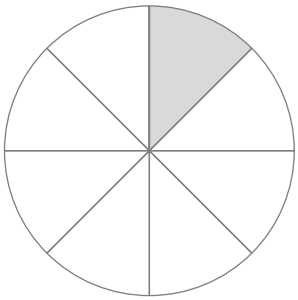

④

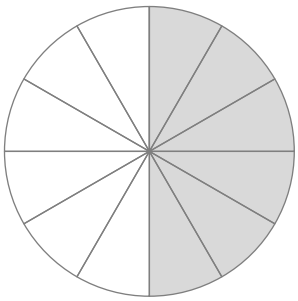

⑤

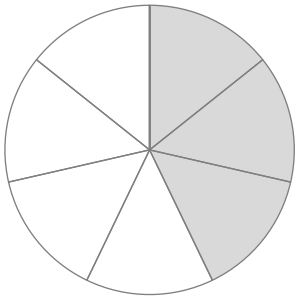

⑥

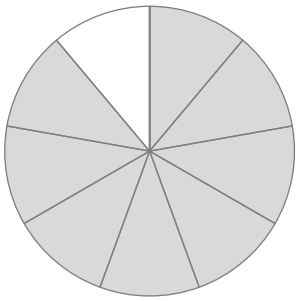

⑦

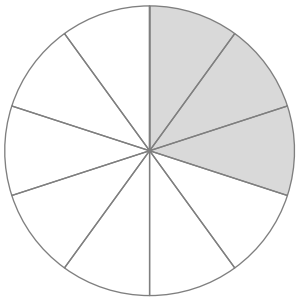

⑧

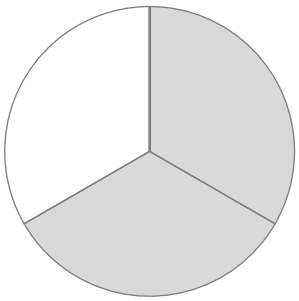

分数

年　組　名前

/ 8

■ 色がついた部分は、円全体の 何分の何 の大きさですか。

①

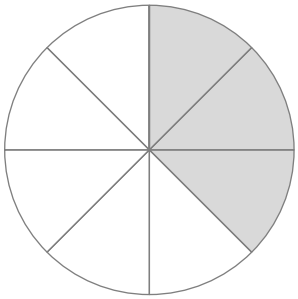

②

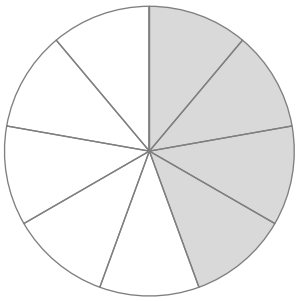

③

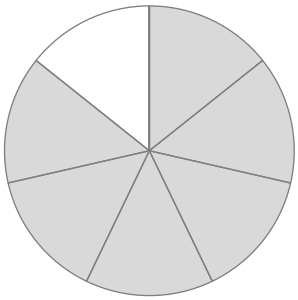

④

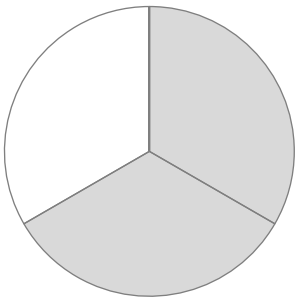

⑤

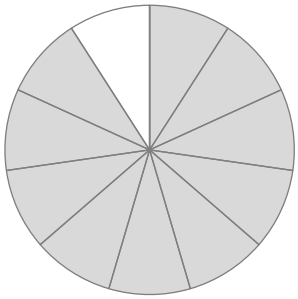

⑥

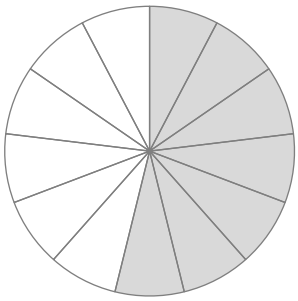

⑦

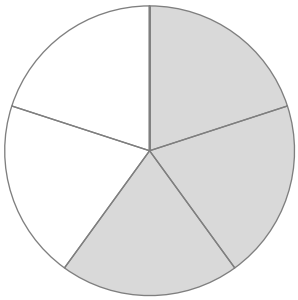

⑧

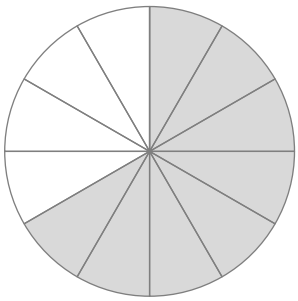

折れ線グラフ

年　　組　名前

/14

■ 次の表は、10月2日 から 15日 までの最高気温をまとめたものです。

表を見て、最高気温の変わり方を折れ線グラフに表しましょう。

日にち	2日	3日	4日	5日	6日	7日	8日
最高気温(度)	13	15	12	17	20	13	19

日にち	9日	10日	11日	12日	13日	14日	15日
最高気温(度)	10	16	18	14	12	12	15

10月2日～15日の最高気温

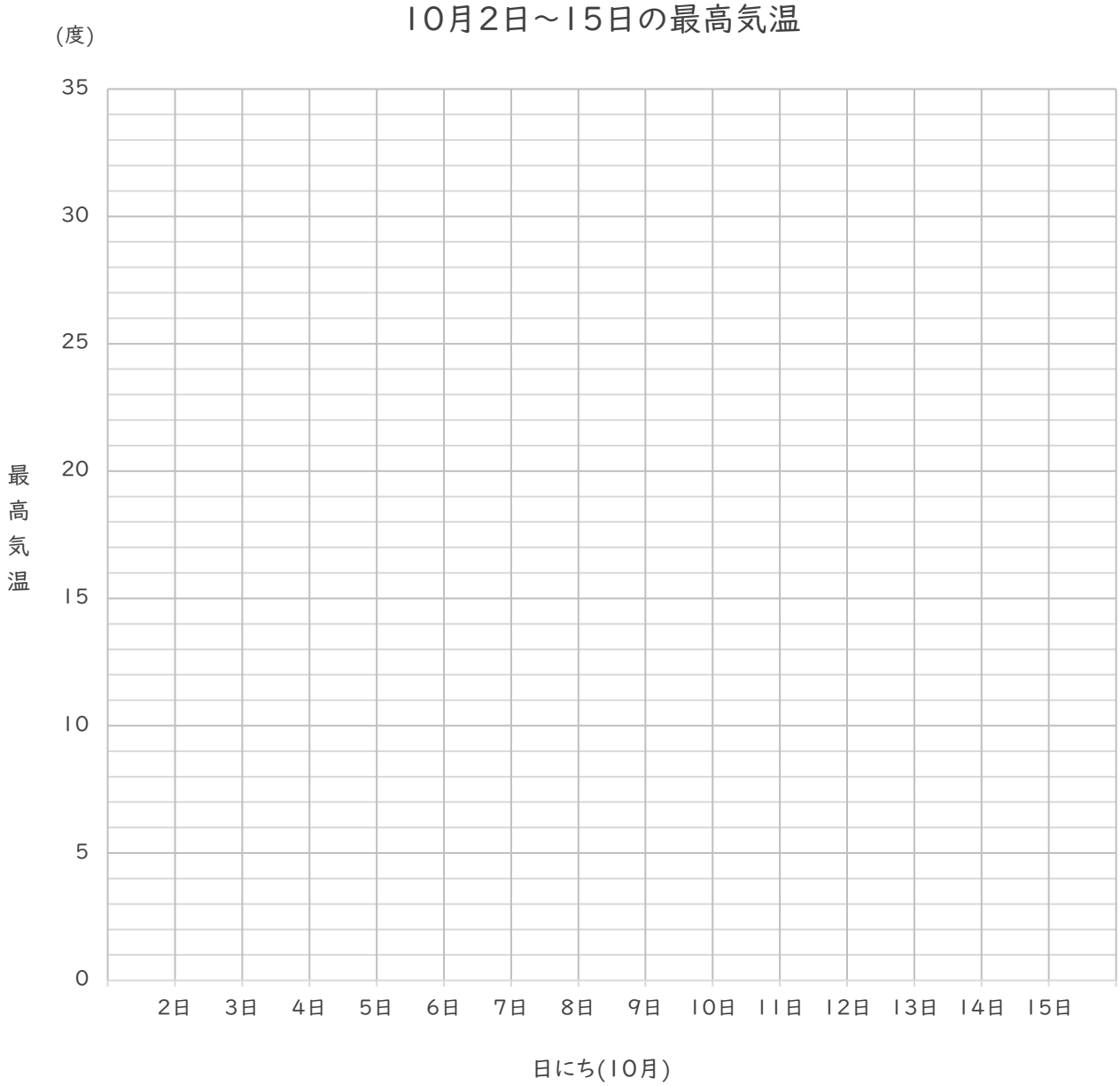

折れ線グラフ

年　　組　名前

/14

■ 次の表は、9月12日 から 25日 までの最高気温をまとめたものです。

表を見て、最高気温の変わり方を折れ線グラフに表しましょう。

日にち	12日	13日	14日	15日	16日	17日	18日
最高気温(度)	28	26	26	24	21	27	23

日にち	19日	20日	21日	22日	23日	24日	25日
最高気温(度)	28	28	19	29	22	20	24

9月12日～25日の最高気温

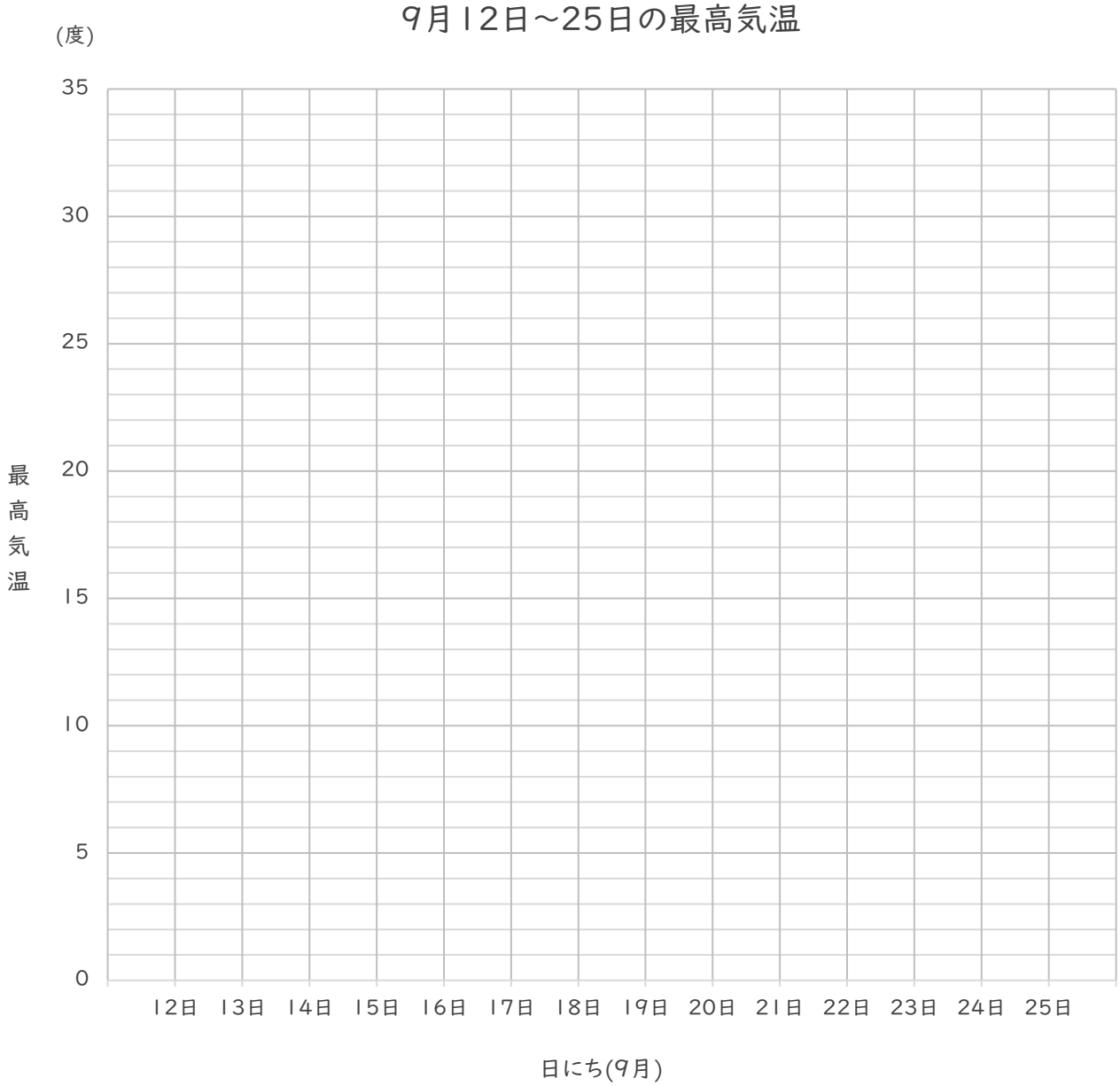

商が2けたになるわり算の暗算

年　組　名前

/24

■ 次のわり算をしましょう。

① 712 ÷ 8 =

② 114 ÷ 2 =

③ 310 ÷ 5 =

④ 190 ÷ 5 =

⑤ 414 ÷ 6 =

⑥ 539 ÷ 7 =

⑦ 220 ÷ 4 =

⑧ 176 ÷ 8 =

⑨ 387 ÷ 9 =

⑩ 249 ÷ 3 =

⑪ 380 ÷ 5 =

⑫ 46 ÷ 2 =

⑬ 702 ÷ 9 =

⑭ 238 ÷ 7 =

⑮ 150 ÷ 6 =

⑯ 78 ÷ 3 =

⑰ 544 ÷ 8 =

⑱ 570 ÷ 6 =

⑲ 76 ÷ 4 =

⑳ 162 ÷ 3 =

㉑ 148 ÷ 2 =

㉒ 328 ÷ 4 =

㉓ 243 ÷ 9 =

㉔ 462 ÷ 7 =

商が2けたになるわり算の暗算

年　組　名前

/24

■ 次のわり算をしましょう。

① 126 ÷ 2 =

② 315 ÷ 9 =

③ 456 ÷ 8 =

④ 130 ÷ 5 =

⑤ 74 ÷ 2 =

⑥ 194 ÷ 2 =

⑦ 39 ÷ 3 =

⑧ 72 ÷ 6 =

⑨ 266 ÷ 7 =

⑩ 192 ÷ 8 =

⑪ 255 ÷ 3 =

⑫ 648 ÷ 9 =

⑬ 186 ÷ 3 =

⑭ 280 ÷ 5 =

⑮ 220 ÷ 4 =

⑯ 116 ÷ 4 =

⑰ 448 ÷ 7 =

⑱ 594 ÷ 6 =

⑲ 612 ÷ 9 =

⑳ 294 ÷ 6 =

㉑ 664 ÷ 8 =

㉒ 380 ÷ 5 =

㉓ 518 ÷ 7 =

㉔ 352 ÷ 4 =

商が2けたになるわり算の暗算

年　組　名前

/24

■ 次のわり算をしましょう。

① 182 ÷ 7 =

② 324 ÷ 6 =

③ 128 ÷ 4 =

④ 504 ÷ 8 =

⑤ 164 ÷ 2 =

⑥ 245 ÷ 5 =

⑦ 680 ÷ 8 =

⑧ 90 ÷ 6 =

⑨ 511 ÷ 7 =

⑩ 170 ÷ 5 =

⑪ 432 ÷ 9 =

⑫ 87 ÷ 3 =

⑬ 74 ÷ 2 =

⑭ 462 ÷ 7 =

⑮ 114 ÷ 2 =

⑯ 316 ÷ 4 =

⑰ 135 ÷ 3 =

⑱ 168 ÷ 4 =

⑲ 504 ÷ 6 =

⑳ 162 ÷ 9 =

㉑ 440 ÷ 5 =

㉒ 104 ÷ 8 =

㉓ 261 ÷ 3 =

㉔ 684 ÷ 9 =

わり算の筆算

年　組　名前

/ 9

■ 次のわり算をしましょう。

①
88)1484

②
38)4479

③
93)3854

④
12)9404

⑤
18)1398

⑥
12)1674

⑦
74)3377

⑧
48)7617

⑨
87)4819

わり算の筆算

年　組　名前

/ 9

■ 次のわり算をしましょう。

①
83)5578

②
33)3759

③
57)2800

④
23)3143

⑤
63)2884

⑥
39)6510

⑦
26)1713

⑧
65)8239

⑨
87)3655

割合 まとめ

年　組　名前

/ 6

(1)　めぐみさんは700円もっていて、めぐみさんのお兄さんは5600円もっています。
めぐみさんのお兄さんのもっているお金はめぐみさんのもっているお金の何倍でしょう。

(式)

倍

(2)　塩(しお)が50gあり、砂糖(さとう)はちょうどその7倍の量だけあります。
砂糖(さとう)は何gありますか。

(式)

g

(3)　はなさんは妹の9倍のお金をもっています。
はなさんが4500円もっているとき、はなさんの妹はお金を何円持っていますか。

(式)

円

(4)　さとしさんは12こ、たけしさんは6このあめをもっています。
さとしさんがもっているあめの数はたけしさんがもっているあめの数の何倍でしょう。

(式)

倍

(5)　黄色のリボンの長さは9m、緑色のリボンの長さは黄色のリボンの長さの8倍です。
緑色のリボンの長さは何mでしょう。

(式)

m

(6)　青色の画用紙の数は黄色の画用紙の数の4倍です。
青色の画用紙が360枚あるとき、黄色の画用紙は何枚ありますか。

(式)

枚

割合 まとめ

年　組　名前

/ 6

(1)　はなさんは妹の2倍のお金をもっています。
はなさんが800円もっているとき、はなさんの妹はお金を何円持っていますか。

(式)

円

(2)　けんたさんはめぐみさんの5倍の数のあめをもっています。
けんたさんが30このあめをもっているとき、めぐみさんは何このあめをもっていますか。

(式)

こ

(3)　たけしさんは500円もっていて、たけしさんのお姉さんは1500円もっています。
たけしさんのお姉さんのもっているお金はたけしさんのもっているお金の何倍でしょう。

(式)

倍

(4)　黄色の画用紙の数は60枚、緑色の画用紙の数は420枚です。
緑色の画用紙の数は黄色の画用紙の数の何倍でしょう。

(式)

倍

(5)　青色のリボンの長さは6m、黄色のリボンの長さは青色のリボンの長さの2倍です。
黄色のリボンの長さは何mでしょう。

(式)

m

(6)　砂糖(さとう)が90gあり、塩(しお)はちょうどその8倍の量だけあります。
塩(しお)は何gありますか。

(式)

g

割合 まとめ

年　組　名前

/ 6

(1)　青色の画用紙の数は90枚、黄色の画用紙の数は360枚です。
黄色の画用紙の数は青色の画用紙の数の何倍でしょう。

(式)

倍

(2)　塩(しお)が砂糖(さとう)のちょうど4倍の量だけあります。
塩(しお)が320gあるとき、砂糖(さとう)は何gありますか。

(式)

g

(3)　あきらさんは5このあめをもっていて、はなさんはその5倍の数のあめをもっています。
はなさんは何このあめをもっていますか。

(式)

こ

(4)　たけしさんのお兄さんはたけしさんの8倍のお金をもっています。
お兄さんが4800円もっているとき、たけしさんはお金を何円持っていますか。

(式)

円

(5)　めぐみさんの弟は400円もっていて、めぐみさんは弟の2倍のお金をもっています。
めぐみさんはお金を何円持っていますか。

(式)

円

(6)　赤色のリボンの長さは2m、緑色のリボンの長さは10mです。
緑色のリボンの長さは赤色のリボンの長さの何倍でしょう。

(式)

倍

かけ算のくふう

年　組　名前

/ 8

■ 25×4=100であることを使って、くふうして計算しましょう。

① 25 × 28 = □

25 × (4 × 7)

(25 × 4) × 7

100 × 7

② 36 × 25 = □

③ 12 × 25 = □

④ 25 × 16 = □

⑤ 25 × 32 = □

⑥ 48 × 25 = □

⑦ 44 × 25 = □

⑧ 25 × 88 = □

かけ算のくふう

年　組　名前

/ 8

■ 25×4=100であることを使って、くふうして計算しましょう。

① 25 × 16 = □

25 × (4 × 4)

(25 × 4) × 4

100 × 4

② 32 × 25 = □

③ 25 × 12 = □

④ 36 × 25 = □

⑤ 28 × 25 = □

⑥ 25 × 84 = □

⑦ 88 × 25 = □

⑧ 25 × 44 = □

かけ算のくふう

年　組　名前

/11

■ 例にならって、くふうして計算しましょう

例　81 × 101 = 81 × (100 + 1)
= 8100 + 81
= 8181

① 35 × 101 =
=
=

② 99 × 22 =
=
=

③ 102 × 29 =
=
=

④ 101 × 74 =
=
=

⑤ 19 × 99 =
=
=

⑥ 99 × 48 =
=
=

⑦ 98 × 12 =
=
=

⑧ 35 × 102 =
=
=

⑨ 41 × 98 =
=
=

⑩ 103 × 16 =
=
=

⑪ 15 × 97 =
=
=

かけ算のくふう

年　組　名前

/11

■ 例にならって、くふうして計算しましょう

例　48 × 101 = 48 × (100 + 1)
= 4800 + 48
= 4848

① 69 × 101 =
=
=

② 55 × 99 =
=
=

③ 16 × 103 =
=
=

④ 98 × 36 =
=
=

⑤ 97 × 25 =
=
=

⑥ 12 × 98 =
=
=

⑦ 102 × 29 =
=
=

⑧ 99 × 17 =
=
=

⑨ 101 × 81 =
=
=

⑩ 99 × 23 =
=
=

⑪ 44 × 102 =
=
=

□をつかった式

年　組　名前

/16

■ つぎの式の□に当てはまる数を求めましょう。

① □ ＋ 7 ＝ 21
(式)

② □ × 3 ＝ 69
(式)

③ 80 － □ ＝ 70
(式)

④ □ － 10 ＝ 70
(式)

⑤ □ － 70 ＝ 10
(式)

⑥ □ ＋ 8 ＝ 22
(式)

⑦ □ × 8 ＝ 80
(式)

⑧ □ ＋ 3 ＝ 14
(式)

⑨ 80 － □ ＝ 10
(式)

⑩ □ － 50 ＝ 30
(式)

⑪ □ － 10 ＝ 60
(式)

⑫ 50 － □ ＝ 30
(式)

⑬ □ × 4 ＝ 48
(式)

⑭ □ ＋ 5 ＝ 20
(式)

⑮ □ × 2 ＝ 20
(式)

⑯ 80 － □ ＝ 20
(式)

□をつかった式

年　組　名前

/16

■ つぎの式の□に当てはまる数を求めましょう。

① □ ＋ 4 ＝ 13
(式)

② □ × 3 ＝ 93
(式)

③ 40 － □ ＝ 20
(式)

④ □ － 10 ＝ 40
(式)

⑤ □ － 60 ＝ 20
(式)

⑥ □ － 20 ＝ 60
(式)

⑦ 80 － □ ＝ 70
(式)

⑧ □ × 4 ＝ 44
(式)

⑨ 90 － □ ＝ 60
(式)

⑩ □ ＋ 6 ＝ 25
(式)

⑪ □ ＋ 8 ＝ 25
(式)

⑫ □ ＋ 3 ＝ 12
(式)

⑬ □ × 5 ＝ 50
(式)

⑭ □ × 2 ＝ 22
(式)

⑮ □ － 60 ＝ 10
(式)

⑯ 60 － □ ＝ 10
(式)

□をつかった式

年　組　名前

/16

■ つぎの式の□に当てはまる数を求めましょう。

① □ ＋ 3 ＝ 12
(式)

② □ × 9 ＝ 99
(式)

③ 80 － □ ＝ 10
(式)

④ □ － 10 ＝ 50
(式)

⑤ □ ＋ 8 ＝ 22
(式)

⑥ 80 － □ ＝ 30
(式)

⑦ □ ＋ 2 ＝ 19
(式)

⑧ 90 － □ ＝ 50
(式)

⑨ □ － 40 ＝ 30
(式)

⑩ □ － 10 ＝ 40
(式)

⑪ □ × 2 ＝ 68
(式)

⑫ □ － 20 ＝ 70
(式)

⑬ □ × 3 ＝ 30
(式)

⑭ 50 － □ ＝ 20
(式)

⑮ □ ＋ 5 ＝ 16
(式)

⑯ □ × 4 ＝ 44
(式)

長方形や正方形の面積

年　　組　名前

/12

■ 次の長方形や正方形の面積を求めましょう。単位にも気を付けましょう。

① 長方形

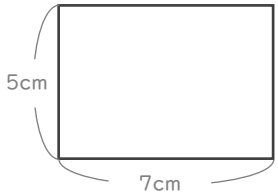

② 長方形

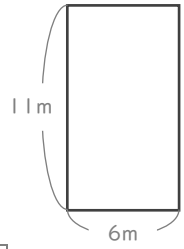

③ 正方形

④ 長方形

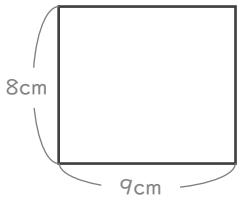

⑤ 長方形

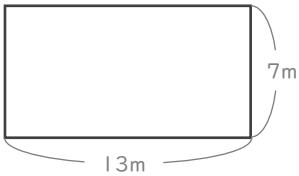

⑥ 長方形

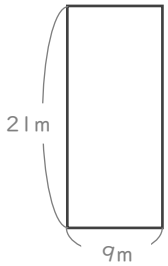

⑦ 正方形

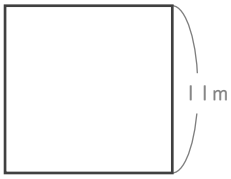

⑧ 長方形

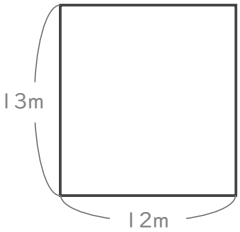

⑨ 長方形

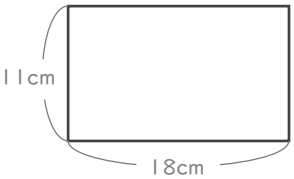

⑩ 長方形

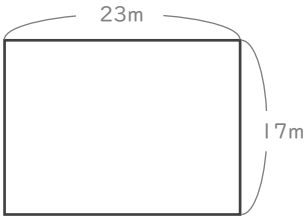

⑪ 長方形

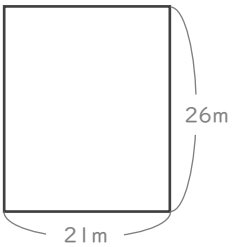

⑫ 正方形

面積の求め方のくふう

年　組　名前

/ 4

■ 次の図形の面積を求めましょう。

①

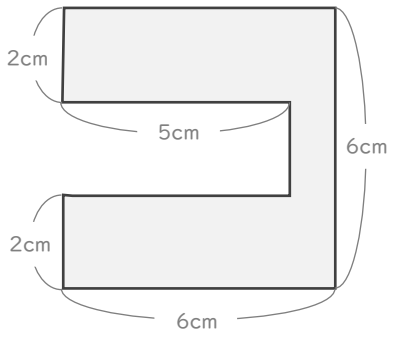

③

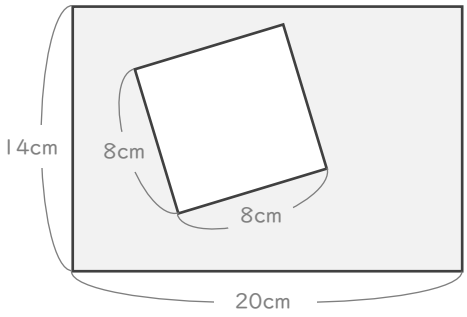

②

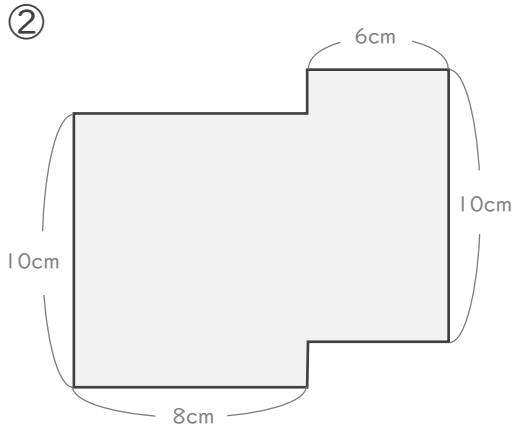

④

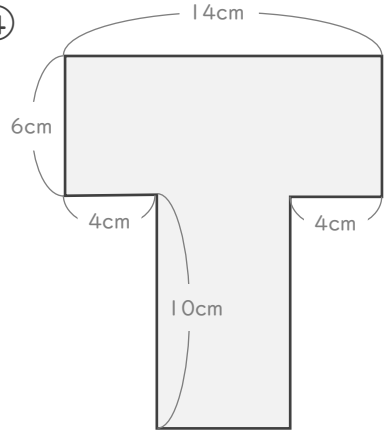

大きな面積

年　組　名前

/ 7

■ 次のような長方形の面積を求めましょう。

① たての長さが96cm, 横の長さが2mの長方形

cm²

② たての長さが3m, 横の長さが124cmの長方形

cm²

③ たての長さが4m, 横の長さが188cmの長方形

cm²

④ たての長さが192cm, 横の長さが5mの長方形

cm²

■ 次の「□m²」の形で表された面積を、「□cm²」の形に直しましょう。

⑤ 5m²

cm²

⑥ 17m²

cm²

⑦ 90m²

cm²

大きな面積

年　組　名前

/ 7

■ 次のような長方形の面積を求めましょう。

① たての長さが4m, 横の長さが108cmの長方形

cm²

② たての長さが114cm, 横の長さが5mの長方形

cm²

③ たての長さが2m, 横の長さが201cmの長方形

cm²

④ たての長さが218cm, 横の長さが3mの長方形

cm²

■ 次の「□m²」の形で表された面積を、「□cm²」の形に直しましょう。

⑤ 6m²

cm²

⑥ 13m²

cm²

⑦ 40m²

cm²

大きな面積

年　組　名前

/ 7

■ 次のような長方形の面積を求めましょう。

① たての長さが5m, 横の長さが125cmの長方形

cm²

② たての長さが226cm, 横の長さが3mの長方形

cm²

③ たての長さが228cm, 横の長さが4mの長方形

cm²

④ たての長さが2m, 横の長さが230cmの長方形

cm²

■ 次の「□m²」の形で表された面積を、「□cm²」の形に直しましょう。

⑤ 7m²

cm²

⑥ 19m²

cm²

⑦ 40m²

cm²

あまりを考えて

年　組　名前

/ 7

① はばが33cmの本立てに、あつさ6cmの本を立てていきます。

本は何さつ立てられますか。

（式）　33 ÷ 6 ＝ 5あまり3

あまりの3cmには、あつさ6cmの本は入らない。

5さつ

② もも70こを、1はこに9こずつ入れて売ります。

はこは何はこできますか。

（式）　70 ÷ 9 ＝ 7あまり7

あまりのもも7こでは、9こ入りのはこはつくれない。

7はこ

③ 23人の子どもが、長いす1きゃくに4人ずつすわっていきます。

みんなすわるには、長いすが何きゃくいりますか。

（式）　23 ÷ 4 ＝ 5あまり3

あまりの3人がすわるためには、もう1きゃくいるので、5 ＋ 1 ＝ 6

6きゃく

④ 26人の子どもが、長いす1きゃくに4人ずつすわっていきます。

みんなすわるには、長いすが何きゃくいりますか。

（式）　26 ÷ 4 ＝ 6あまり2

あまりの2人がすわるためには、もう1きゃくいるので、6 ＋ 1 ＝ 7

7きゃく

⑤ 58ページの本があります。

1日に7ページずつよむと、何日で全部よめますか。

（式）　58 ÷ 7 ＝ 8あまり2

あまりの2ページをよむためには、もう1日かかるので、8 ＋ 1 ＝ 9

9日

⑥ はばが34cmの本立てに、あつさ4cmの本を立てていきます。

本は何さつ立てられますか。

（式）　34 ÷ 4 ＝ 8あまり2

あまりの2cmには、あつさ4cmの本は入らない。

8さつ

⑦ なし43こを、1はこに7こずつ入れて売ります。

はこは何はこできますか。

（式）　43 ÷ 7 ＝ 6あまり1

あまりのなし1こでは、7こ入りのはこはつくれない。

6はこ

あまりを考えて

年　組　名前

/ 7

① 49ページの本があります。

1日に9ページずつよむと、何日で全部よめますか。

（式）　49 ÷ 9 ＝ 5あまり4

あまりの4ページをよむためには、もう1日かかるので、5 ＋ 1 ＝ 6

6日

② 34人の子どもが、長いす1きゃくに5人ずつすわっていきます。

みんなすわるには、長いすが何きゃくいりますか。

（式）　34 ÷ 5 ＝ 6あまり4

あまりの4人がすわるためには、もう1きゃくいるので、6 ＋ 1 ＝ 7

7きゃく

③ もも48こを、1はこに7こずつ入れて売ります。

はこは何はこできますか。

（式）　48 ÷ 7 ＝ 6あまり6

あまりのもも6こでは、7こ入りのはこはつくれない。

6はこ

④ 53ページの本があります。

1日に7ページずつよむと、何日で全部よめますか。

（式）　53 ÷ 7 ＝ 7あまり4

あまりの4ページをよむためには、もう1日かかるので、7 ＋ 1 ＝ 8

8日

⑤ はばが42cmの本立てに、あつさ5cmの本を立てていきます。

本は何さつ立てられますか。

（式）　42 ÷ 5 ＝ 8あまり2

あまりの2cmには、あつさ5cmの本は入らない。

8さつ

⑥ なし66こを、1はこに8こずつ入れて売ります。

はこは何はこできますか。

（式）　66 ÷ 8 ＝ 8あまり2

あまりのなし2こでは、8こ入りのはこはつくれない。

8はこ

⑦ 26人の子どもが、長いす1きゃくに3人ずつすわっていきます。

みんなすわるには、長いすが何きゃくいりますか。

（式）　26 ÷ 3 ＝ 8あまり2

あまりの2人がすわるためには、もう1きゃくいるので、8 ＋ 1 ＝ 9

9きゃく

かけ算の暗算

年　組　名前

/26

■ つぎのかけ算をしましょう。

① 966 × 6 = 5796

② 679 × 8 = 5432

③ 829 × 5 = 4145

④ 538 × 2 = 1076

⑤ 325 × 4 = 1300

⑥ 313 × 3 = 939

⑦ 181 × 3 = 543

⑧ 545 × 2 = 1090

⑨ 239 × 4 = 956

⑩ 777 × 5 = 3885

⑪ 824 × 7 = 5768

⑫ 155 × 8 = 1240

⑬ 952 × 3 = 2856

⑭ 886 × 4 = 3544

⑮ 476 × 8 = 3808

⑯ 792 × 4 = 3168

⑰ 637 × 8 = 5096

⑱ 416 × 3 = 1248

⑲ 245 × 8 = 1960

⑳ 953 × 6 = 5718

㉑ 545 × 5 = 2725

㉒ 214 × 8 = 1712

㉓ 436 × 2 = 872

㉔ 741 × 6 = 4446

㉕ 672 × 3 = 2016

㉖ 367 × 3 = 1101

かけ算の暗算

年　組　名前

/26

■ つぎのかけ算をしましょう。

① 634 × 5 = 3170

② 767 × 4 = 3068

③ 598 × 7 = 4186

④ 874 × 8 = 6992

⑤ 199 × 3 = 597

⑥ 558 × 6 = 3348

⑦ 392 × 5 = 1960

⑧ 371 × 7 = 2597

⑨ 214 × 9 = 1926

⑩ 148 × 4 = 592

⑪ 641 × 4 = 2564

⑫ 972 × 7 = 6804

⑬ 455 × 2 = 910

⑭ 134 × 2 = 268

⑮ 963 × 2 = 1926

⑯ 985 × 7 = 6895

⑰ 237 × 5 = 1185

⑱ 447 × 3 = 1341

⑲ 428 × 6 = 2568

⑳ 721 × 9 = 6489

㉑ 353 × 3 = 1059

㉒ 272 × 6 = 1632

㉓ 599 × 7 = 4193

㉔ 638 × 2 = 1276

㉕ 878 × 5 = 4390

㉖ 826 × 7 = 5782

かけ算の暗算

年　組　名前

/26

■ つぎのかけ算をしましょう。

① 575 × 8 = 4600

② 143 × 6 = 858

③ 198 × 5 = 990

④ 921 × 7 = 6447

⑤ 578 × 3 = 1734

⑥ 923 × 6 = 5538

⑦ 353 × 8 = 2824

⑧ 845 × 2 = 1690

⑨ 686 × 7 = 4802

⑩ 729 × 9 = 6561

⑪ 619 × 2 = 1238

⑫ 392 × 3 = 1176

⑬ 962 × 7 = 6734

⑭ 719 × 6 = 4314

⑮ 262 × 6 = 1572

⑯ 822 × 4 = 3288

⑰ 866 × 7 = 6062

⑱ 343 × 7 = 2401

⑲ 221 × 4 = 884

⑳ 762 × 2 = 1524

㉑ 471 × 8 = 3768

㉒ 589 × 7 = 4123

㉓ 284 × 6 = 1704

㉔ 476 × 7 = 3332

㉕ 492 × 7 = 3444

㉖ 677 × 8 = 5416

分数

年　組　名前

/ 8

■ 色がついた部分は、円全体の 何分の何 の大きさですか。

①

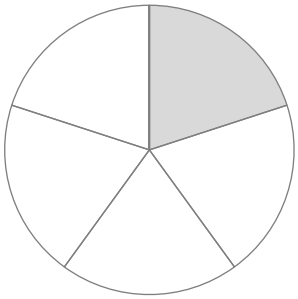

$\frac{1}{5}$

②

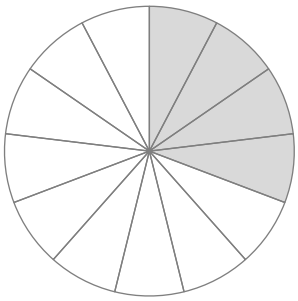

$\frac{4}{13}$

③

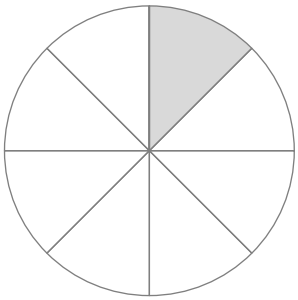

$\frac{1}{8}$

④

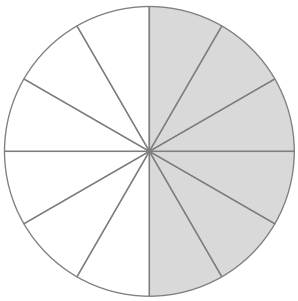

$\frac{6}{12}$

⑤

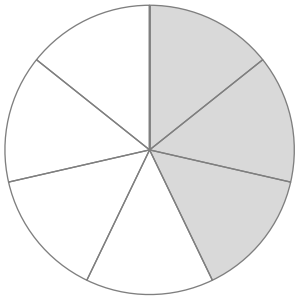

$\frac{3}{7}$

⑥

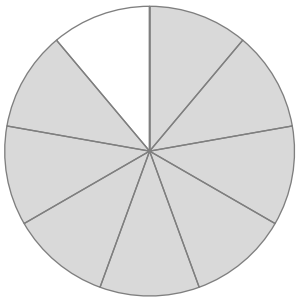

$\frac{8}{9}$

⑦

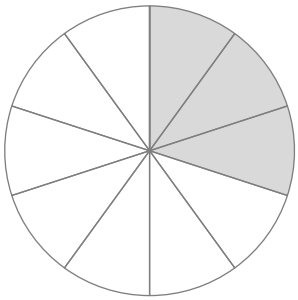

$\frac{3}{10}$

⑧

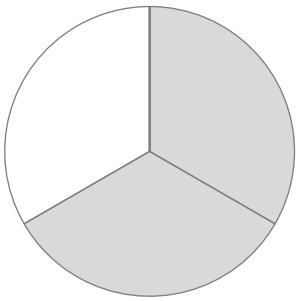

$\frac{2}{3}$

分数

年　組　名前

/ 8

■ 色がついた部分は、円全体の 何分の何 の大きさですか。

①

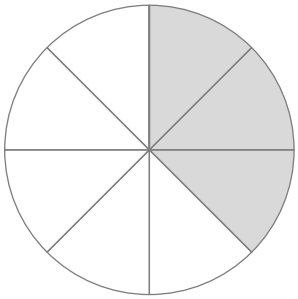

$\frac{3}{8}$

②

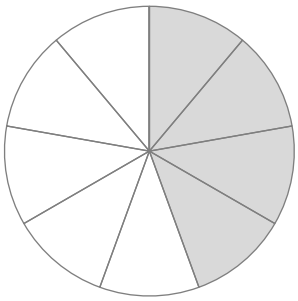

$\frac{4}{9}$

③

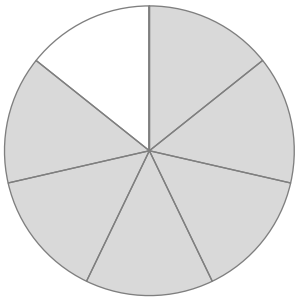

$\frac{6}{7}$

④

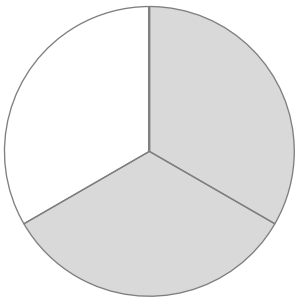

$\frac{2}{3}$

⑤

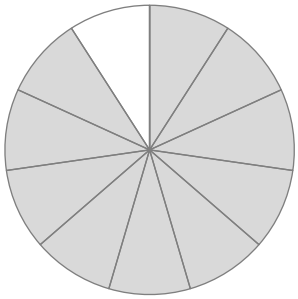

$\frac{10}{11}$

⑥

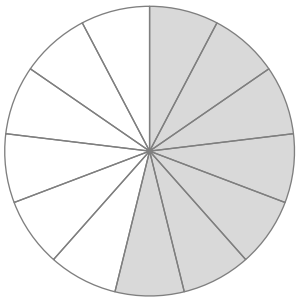

$\frac{7}{13}$

⑦

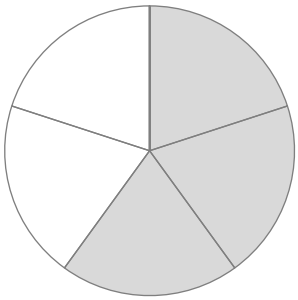

$\frac{3}{5}$

⑧

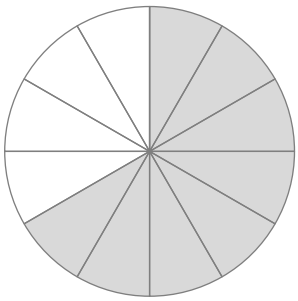

$\frac{8}{12}$

折れ線グラフ

年　　組　名前

/14

■ 次の表は、10月2日 から 15日 までの最高気温をまとめたものです。

表を見て、最高気温の変わり方を折れ線グラフに表しましょう。

日にち	2日	3日	4日	5日	6日	7日	8日
最高気温(度)	13	15	12	17	20	13	19

日にち	9日	10日	11日	12日	13日	14日	15日
最高気温(度)	10	16	18	14	12	12	15

10月2日～15日の最高気温

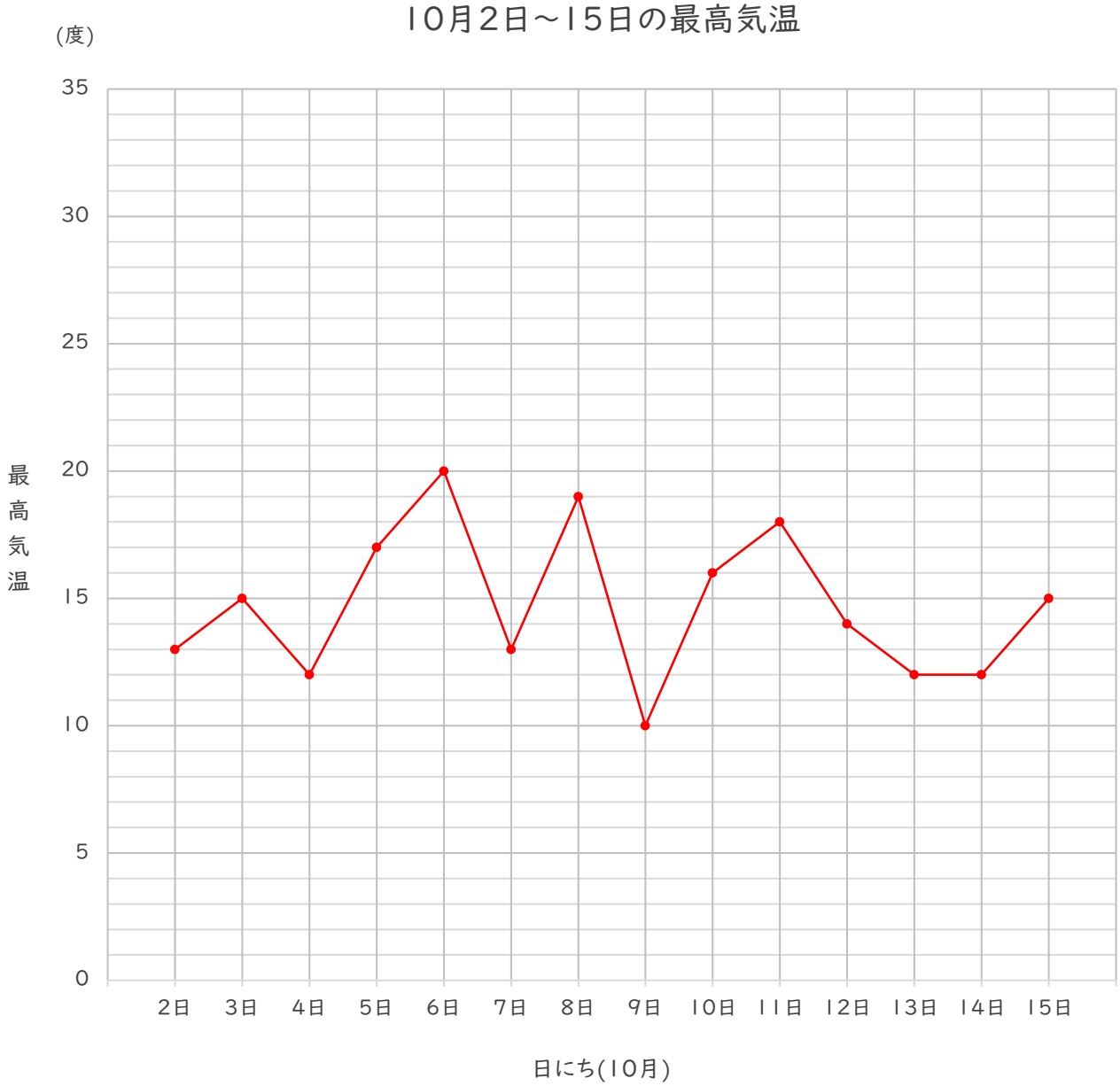

折れ線グラフ

年　組　名前

/14

■ 次の表は、9月12日 から 25日 までの最高気温をまとめたものです。

表を見て、最高気温の変わり方を折れ線グラフに表しましょう。

日にち	12日	13日	14日	15日	16日	17日	18日
最高気温(度)	28	26	26	24	21	27	23

日にち	19日	20日	21日	22日	23日	24日	25日
最高気温(度)	28	28	19	29	22	20	24

9月12日～25日の最高気温

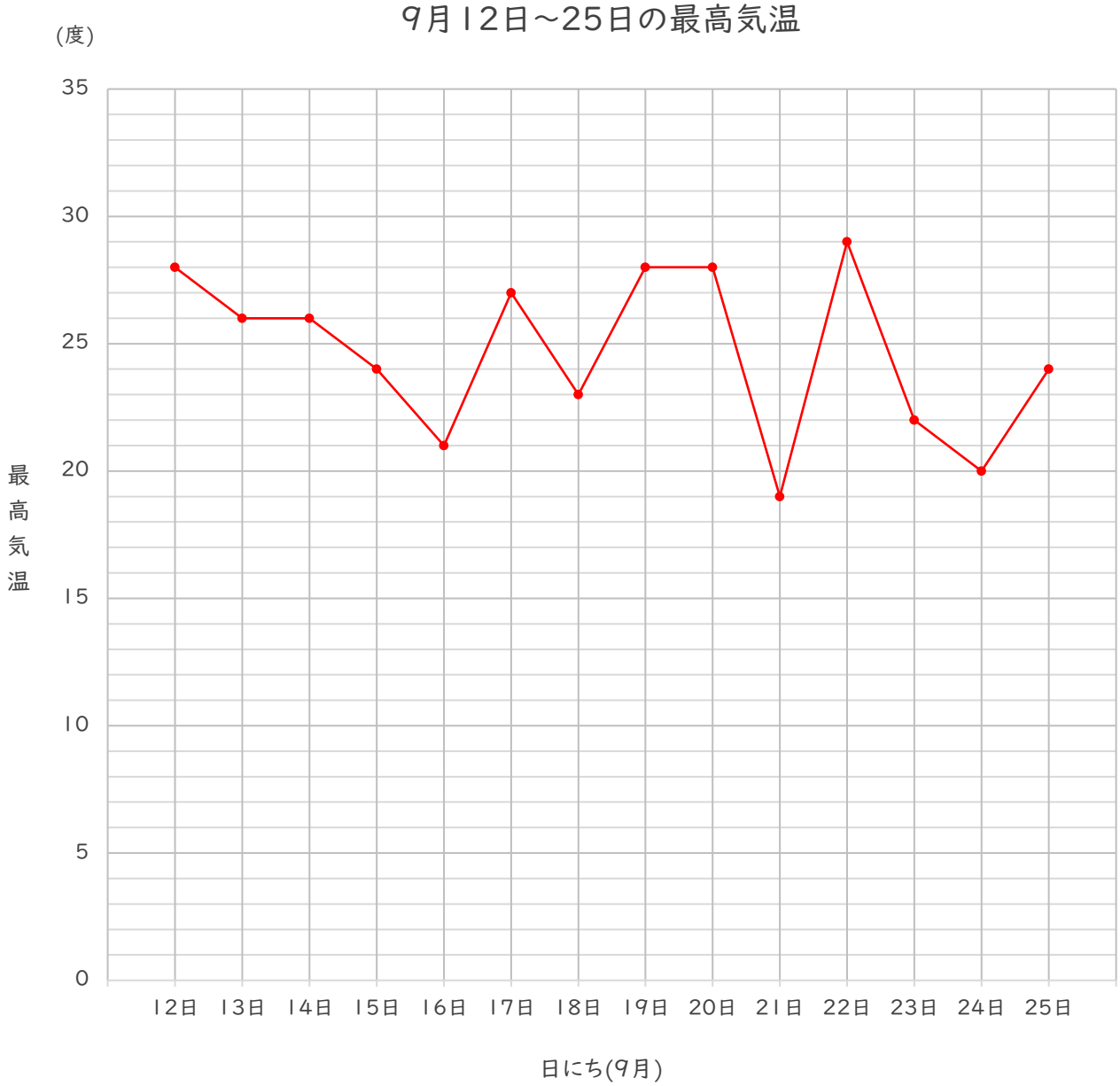

商が2けたになるわり算の暗算

年　組　名前

/24

■ 次のわり算をしましょう。

① 712 ÷ 8 = 89

② 114 ÷ 2 = 57

③ 310 ÷ 5 = 62

④ 190 ÷ 5 = 38

⑤ 414 ÷ 6 = 69

⑥ 539 ÷ 7 = 77

⑦ 220 ÷ 4 = 55

⑧ 176 ÷ 8 = 22

⑨ 387 ÷ 9 = 43

⑩ 249 ÷ 3 = 83

⑪ 380 ÷ 5 = 76

⑫ 46 ÷ 2 = 23

⑬ 702 ÷ 9 = 78

⑭ 238 ÷ 7 = 34

⑮ 150 ÷ 6 = 25

⑯ 78 ÷ 3 = 26

⑰ 544 ÷ 8 = 68

⑱ 570 ÷ 6 = 95

⑲ 76 ÷ 4 = 19

⑳ 162 ÷ 3 = 54

㉑ 148 ÷ 2 = 74

㉒ 328 ÷ 4 = 82

㉓ 243 ÷ 9 = 27

㉔ 462 ÷ 7 = 66

商が2けたになるわり算の暗算

年　組　名前

/24

■ 次のわり算をしましょう。

① 126 ÷ 2 = 63

② 315 ÷ 9 = 35

③ 456 ÷ 8 = 57

④ 130 ÷ 5 = 26

⑤ 74 ÷ 2 = 37

⑥ 194 ÷ 2 = 97

⑦ 39 ÷ 3 = 13

⑧ 72 ÷ 6 = 12

⑨ 266 ÷ 7 = 38

⑩ 192 ÷ 8 = 24

⑪ 255 ÷ 3 = 85

⑫ 648 ÷ 9 = 72

⑬ 186 ÷ 3 = 62

⑭ 280 ÷ 5 = 56

⑮ 220 ÷ 4 = 55

⑯ 116 ÷ 4 = 29

⑰ 448 ÷ 7 = 64

⑱ 594 ÷ 6 = 99

⑲ 612 ÷ 9 = 68

⑳ 294 ÷ 6 = 49

㉑ 664 ÷ 8 = 83

㉒ 380 ÷ 5 = 76

㉓ 518 ÷ 7 = 74

㉔ 352 ÷ 4 = 88

商が2けたになるわり算の暗算

年　組　名前

/24

■ 次のわり算をしましょう。

① 182 ÷ 7 = 26

② 324 ÷ 6 = 54

③ 128 ÷ 4 = 32

④ 504 ÷ 8 = 63

⑤ 164 ÷ 2 = 82

⑥ 245 ÷ 5 = 49

⑦ 680 ÷ 8 = 85

⑧ 90 ÷ 6 = 15

⑨ 511 ÷ 7 = 73

⑩ 170 ÷ 5 = 34

⑪ 432 ÷ 9 = 48

⑫ 87 ÷ 3 = 29

⑬ 74 ÷ 2 = 37

⑭ 462 ÷ 7 = 66

⑮ 114 ÷ 2 = 57

⑯ 316 ÷ 4 = 79

⑰ 135 ÷ 3 = 45

⑱ 168 ÷ 4 = 42

⑲ 504 ÷ 6 = 84

⑳ 162 ÷ 9 = 18

㉑ 440 ÷ 5 = 88

㉒ 104 ÷ 8 = 13

㉓ 261 ÷ 3 = 87

㉔ 684 ÷ 9 = 76

わり算の筆算

年　組　名前

/ 9

■ 次のわり算をしましょう。

①

					1	6
	8	8	1	4	8	4
				8	8	
				6	0	4
				5	2	8
					7	6

②

				1	1	7
	3	8	4	4	7	9
			3	8		
				6	7	
				3	8	
				2	9	9
				2	6	6
					3	3

③

					4	1
	9	3	3	8	5	4
			3	7	2	
				1	3	4
					9	3
					4	1

④

				7	8	3
	1	2	9	4	0	4
			8	4		
			1	0	0	
				9	6	
					4	4
					3	6
						8

⑤

					7	7
	1	8	1	3	9	8
			1	2	6	
				1	3	8
				1	2	6
					1	2

⑥

				1	3	9
	1	2	1	6	7	4
			1	2		
				4	7	
				3	6	
				1	1	4
				1	0	8
						6

⑦

					4	5
	7	4	3	3	7	7
			2	9	6	
				4	1	7
				3	7	0
					4	7

⑧

				1	5	8
	4	8	7	6	1	7
			4	8		
			2	8	1	
			2	4	0	
				4	1	7
				3	8	4
					3	3

⑨

					5	5
	8	7	4	8	1	9
			4	3	5	
				4	6	9
				4	3	5
					3	4

わり算の筆算

年　組　名前

/ 9

■ 次のわり算をしましょう。

①					6	7
	8	3	5	5	7	8
			4	9	8	
				5	9	8
				5	8	1
					1	7

②				1	1	3
	3	3	3	7	5	9
			3	3		
				4	5	
				3	3	
				1	2	9
					9	9
					3	0

③					4	9
	5	7	2	8	0	0
			2	2	8	
				5	2	0
				5	1	3
						7

④				1	3	6
	2	3	3	1	4	3
			2	3		
				8	4	
				6	9	
				1	5	3
				1	3	8
					1	5

⑤					4	5
	6	3	2	8	8	4
			2	5	2	
				3	6	4
				3	1	5
					4	9

⑥				1	6	6
	3	9	6	5	1	0
			3	9		
			2	6	1	
			2	3	4	
				2	7	0
				2	3	4
					3	6

⑦					6	5
	2	6	1	7	1	3
			1	5	6	
				1	5	3
				1	3	0
					2	3

⑧				1	2	6
	6	5	8	2	3	9
			6	5		
			1	7	3	
			1	3	0	
				4	3	9
				3	9	0
					4	9

⑨					4	2
	8	7	3	6	5	5
			3	4	8	
				1	7	5
				1	7	4
						1

割合 まとめ

年　組　名前

/ 6

(1)　めぐみさんは700円もっていて、めぐみさんのお兄さんは5600円もっています。
めぐみさんのお兄さんのもっているお金はめぐみさんのもっているお金の何倍でしょう。

(式)　700 × □ = 5600

5600 ÷ 700 = 8

8 倍

(2)　塩(しお)が50gあり、砂糖(さとう)はちょうどその7倍の量だけあります。
砂糖(さとう)は何gありますか。

(式)　50 × 7 = 350

350 g

(3)　はなさんは妹の9倍のお金をもっています。
はなさんが4500円もっているとき、はなさんの妹はお金を何円持っていますか。

(式)　□ × 9 = 4500

4500 ÷ 9 = 500

500 円

(4)　さとしさんは12こ、たけしさんは6このあめをもっています。
さとしさんがもっているあめの数はたけしさんがもっているあめの数の何倍でしょう。

(式)　6 × □ = 12

12 ÷ 6 = 2

2 倍

(5)　黄色のリボンの長さは9m、緑色のリボンの長さは黄色のリボンの長さの8倍です。
緑色のリボンの長さは何mでしょう。

(式)　9 × 8 = 72

72 m

(6)　青色の画用紙の数は黄色の画用紙の数の4倍です。
青色の画用紙が360枚あるとき、黄色の画用紙は何枚ありますか。

(式)　□ × 4 = 360

360 ÷ 4 = 90

90 枚

割合 まとめ

年　組　名前

/ 6

(1)　はなさんは妹の2倍のお金をもっています。
はなさんが800円もっているとき、はなさんの妹はお金を何円持っていますか。

(式)　□ × 2 = 800
800 ÷ 2 = 400

400 円

(2)　けんたさんはめぐみさんの5倍の数のあめをもっています。
けんたさんが30このあめをもっているとき、めぐみさんは何このあめをもっていますか。

(式)　□ × 5 = 30
30 ÷ 5 = 6

6 こ

(3)　たけしさんは500円もっていて、たけしさんのお姉さんは1500円もっています。
たけしさんのお姉さんのもっているお金はたけしさんのもっているお金の何倍でしょう。

(式)　500 × □ = 1500
1500 ÷ 500 = 3

3 倍

(4)　黄色の画用紙の数は60枚、緑色の画用紙の数は420枚です。
緑色の画用紙の数は黄色の画用紙の数の何倍でしょう。

(式)　60 × □ = 420
420 ÷ 60 = 7

7 倍

(5)　青色のリボンの長さは6m、黄色のリボンの長さは青色のリボンの長さの2倍です。
黄色のリボンの長さは何mでしょう。

(式)　6 × 2 = 12

12 m

(6)　砂糖(さとう)が90gあり、塩(しお)はちょうどその8倍の量だけあります。
塩(しお)は何gありますか。

(式)　90 × 8 = 720

720 g

割合 まとめ

年　組　名前

/ 6

(1)　青色の画用紙の数は90枚、黄色の画用紙の数は360枚です。
黄色の画用紙の数は青色の画用紙の数の何倍でしょう。

(式)　90 × □ = 360
360 ÷ 90 = 4

4 倍

(2)　塩(しお)が砂糖(さとう)のちょうど4倍の量だけあります。
塩(しお)が320gあるとき、砂糖(さとう)は何gありますか。

(式)　□ × 4 = 320
320 ÷ 4 = 80

80 g

(3)　あきらさんは5このあめをもっていて、はなさんはその5倍の数のあめをもっています。
はなさんは何このあめをもっていますか。

(式)　5 × 5 = 25

25 こ

(4)　たけしさんのお兄さんはたけしさんの8倍のお金をもっています。
お兄さんが4800円もっているとき、たけしさんはお金を何円持っていますか。

(式)　□ × 8 = 4800
4800 ÷ 8 = 600

600 円

(5)　めぐみさんの弟は400円もっていて、めぐみさんは弟の2倍のお金をもっています。
めぐみさんはお金を何円持っていますか。

(式)　400 × 2 = 800

800 円

(6)　赤色のリボンの長さは2m、緑色のリボンの長さは10mです。
緑色のリボンの長さは赤色のリボンの長さの何倍でしょう。

(式)　2 × □ = 10
10 ÷ 2 = 5

5 倍

かけ算のくふう

年　組　名前

/ 8

■ 25×4=100であることを使って、くふうして計算しましょう。

① 25 × 28 = 700

25 × (4 × 7)

(25 × 4) × 7

100 × 7

② 36 × 25 = 900

(4 × 9) × 25

(4 × 25) × 9

100 × 9

③ 12 × 25 = 300

(4 × 3) × 25

(4 × 25) × 3

100 × 3

④ 25 × 16 = 400

25 × (4 × 4)

(25 × 4) × 4

100 × 4

⑤ 25 × 32 = 800

25 × (4 × 8)

(25 × 4) × 8

100 × 8

⑥ 48 × 25 = 1200

(4 × 12) × 25

(4 × 25) × 12

100 × 12

⑦ 44 × 25 = 1100

(4 × 11) × 25

(4 × 25) × 11

100 × 11

⑧ 25 × 88 = 2200

(4 × 11) × 25

(4 × 25) × 11

100 × 11

かけ算のくふう

年　組　名前

/ 8

■ 25×4=100であることを使って、くふうして計算しましょう。

① 25 × 16 = 400

25 × (4 × 4)

(25 × 4) × 4

100 × 4

② 32 × 25 = 800

(4 × 8) × 25

(4 × 25) × 8

100 × 8

③ 25 × 12 = 300

25 × (4 × 3)

(25 × 4) × 3

100 × 3

④ 36 × 25 = 900

(4 × 9) × 25

(4 × 25) × 9

100 × 9

⑤ 28 × 25 = 700

(4 × 7) × 25

(4 × 25) × 7

100 × 7

⑥ 25 × 84 = 2100

25 × (4 × 21)

(25 × 4) × 21

100 × 21

⑦ 88 × 25 = 2200

(4 × 22) × 25

(4 × 25) × 22

100 × 22

⑧ 25 × 44 = 1100

(4 × 22) × 25

(4 × 25) × 22

100 × 22

かけ算のくふう

年　組　名前

/11

■ 例にならって、くふうして計算しましょう

例　81 × 101 = 81 × (100 + 1)
= 8100 + 81
= 8181

① 35 × 101 = 35 × (100 + 1)
= 3500 + 35
= 3535

② 99 × 22 = (100 − 1) × 22
= 2200 − 22
= 2178

③ 102 × 29 = (100 + 2) × 29
= 2900 + 58
= 2958

④ 101 × 74 = (100 + 1) × 74
= 7400 + 74
= 7474

⑤ 19 × 99 = 19 × (100 − 1)
= 1900 − 19
= 1881

⑥ 99 × 48 = (100 − 1) × 48
= 4800 − 48
= 4752

⑦ 98 × 12 = (100 − 2) × 12
= 1200 − 24
= 1176

⑧ 35 × 102 = 35 × (100 + 2)
= 3500 + 70
= 3570

⑨ 41 × 98 = 41 × (100 − 2)
= 4100 − 82
= 4018

⑩ 103 × 16 = (100 + 3) × 16
= 1600 + 48
= 1648

⑪ 15 × 97 = 15 × (100 − 3)
= 1500 − 45
= 1455

かけ算のくふう

年　組　名前

/11

■ 例にならって、くふうして計算しましょう

例　48 × 101 = 48 × (100 + 1)
= 4800 + 48
= 4848

① 69 × 101 = 69 × (100 + 1)
= 6900 + 69
= 6969

② 55 × 99 = 55 × (100 − 1)
= 5500 − 55
= 5445

③ 16 × 103 = 16 × (100 + 3)
= 1600 + 48
= 1648

④ 98 × 36 = (100 − 2) × 36
= 3600 − 72
= 3528

⑤ 97 × 25 = (100 − 3) × 25
= 2500 − 75
= 2425

⑥ 12 × 98 = 12 × (100 − 2)
= 1200 − 24
= 1176

⑦ 102 × 29 = (100 + 2) × 29
= 2900 + 58
= 2958

⑧ 99 × 17 = (100 − 1) × 17
= 1700 − 17
= 1683

⑨ 101 × 81 = (100 + 1) × 81
= 8100 + 81
= 8181

⑩ 99 × 23 = (100 − 1) × 23
= 2300 − 23
= 2277

⑪ 44 × 102 = 44 × (100 + 2)
= 4400 + 88
= 4488

□をつかった式

年　組　名前

/16

■ つぎの式の□に当てはまる数を求めましょう。

① □ + 7 = 21

(式) 21 − 7 = 14　　14

② □ × 3 = 69

(式) 69 ÷ 3 = 23　　23

③ 80 − □ = 70

(式) 80 − 70 = 10　　10

④ □ − 10 = 70

(式) 70 + 10 = 80　　80

⑤ □ − 70 = 10

(式) 10 + 70 = 80　　80

⑥ □ + 8 = 22

(式) 22 − 8 = 14　　14

⑦ □ × 8 = 80

(式) 80 ÷ 8 = 10　　10

⑧ □ + 3 = 14

(式) 14 − 3 = 11　　11

⑨ 80 − □ = 10

(式) 80 − 10 = 70　　70

⑩ □ − 50 = 30

(式) 30 + 50 = 80　　80

⑪ □ − 10 = 60

(式) 60 + 10 = 70　　70

⑫ 50 − □ = 30

(式) 50 − 30 = 20　　20

⑬ □ × 4 = 48

(式) 48 ÷ 4 = 12　　12

⑭ □ + 5 = 20

(式) 20 − 5 = 15　　15

⑮ □ × 2 = 20

(式) 20 ÷ 2 = 10　　10

⑯ 80 − □ = 20

(式) 80 − 20 = 60　　60

□をつかった式

年　組　名前

/16

■ つぎの式の□に当てはまる数を求めましょう。

① □ + 4 = 13

(式) 13 − 4 = 9　　9

② □ × 3 = 93

(式) 93 ÷ 3 = 31　　31

③ 40 − □ = 20

(式) 40 − 20 = 20　　20

④ □ − 10 = 40

(式) 40 + 10 = 50　　50

⑤ □ − 60 = 20

(式) 20 + 60 = 80　　80

⑥ □ − 20 = 60

(式) 60 + 20 = 80　　80

⑦ 80 − □ = 70

(式) 80 − 70 = 10　　10

⑧ □ × 4 = 44

(式) 44 ÷ 4 = 11　　11

⑨ 90 − □ = 60

(式) 90 − 60 = 30　　30

⑩ □ + 6 = 25

(式) 25 − 6 = 19　　19

⑪ □ + 8 = 25

(式) 25 − 8 = 17　　17

⑫ □ + 3 = 12

(式) 12 − 3 = 9　　9

⑬ □ × 5 = 50

(式) 50 ÷ 5 = 10　　10

⑭ □ × 2 = 22

(式) 22 ÷ 2 = 11　　11

⑮ □ − 60 = 10

(式) 10 + 60 = 70　　70

⑯ 60 − □ = 10

(式) 60 − 10 = 50　　50

□をつかった式

年　組　名前

/16

■ つぎの式の□に当てはまる数を求めましょう。

① □ + 3 = 12

(式) 12 − 3 = 9　　9

② □ × 9 = 99

(式) 99 ÷ 9 = 11　　11

③ 80 − □ = 10

(式) 80 − 10 = 70　　70

④ □ − 10 = 50

(式) 50 + 10 = 60　　60

⑤ □ + 8 = 22

(式) 22 − 8 = 14　　14

⑥ 80 − □ = 30

(式) 80 − 30 = 50　　50

⑦ □ + 2 = 19

(式) 19 − 2 = 17　　17

⑧ 90 − □ = 50

(式) 90 − 50 = 40　　40

⑨ □ − 40 = 30

(式) 30 + 40 = 70　　70

⑩ □ − 10 = 40

(式) 40 + 10 = 50　　50

⑪ □ × 2 = 68

(式) 68 ÷ 2 = 34　　34

⑫ □ − 20 = 70

(式) 70 + 20 = 90　　90

⑬ □ × 3 = 30

(式) 30 ÷ 3 = 10　　10

⑭ 50 − □ = 20

(式) 50 − 20 = 30　　30

⑮ □ + 5 = 16

(式) 16 − 5 = 11　　11

⑯ □ × 4 = 44

(式) 44 ÷ 4 = 11　　11

長方形や正方形の面積

年　組　名前

/12

■ 次の長方形や正方形の面積を求めましょう。単位にも気を付けましょう。

① 長方形

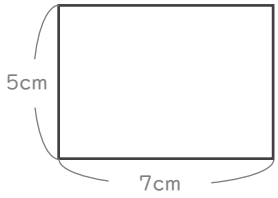

35cm²

② 長方形

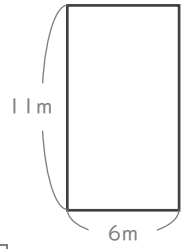

66m²

③ 正方形

64cm²

④ 長方形

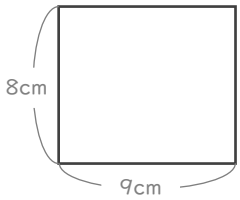

72cm²

⑤ 長方形

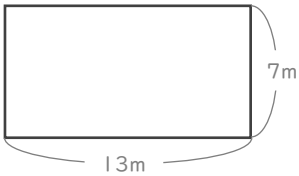

91m²

⑥ 長方形

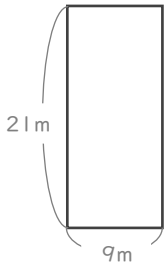

189m²

⑦ 正方形

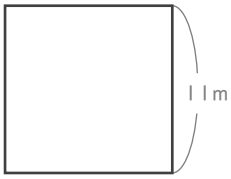

121m²

⑧ 長方形

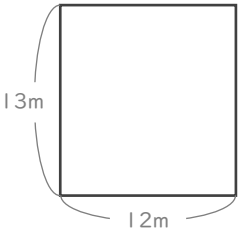

156m²

⑨ 長方形

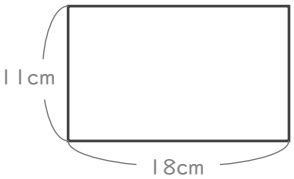

198cm²

⑩ 長方形

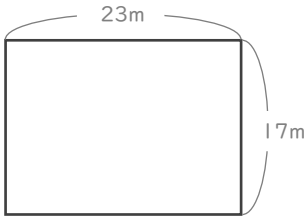

391m²

⑪ 長方形

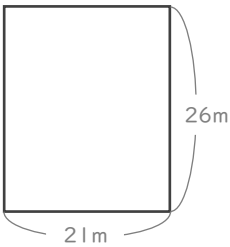

546m²

⑫ 正方形

625cm²

面積の求め方のくふう

年　組　名前

/ 4

■ 次の図形の面積を求めましょう。

①

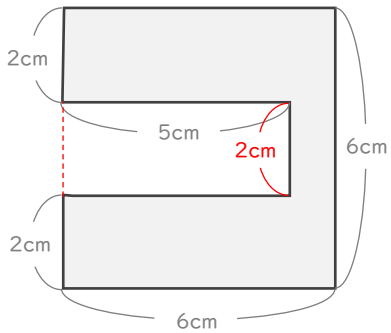

全体　6×6=36
いらない部分　2×5=10
36−10=26

26cm²

③

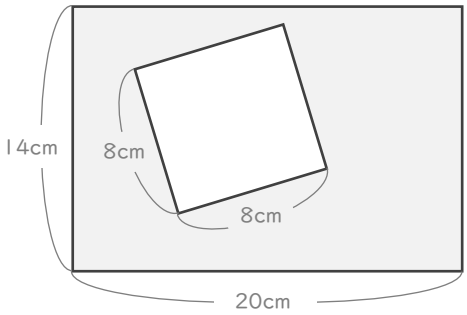

全体　14×20=280
いらない部分　8×8=64
280−64=216

216cm²

②

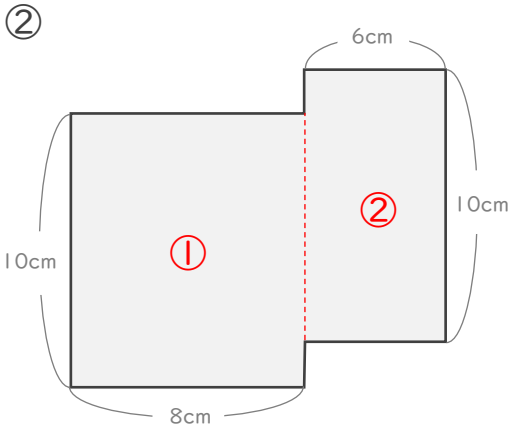

① 10×8=80
② 10×6=60
80+60=140

140cm²

④

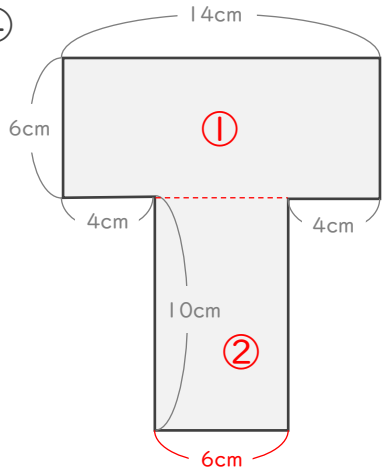

① 6×14=84
② 10×6=60
84+60=144

144cm²

大きな面積

年　組　名前

/ 7

■ 次のような長方形の面積を求めましょう。

① たての長さが96cm，横の長さが2mの長方形

96cm × 2m ＝ 96cm × 200cm ＝ 19200cm²

19200	cm²

② たての長さが3m，横の長さが124cmの長方形

3m × 124cm ＝ 300cm × 124cm ＝ 37200cm²

37200	cm²

③ たての長さが4m，横の長さが188cmの長方形

4m × 188cm ＝ 400cm × 188cm ＝ 75200cm²

75200	cm²

④ たての長さが192cm，横の長さが5mの長方形

192cm × 5m ＝ 192cm × 500cm ＝ 96000cm²

96000	cm²

■ 次の「□m²」の形で表された面積を、「□cm²」の形に直しましょう。

⑤ 5m²

50000	cm²

⑥ 17m²

170000	cm²

⑦ 90m²

900000	cm²

大きな面積

年　組　名前

/ 7

■ 次のような長方形の面積を求めましょう。

① たての長さが4m，横の長さが108cmの長方形

4m × 108cm = 400cm × 108cm = 43200cm²

43200 cm²

② たての長さが114cm，横の長さが5mの長方形

114cm × 5m = 114cm × 500cm = 57000cm²

57000 cm²

③ たての長さが2m，横の長さが201cmの長方形

2m × 201cm = 200cm × 201cm = 40200cm²

40200 cm²

④ たての長さが218cm，横の長さが3mの長方形

218cm × 3m = 218cm × 300cm = 65400cm²

65400 cm²

■ 次の「□m²」の形で表された面積を、「□cm²」の形に直しましょう。

⑤ 6m²

60000 cm²

⑥ 13m²

130000 cm²

⑦ 40m²

400000 cm²

大きな面積

年　組　名前

/ 7

■ 次のような長方形の面積を求めましょう。

① たての長さが5m，横の長さが125cmの長方形

5m × 125cm = 500cm × 125cm = 62500cm²

62500 cm²

② たての長さが226cm，横の長さが3mの長方形

226cm × 3m = 226cm × 300cm = 67800cm²

67800 cm²

③ たての長さが228cm，横の長さが4mの長方形

228cm × 4m = 228cm × 400cm = 91200cm²

91200 cm²

④ たての長さが2m，横の長さが230cmの長方形

2m × 230cm = 200cm × 230cm = 46000cm²

46000 cm²

■ 次の「□m²」の形で表された面積を、「□cm²」の形に直しましょう。

⑤ 7m²

70000 cm²

⑥ 19m²

190000 cm²

⑦ 40m²

400000 cm²