角柱

年　組　名前

/ 20

■ いろいろな角柱の底面の数、側面の数、頂点の数、辺の数を答えて表を完成させましょう。

	側面の数	辺の数	底面の数	頂点の数
六角柱				
五角柱				
四角柱				
三角柱				
八角柱				

折りまげてかくす

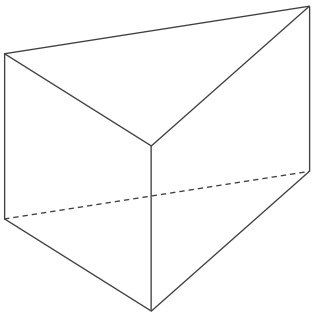

三角柱

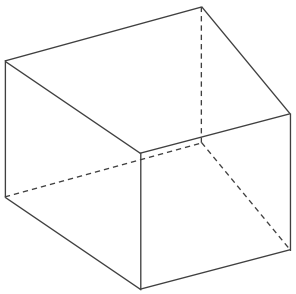

四角柱

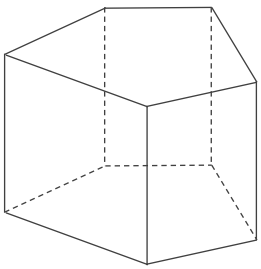

五角柱

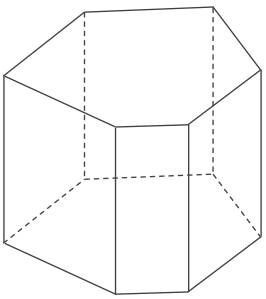

六角柱

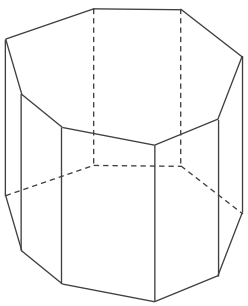

八角柱

角柱

年　組　名前

/ 20

■ いろいろな角柱の底面の数、側面の数、頂点の数、辺の数を答えて表を完成させましょう。

	側面の数	辺の数	底面の数	頂点の数
六角柱	6	18	2	12
五角柱	5	15	2	10
四角柱	4	12	2	8
三角柱	3	9	2	6
八角柱	8	24	2	16

折りまげてかくす

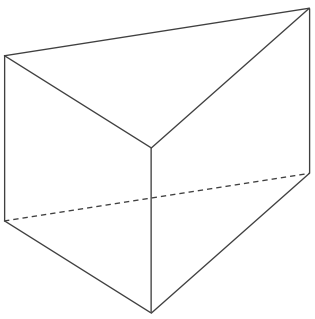

三角柱

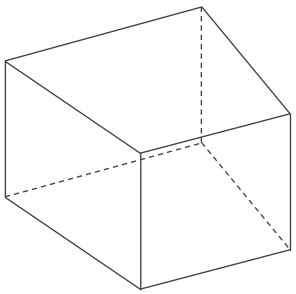

四角柱

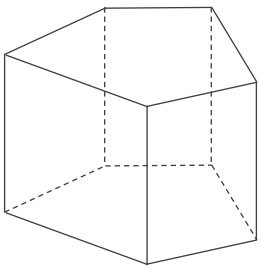

五角柱

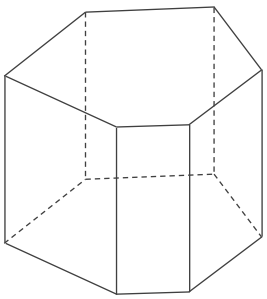

六角柱

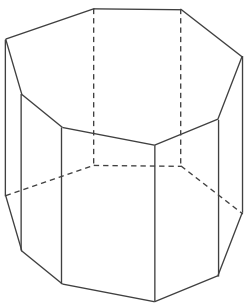

八角柱