角柱

年　組　名前

/ 20

■ いろいろな角柱の底面の数、側面の数、頂点の数、辺の数を答えて表を完成させましょう。

	底面の数	頂点の数	辺の数	側面の数
五角柱				
六角柱				
四角柱				
三角柱				
八角柱				

折りまげてかくす

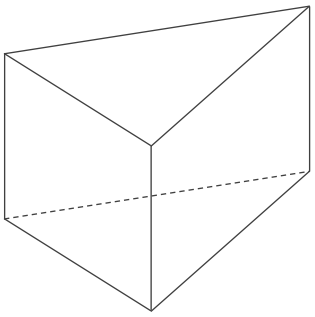

三角柱

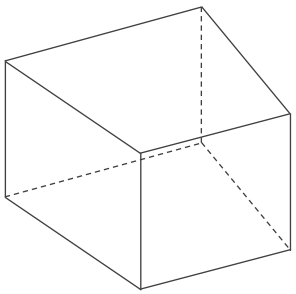

四角柱

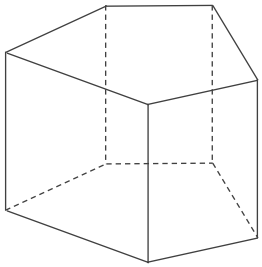

五角柱

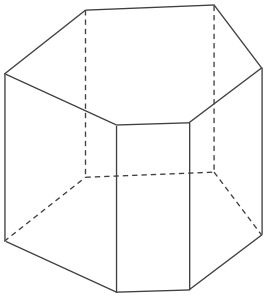

六角柱

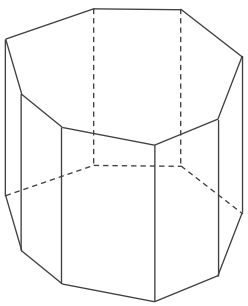

八角柱

角柱

年　組　名前

/ 20

■ いろいろな角柱の底面の数、側面の数、頂点の数、辺の数を答えて表を完成させましょう。

	底面の数	頂点の数	辺の数	側面の数
五角柱	2	10	15	5
六角柱	2	12	18	6
四角柱	2	8	12	4
三角柱	2	6	9	3
八角柱	2	16	24	8

折りまげてかくす

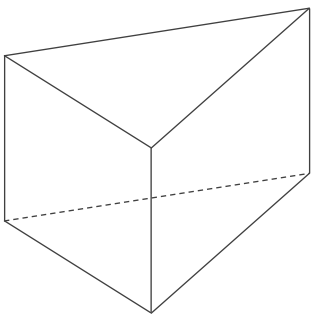

三角柱

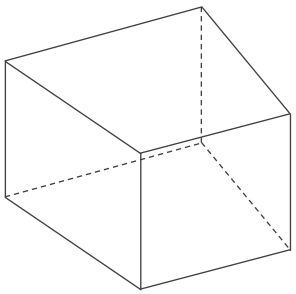

四角柱

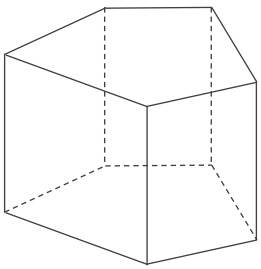

五角柱

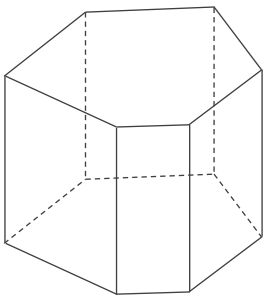

六角柱

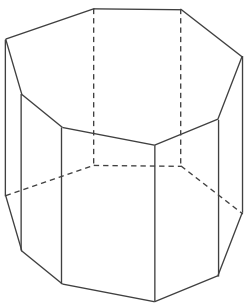

八角柱