# コンパスの使い方

年　　組　名前

/ 4

■ コンパスを使って、あ の点から等しい きょり にある 2つの点を見つけ、記号で答えましょう。

①




②




① と

② と

③




④




③ と

④ と

# コンパスの使い方

年　　組　名前

/ 4

■ コンパスを使って、あ の点から等しい きょり にある 2つの点を見つけ、記号で答えましょう。

①

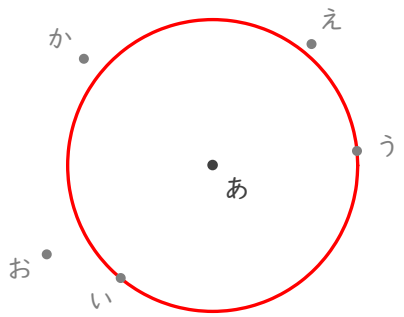


②

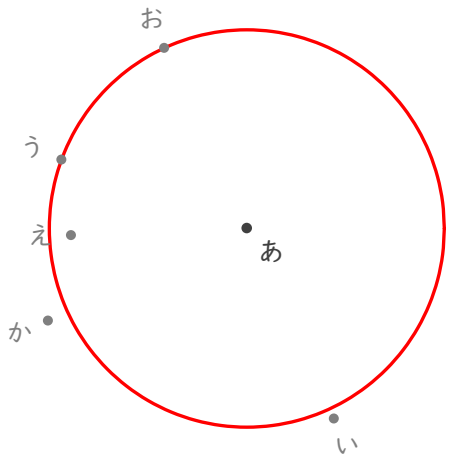


① い　と　う

② う　と　お

③

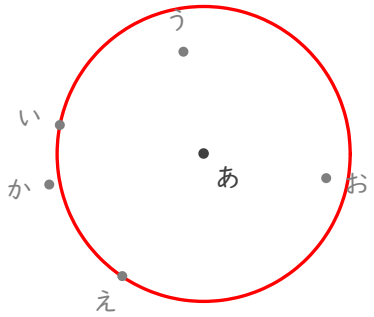


④

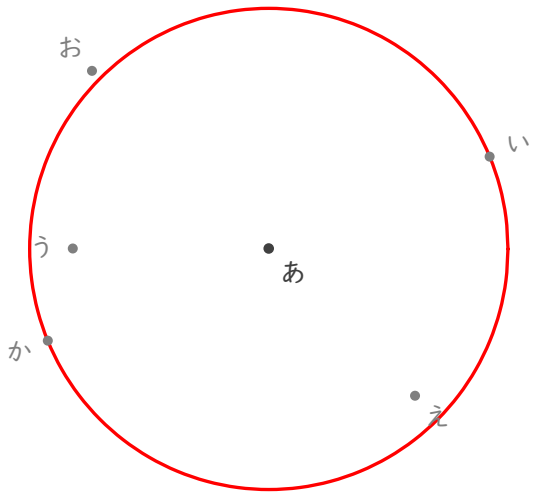


③ い　と　え

④ い　と　か