コンパスの使い方

年　　組　名前

/ 4

■ コンパスを使って、あ の点から等しい きょり にある 2つの点を見つけ、記号で答えましょう。

①



②



① と

② と

③



④



③ と

④ と

コンパスの使い方

年　　組　名前

/ 4

■ コンパスを使って、あ の点から等しい きょり にある 2つの点を見つけ、記号で答えましょう。

①

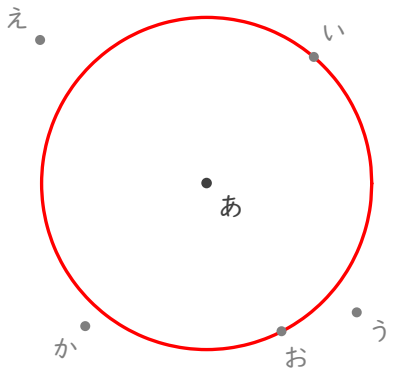

②

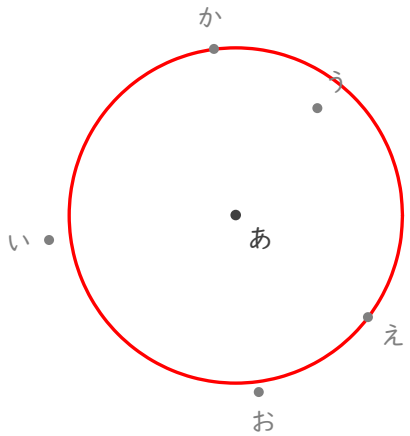

① い　と　お

② え　と　か

③

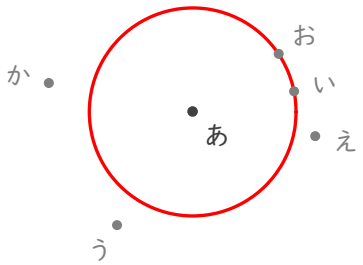

④

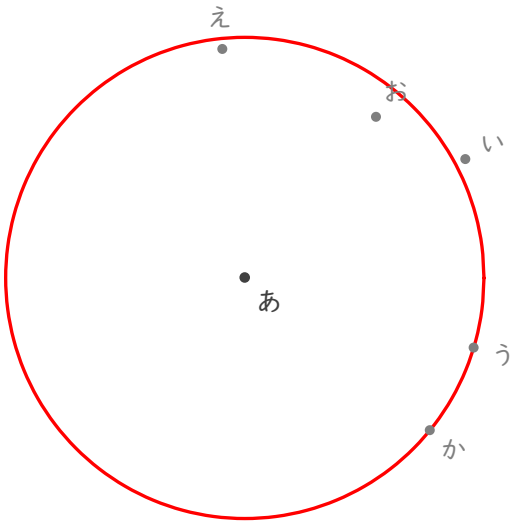

③ い　と　お

④ う　と　か