角柱

年　組　名前

/10

■ 次の各問いに答えましょう。

① 三角柱の側面の数を答えましょう。

② 八角柱の頂点の数を答えましょう。

③ 六角柱の底面の数を答えましょう。

④ 三角柱の頂点の数を答えましょう。

⑤ 六角柱の辺の数を答えましょう。

⑥ 五角柱の面の数を答えましょう。

⑦ 五角柱の底面の形を答えましょう。

⑧ 八角柱の辺の数を答えましょう。

⑨ 四角柱の底面の数を答えましょう。

⑩ 四角柱の側面の数を答えましょう。

折りまげてかくす

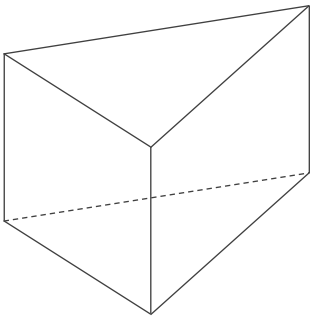

三角柱

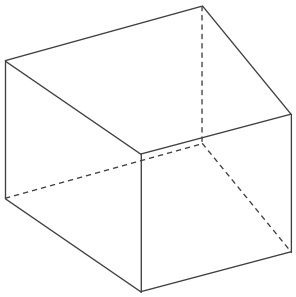

四角柱

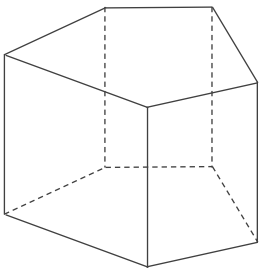

五角柱

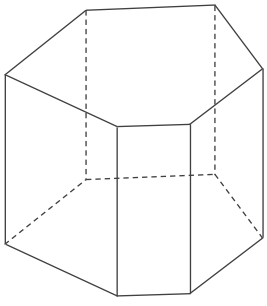

六角柱

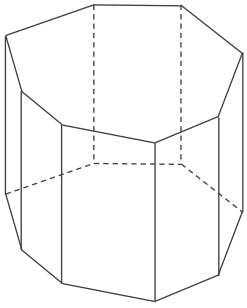

八角柱

角柱

年　組　名前

/10

■ 次の各問いに答えましょう。

① 三角柱の側面の数を答えましょう。

3面

② 八角柱の頂点の数を答えましょう。

16こ

③ 六角柱の底面の数を答えましょう。

2面

④ 三角柱の頂点の数を答えましょう。

6こ

⑤ 六角柱の辺の数を答えましょう。

18本

⑥ 五角柱の面の数を答えましょう。

7面

⑦ 五角柱の底面の形を答えましょう。

五角形

⑧ 八角柱の辺の数を答えましょう。

24本

⑨ 四角柱の底面の数を答えましょう。

2面

⑩ 四角柱の側面の数を答えましょう。

4面

折りまげてかくす

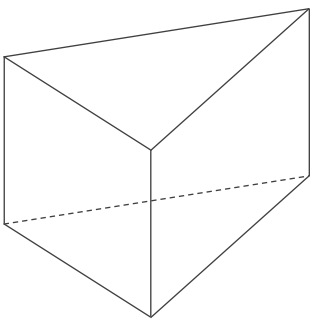

三角柱

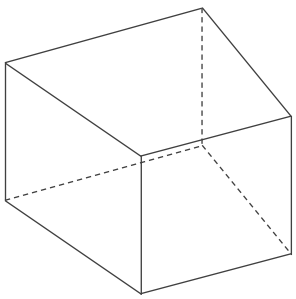

四角柱

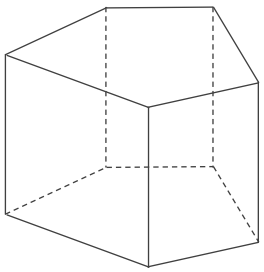

五角柱

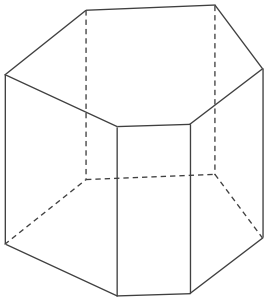

六角柱

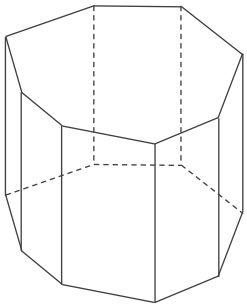

八角柱